Lecture de Balance

Nom:

Utilisez la balance pour répondre à chaque question.

1)

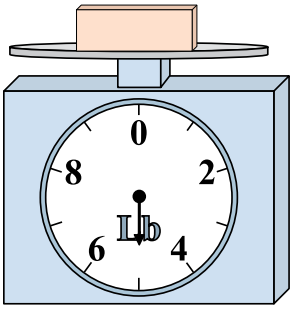

Si le bloc indique qu'il est 3 livres plus léger, combien pèse t-il?

2)



Si le bloc indique qu'il est 5 onces plus léger, combien pèse t-il?

3)



Quel est le poids (en livres) d\'un bloce?

4)



Quel est le poids (en onces)) d'un bloce?

5)



Si le bloc indique qu'il est 7 livres plus lourd, combien pèse t-il?

6)

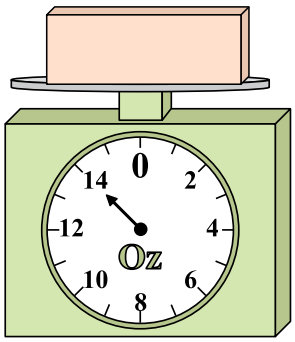

Si vous avez 10 blocs qui font le même poids, combien de onces total pèsent tous les blocs?

7)

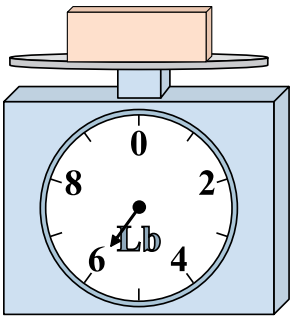

Si le bloc indique qu'il est 6 livres plus lourd, combien pèse t-il?

8)

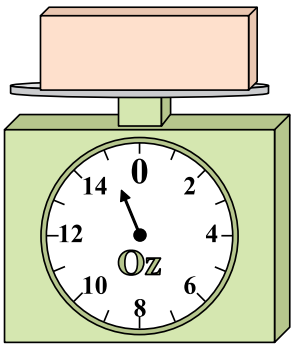

Quel est le poids (en onces)) d'un bloce?

9)



Si vous avez 6 blocs qui font le même poids, combien de livres total pèsent tous les blocs?

Réponses

1. _____
2. _____
3. _____
4. _____
5. _____
6. _____
7. _____
8. _____
9. _____

1-9	89	78	67	56	44	33	22	11	0

Lecture de Balance

Nom: **Clé**

Utilisez la balance pour répondre à chaque question.

1)

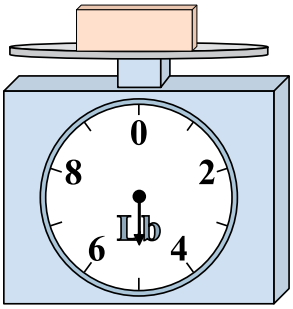

Si le bloc indique qu'il est 3 livres plus léger, combien pèse t-il?

2)



Si le bloc indique qu'il est 5 onces plus léger, combien pèse t-il?

3)



Quel est le poids (en livres) d\'un bloce?

4)



Quel est le poids (en onces)) d'un bloce?

5)



Si le bloc indique qu'il est 7 livres plus lourd, combien pèse t-il?

6)

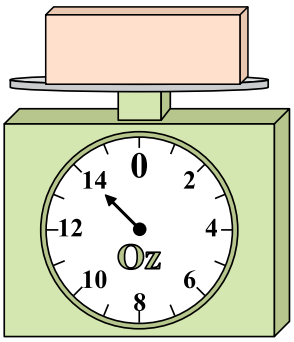

Si vous avez 10 blocs qui font le même poids, combien de onces total pèsent tous les blocs?

7)

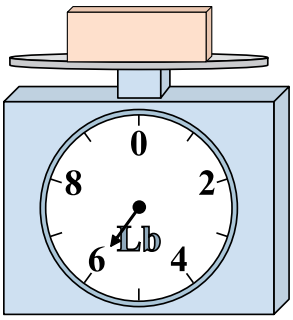

Si le bloc indique qu'il est 6 livres plus lourd, combien pèse t-il?

8)

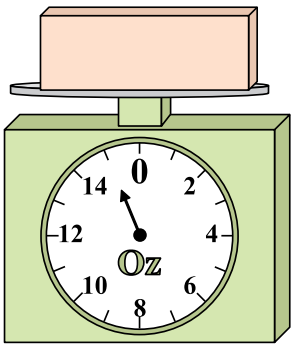

Quel est le poids (en onces)) d'un bloce?

9)



Si vous avez 6 blocs qui font le même poids, combien de livres total pèsent tous les blocs?

Réponses

1. **2**
2. **3**
3. **8**
4. **8**
5. **15**
6. **140**
7. **12**
8. **15**
9. **24**

1-9	89	78	67	56	44	33	22	11	0