Création de rectangles de zone et de périmètre Nom:

Utilisez les diagrammes ci-dessous pour créer un rectangle avec l'aire/le périmètre indiqué. Chaque SVGREPLACE = 1 unité(u). Répondez avec la longueur et la hauteur. Les réponses varieront.

1) Périmètre des unités 6.

2) Périmètre des unités 34.

3) Périmètre des unités 14.

4) Périmètre des unités 24.

5) Superficie des unités carrées 12.

6) Superficie des unités carrées 32.

7) Superficie des unités carrées 40.

8) Superficie des unités carrées 27.

9) Superficie des unités carrées 5.

10) Périmètre des unités 16.

11) Périmètre des unités 10.

12) Périmètre des unités 30.

Réponses

1. ___ ___ =6u
2. ___ ___ =34u
3. ___ ___ =14u
4. ___ ___ =24u
5. ___ ___ =12u^2
6. ___ ___ =32u^2
7. ___ ___ =40u^2
8. ___ ___ =27u^2
9. ___ ___ =5u^2
10. ___ ___ =16u
11. ___ ___ =10u
12. ___ ___ =30u

1-10	92	83	75	67	58	50	42	33	25	17
11-12	8	0								

Création de rectangles de zone et de périmètre Nom: **Clé**

Utilisez les diagrammes ci-dessous pour créer un rectangle avec l'aire/le périmètre indiqué. Chaque SVGREPLACE = 1 unité(u). Répondez avec la longueur et la hauteur. Les réponses varieront.

1) Périmètre des unités 6.



2) Périmètre des unités 34.



3) Périmètre des unités 14.



4) Périmètre des unités 24.



5) Superficie des unités carrées 12.



6) Superficie des unités carrées 32.



7) Superficie des unités carrées 40.



8) Superficie des unités carrées 27.



9) Superficie des unités carrées 5.



10) Périmètre des unités 16.



11) Périmètre des unités 10.



12) Périmètre des unités 30.



Réponses

1. ____ ____ =6u
2. ____ ____ =34u
3. ____ ____ =14u
4. ____ ____ =24u
5. ____ ____ $=12u^2$
6. ____ ____ $=32u^2$
7. ____ ____ $=40u^2$
8. ____ ____ $=27u^2$
9. ____ ____ $=5u^2$
10. ____ ____ =16u
11. ____ ____ =10u
12. ____ ____ =30u

1-10	92	83	75	67	58	50	42	33	25	17
11-12	8	0								