Création de rectangles de zone et de périmètre Nom:

Utilisez les diagrammes ci-dessous pour créer un rectangle avec l'aire/le périmètre indiqué. Chaque SVGREPLACE = 1 unité(u). Répondez avec la longueur et la hauteur. Les réponses varieront.

1) Superficie des unités carrées 35.



2) Périmètre des unités 22.



3) Périmètre des unités 20.



4) Superficie des unités carrées 63.



5) Périmètre des unités 8.



6) Périmètre des unités 38.



7) Périmètre des unités 10.



8) Superficie des unités carrées 56.



9) Périmètre des unités 6.



10) Superficie des unités carrées 64.



11) Superficie des unités carrées 15.



12) Périmètre des unités 24.



Réponses

1. ____ ____ =35u^2
2. ____ ____ =22u
3. ____ ____ =20u
4. ____ ____ =63u^2
5. ____ ____ =8u
6. ____ ____ =38u
7. ____ ____ =10u
8. ____ ____ =56u^2
9. ____ ____ =6u
10. ____ ____ =64u^2
11. ____ ____ =15u^2
12. ____ ____ =24u

1-10	92	83	75	67	58	50	42	33	25	17
11-12	8	0								

Création de rectangles de zone et de périmètre Nom: **Clé**

Utilisez les diagrammes ci-dessous pour créer un rectangle avec l'aire/le périmètre indiqué. Chaque SVGREPLACE = 1 unité(u). Répondez avec la longueur et la hauteur. Les réponses varieront.

1) Superficie des unités carrées 35.



2) Périmètre des unités 22.



3) Périmètre des unités 20.



4) Superficie des unités carrées 63.



5) Périmètre des unités 8.



6) Périmètre des unités 38.



7) Périmètre des unités 10.



8) Superficie des unités carrées 56.



9) Périmètre des unités 6.



10) Superficie des unités carrées 64.



11) Superficie des unités carrées 15.



12) Périmètre des unités 24.



Réponses

1. ____ ____ =35u^2
2. ____ ____ =22u
3. ____ ____ =20u
4. ____ ____ =63u^2
5. ____ ____ =8u
6. ____ ____ =38u
7. ____ ____ =10u
8. ____ ____ =56u^2
9. ____ ____ =6u
10. ____ ____ =64u^2
11. ____ ____ =15u^2
12. ____ ____ =24u

1-10	92	83	75	67	58	50	42	33	25	17
11-12	8	0								