Distribution des valeurs de tracé de ligne

Nom:

Résoudre chaque problème.

1) Le tracé linéaire ci-dessous montre le poids (en kilogrammes) que contient chaque étagère d'armoire.

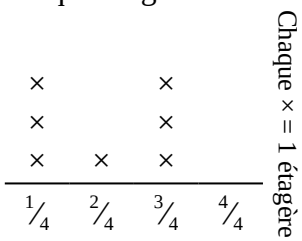

Trouvez la quantité de poids que chaque étagère aurait si le poids était redistribué de manière égale.

2) Le graphique linéaire ci-dessous montre la quantité d'eau qu'une plante a reçue (en tasses) au cours de {8} jours.

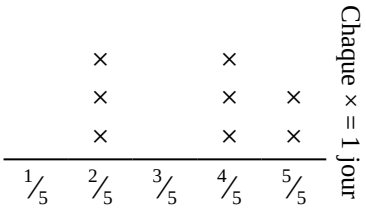

Trouvez combien de tasses d'eau la plante aurait reçue si elle en recevait la même quantité chaque jour.

3) Le graphique linéaire ci-dessous montre la quantité de liquide (en litres) dans différents conteneurs.

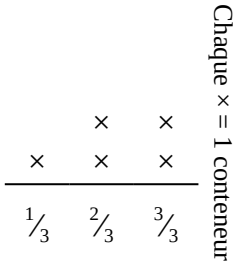

Trouvez la quantité de liquide que chaque contenant aurait si la quantité totale était redistribuée également.

4) La courbe ci-dessous montre le poids (en grammes) des bouteilles de vitamines.

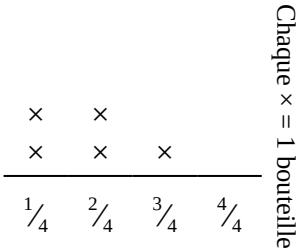

Si vous deviez redistribuer les vitamines, de sorte que chaque bouteille pèse la même quantité, quel serait le poids de chaque bouteille ?

5) Le graphique ci-dessous montre les kilos de bonbons qu'un groupe d'amis a reçus.

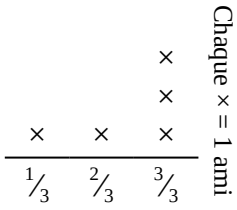

S'ils partageaient la quantité totale de bonbons à parts égales, combien chaque ami obtiendrait-il ?

6) Le tracé linéaire ci-dessous montre le poids (en tonnes) des cartons sur palettes.

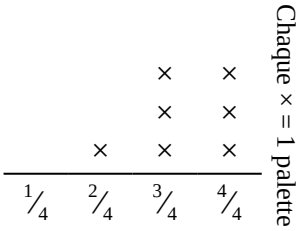

Si le poids était redistribué uniformément, quel serait le poids sur chaque palette ?

Réponses

1. _____
2. _____
3. _____
4. _____
5. _____
6. _____

1-6	83	67	50	33	17	0

Distribution des valeurs de tracé de ligne Nom: **Clé**

Résoudre chaque problème.

1) Le tracé linéaire ci-dessous montre le poids (en kilogrammes) que contient chaque étagère d'armoire.

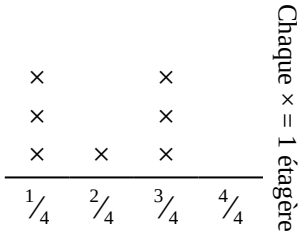

Trouvez la quantité de poids que chaque étagère aurait si le poids était redistribué de manière égale.

2) Le graphique linéaire ci-dessous montre la quantité d'eau qu'une plante a reçue (en tasses) au cours de {8} jours.

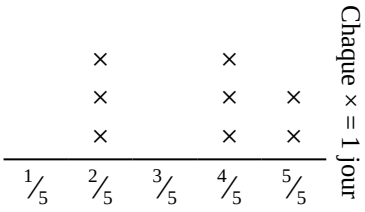

Trouvez combien de tasses d'eau la plante aurait reçue si elle en recevait la même quantité chaque jour.

3) Le graphique linéaire ci-dessous montre la quantité de liquide (en litres) dans différents conteneurs.

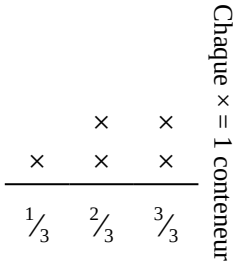

Trouvez la quantité de liquide que chaque contenant aurait si la quantité totale était redistribuée également.

4) La courbe ci-dessous montre le poids (en grammes) des bouteilles de vitamines.

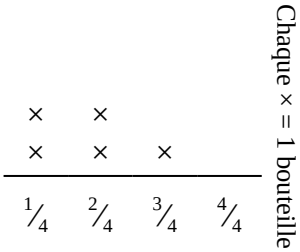

Si vous deviez redistribuer les vitamines, de sorte que chaque bouteille pèse la même quantité, quel serait le poids de chaque bouteille ?

5) Le graphique ci-dessous montre les kilos de bonbons qu'un groupe d'amis a reçus.

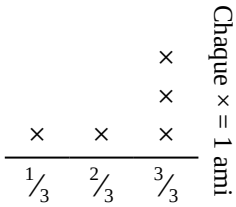

S'ils partageaient la quantité totale de bonbons à parts égales, combien chaque ami obtiendrait-il ?

6) Le tracé linéaire ci-dessous montre le poids (en tonnes) des cartons sur palettes.

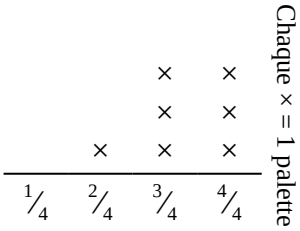

Si le poids était redistribué uniformément, quel serait le poids sur chaque palette ?

Réponses

1. $^{14}/_{28} = {}^{1}/_{2}$
2. $^{28}/_{40} = {}^{7}/_{10}$
3. $^{11}/_{15}$
4. $^{9}/_{20}$
5. $^{12}/_{15} = {}^{4}/_{5}$
6. $^{23}/_{28}$

1-6	83	67	50	33	17	0