Résoudre chaque problème.

1) Écrivez $^{3}/_{3}$ sous la forme d'un nombre entier.



2) Écrivez $^{1}/_{3}$ sous la forme d'un nombre entier.

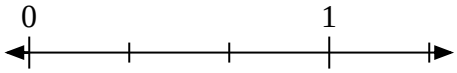

3) Écrivez $^{1}/_{7}$ sous la forme d'un nombre entier.

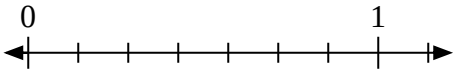

4) Écrivez $^{0}/_{7}$ sous la forme d'un nombre entier.

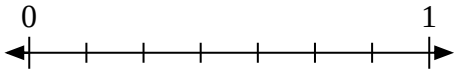

5) Écrivez $^{5}/_{8}$ sous la forme d'un nombre entier.

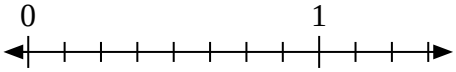

6) Écrivez $^{3}/_{4}$ sous la forme d'un nombre entier.



7) Écrivez $^{4}/_{8}$ sous la forme d'un nombre entier.

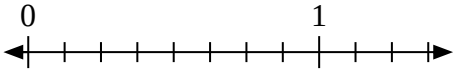

8) Écrivez $^{2}/_{7}$ sous la forme d'un nombre entier.

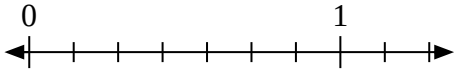

9) Écrivez $^{1}/_{5}$ sous la forme d'un nombre entier.

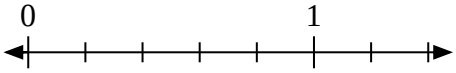

10) Écrivez $^{2}/_{2}$ sous la forme d'un nombre entier.

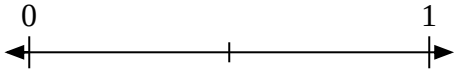

11) Écrivez $^{5}/_{7}$ sous la forme d'un nombre entier.

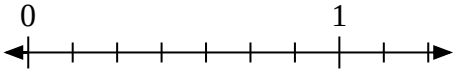

12) Écrivez $^{7}/_{8}$ sous la forme d'un nombre entier.

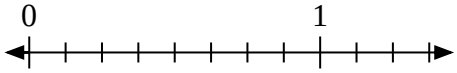

13) Écrivez $^{2}/_{4}$ sous la forme d'un nombre entier.

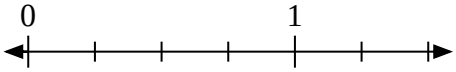

14) Écrivez $^{1}/_{4}$ sous la forme d'un nombre entier.

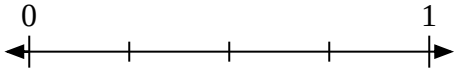

15) Écrivez $^{8}/_{8}$ sous la forme d'un nombre entier.

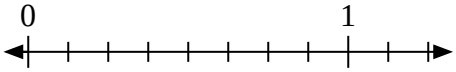

16) Écrivez $^{2}/_{6}$ sous la forme d'un nombre entier.

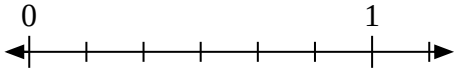

1-10	94	88	81	75	69	63	56	50	44	38
11-16	31	25	19	13	6	0				

Fractions de Nombres Entiers Nom: **Clé**

Résoudre chaque problème.

1) Écrivez $^{3}/_{3}$ sous la forme d'un nombre entier.



2) Écrivez $^{1}/_{3}$ sous la forme d'un nombre entier.

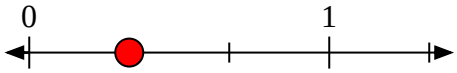

3) Écrivez $^{1}/_{7}$ sous la forme d'un nombre entier.

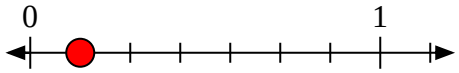

4) Écrivez $^{0}/_{7}$ sous la forme d'un nombre entier.

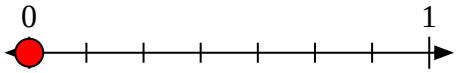

5) Écrivez $^{5}/_{8}$ sous la forme d'un nombre entier.

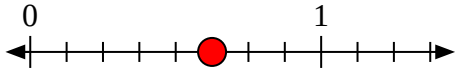

6) Écrivez $^{3}/_{4}$ sous la forme d'un nombre entier.

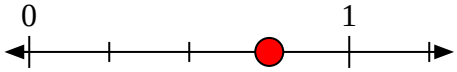

7) Écrivez $^{4}/_{8}$ sous la forme d'un nombre entier.

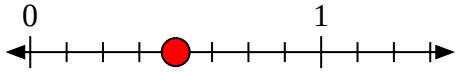

8) Écrivez $^{2}/_{7}$ sous la forme d'un nombre entier.

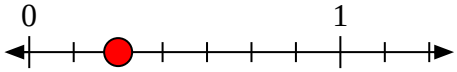

9) Écrivez $^{1}/_{5}$ sous la forme d'un nombre entier.

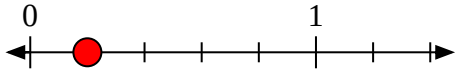

10) Écrivez $^{2}/_{2}$ sous la forme d'un nombre entier.

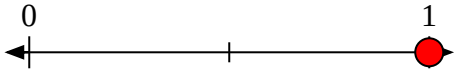

11) Écrivez $^{5}/_{7}$ sous la forme d'un nombre entier.

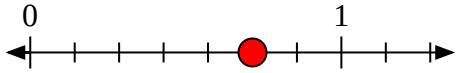

12) Écrivez $^{7}/_{8}$ sous la forme d'un nombre entier.

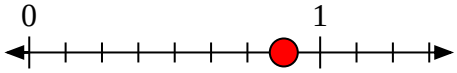

13) Écrivez $^{2}/_{4}$ sous la forme d'un nombre entier.

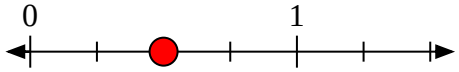

14) Écrivez $^{1}/_{4}$ sous la forme d'un nombre entier.

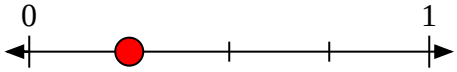

15) Écrivez $^{8}/_{8}$ sous la forme d'un nombre entier.

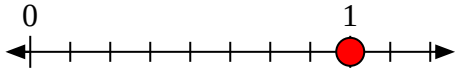

16) Écrivez $^{2}/_{6}$ sous la forme d'un nombre entier.

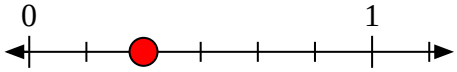

1-10	94	88	81	75	69	63	56	50	44	38
11-16	31	25	19	13	6	0				

Résoudre chaque problème.

1) Écrivez $^{1}/_{7}$ sous la forme d'un nombre entier.

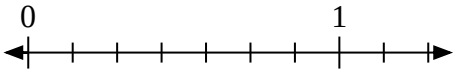

2) Écrivez $^{0}/_{3}$ sous la forme d'un nombre entier.

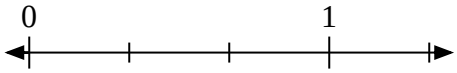

3) Écrivez $^{2}/_{6}$ sous la forme d'un nombre entier.

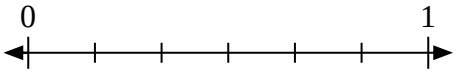

4) Écrivez $^{7}/_{8}$ sous la forme d'un nombre entier.

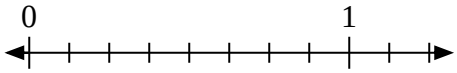

5) Écrivez $^{0}/_{8}$ sous la forme d'un nombre entier.

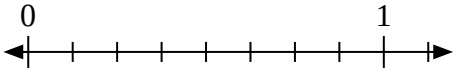

6) Écrivez $^{4}/_{4}$ sous la forme d'un nombre entier.



7) Écrivez $^{7}/_{7}$ sous la forme d'un nombre entier.

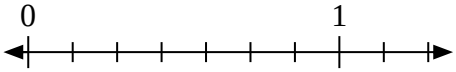

8) Écrivez $^{3}/_{3}$ sous la forme d'un nombre entier.



9) Écrivez $^{1}/_{2}$ sous la forme d'un nombre entier.

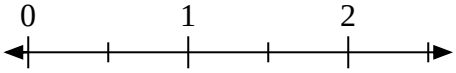

10) Écrivez $^{0}/_{4}$ sous la forme d'un nombre entier.

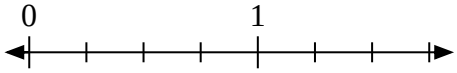

11) Écrivez $^{0}/_{7}$ sous la forme d'un nombre entier.

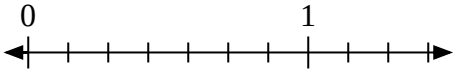

12) Écrivez $^{0}/_{2}$ sous la forme d'un nombre entier.

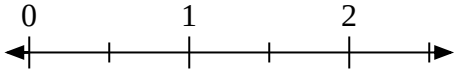

13) Écrivez $^{4}/_{6}$ sous la forme d'un nombre entier.

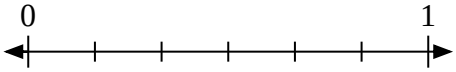

14) Écrivez $^{5}/_{7}$ sous la forme d'un nombre entier.

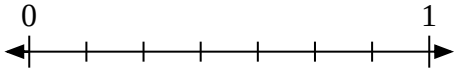

15) Écrivez $^{0}/_{5}$ sous la forme d'un nombre entier.

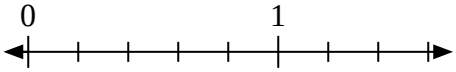

16) Écrivez $^{2}/_{2}$ sous la forme d'un nombre entier.

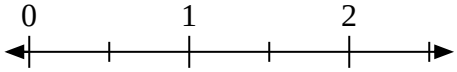

1-10	94	88	81	75	69	63	56	50	44	38
11-16	31	25	19	13	6	0				

Résoudre chaque problème.

1) Écrivez $^{1}/_{7}$ sous la forme d'un nombre entier.

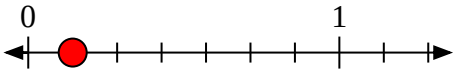

2) Écrivez $^{0}/_{3}$ sous la forme d'un nombre entier.

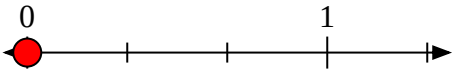

3) Écrivez $^{2}/_{6}$ sous la forme d'un nombre entier.

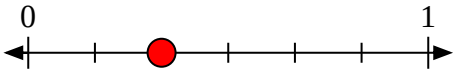

4) Écrivez $^{7}/_{8}$ sous la forme d'un nombre entier.

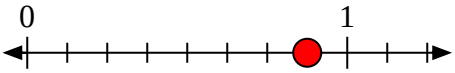

5) Écrivez $^{0}/_{8}$ sous la forme d'un nombre entier.

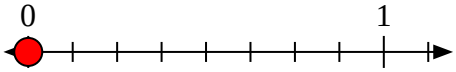

6) Écrivez $^{4}/_{4}$ sous la forme d'un nombre entier.



7) Écrivez $^{7}/_{7}$ sous la forme d'un nombre entier.

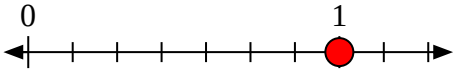

8) Écrivez $^{3}/_{3}$ sous la forme d'un nombre entier.

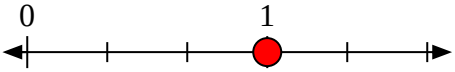

9) Écrivez $^{1}/_{2}$ sous la forme d'un nombre entier.

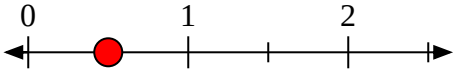

10) Écrivez $^{0}/_{4}$ sous la forme d'un nombre entier.

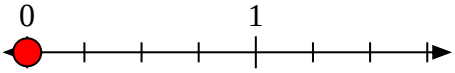

11) Écrivez $^{0}/_{7}$ sous la forme d'un nombre entier.

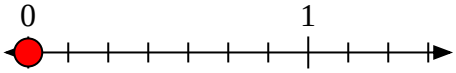

12) Écrivez $^{0}/_{2}$ sous la forme d'un nombre entier.

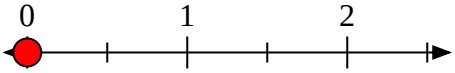

13) Écrivez $^{4}/_{6}$ sous la forme d'un nombre entier.

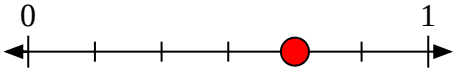

14) Écrivez $^{5}/_{7}$ sous la forme d'un nombre entier.

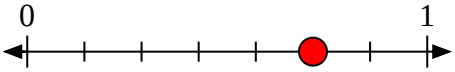

15) Écrivez $^{0}/_{5}$ sous la forme d'un nombre entier.

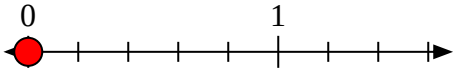

16) Écrivez $^{2}/_{2}$ sous la forme d'un nombre entier.

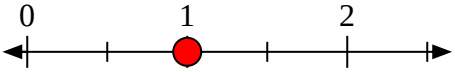

1-10	94	88	81	75	69	63	56	50	44	38
11-16	31	25	19	13	6	0				

Résoudre chaque problème.

1) Écrivez $^{0}/_{3}$ sous la forme d'un nombre entier.

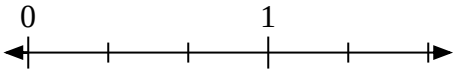

2) Écrivez $^{0}/_{4}$ sous la forme d'un nombre entier.

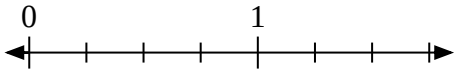

3) Écrivez $^{1}/_{2}$ sous la forme d'un nombre entier.

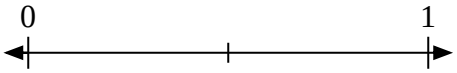

4) Écrivez $^{2}/_{4}$ sous la forme d'un nombre entier.

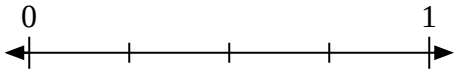

5) Écrivez $^{2}/_{9}$ sous la forme d'un nombre entier.

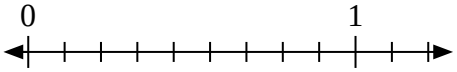

6) Écrivez $^{6}/_{6}$ sous la forme d'un nombre entier.

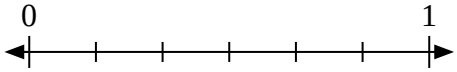

7) Écrivez $^{2}/_{3}$ sous la forme d'un nombre entier.

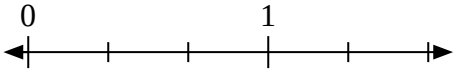

8) Écrivez $^{9}/_{9}$ sous la forme d'un nombre entier.

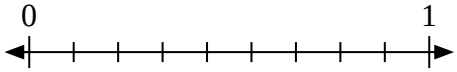

9) Écrivez $^{5}/_{8}$ sous la forme d'un nombre entier.

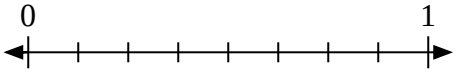

10) Écrivez $^{0}/_{2}$ sous la forme d'un nombre entier.

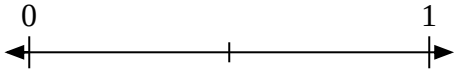

11) Écrivez $^{4}/_{7}$ sous la forme d'un nombre entier.

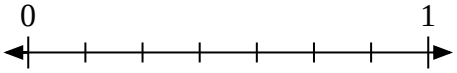

12) Écrivez $^{5}/_{9}$ sous la forme d'un nombre entier.

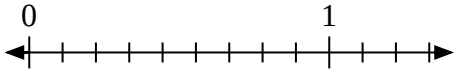

13) Écrivez $^{0}/_{7}$ sous la forme d'un nombre entier.

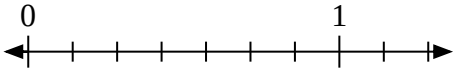

14) Écrivez $^{0}/_{9}$ sous la forme d'un nombre entier.

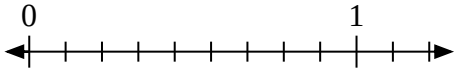

15) Écrivez $^{1}/_{7}$ sous la forme d'un nombre entier.

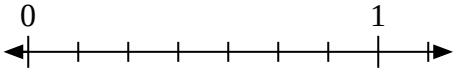

16) Écrivez $^{1}/_{6}$ sous la forme d'un nombre entier.

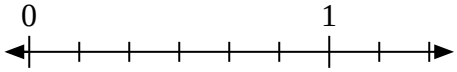

1-10	94	88	81	75	69	63	56	50	44	38
11-16	31	25	19	13	6	0				

Résoudre chaque problème.

1) Écrivez $^{0}/_{3}$ sous la forme d'un nombre entier.

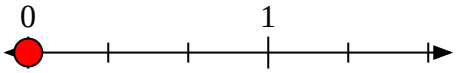

2) Écrivez $^{0}/_{4}$ sous la forme d'un nombre entier.

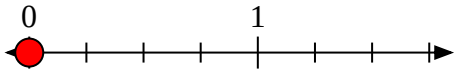

3) Écrivez $^{1}/_{2}$ sous la forme d'un nombre entier.

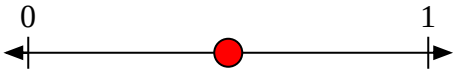

4) Écrivez $^{2}/_{4}$ sous la forme d'un nombre entier.

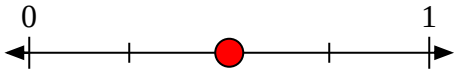

5) Écrivez $^{2}/_{9}$ sous la forme d'un nombre entier.

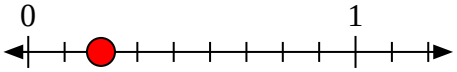

6) Écrivez $^{6}/_{6}$ sous la forme d'un nombre entier.

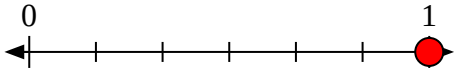

7) Écrivez $^{2}/_{3}$ sous la forme d'un nombre entier.

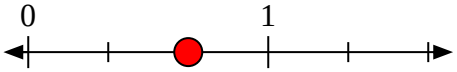

8) Écrivez $^{9}/_{9}$ sous la forme d'un nombre entier.

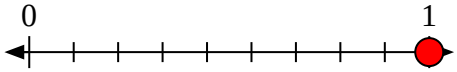

9) Écrivez $^{5}/_{8}$ sous la forme d'un nombre entier.

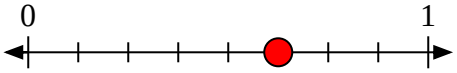

10) Écrivez $^{0}/_{2}$ sous la forme d'un nombre entier.

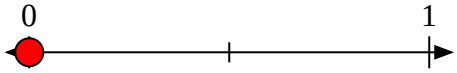

11) Écrivez $^{4}/_{7}$ sous la forme d'un nombre entier.

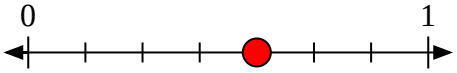

12) Écrivez $^{5}/_{9}$ sous la forme d'un nombre entier.

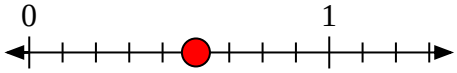

13) Écrivez $^{0}/_{7}$ sous la forme d'un nombre entier.

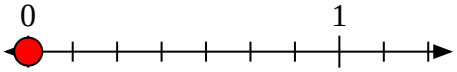

14) Écrivez $^{0}/_{9}$ sous la forme d'un nombre entier.

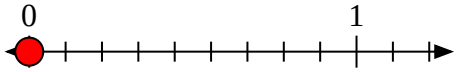

15) Écrivez $^{1}/_{7}$ sous la forme d'un nombre entier.

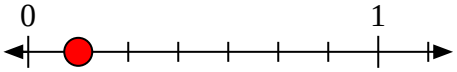

16) Écrivez $^{1}/_{6}$ sous la forme d'un nombre entier.

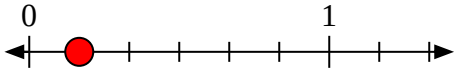

1-10	94	88	81	75	69	63	56	50	44	38
11-16	31	25	19	13	6	0				

Résoudre chaque problème.

1) Écrivez $^{1}/_{3}$ sous la forme d'un nombre entier.

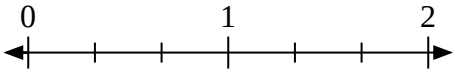

2) Écrivez $^{2}/_{6}$ sous la forme d'un nombre entier.

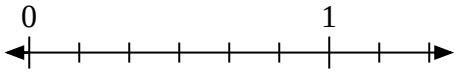

3) Écrivez $^{6}/_{8}$ sous la forme d'un nombre entier.

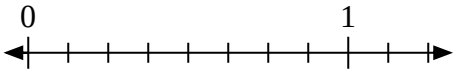

4) Écrivez $^{2}/_{4}$ sous la forme d'un nombre entier.

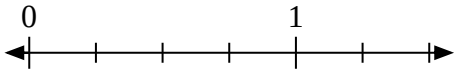

5) Écrivez $^{4}/_{8}$ sous la forme d'un nombre entier.

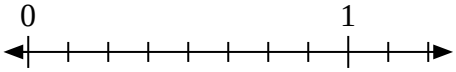

6) Écrivez $^{0}/_{2}$ sous la forme d'un nombre entier.



7) Écrivez $^{8}/_{8}$ sous la forme d'un nombre entier.

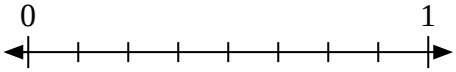

8) Écrivez $^{8}/_{9}$ sous la forme d'un nombre entier.

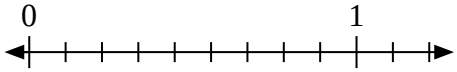

9) Écrivez $^{9}/_{9}$ sous la forme d'un nombre entier.

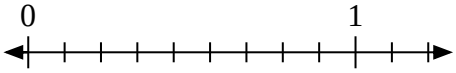

10) Écrivez $^{4}/_{6}$ sous la forme d'un nombre entier.

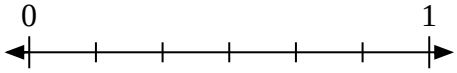

11) Écrivez $^{3}/_{3}$ sous la forme d'un nombre entier.

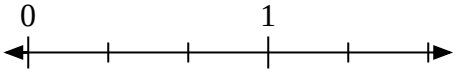

12) Écrivez $^{2}/_{8}$ sous la forme d'un nombre entier.

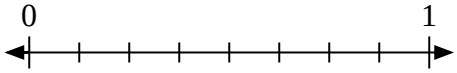

13) Écrivez $^{0}/_{7}$ sous la forme d'un nombre entier.

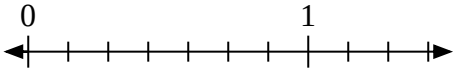

14) Écrivez $^{3}/_{6}$ sous la forme d'un nombre entier.

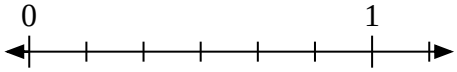

15) Écrivez $^{1}/_{6}$ sous la forme d'un nombre entier.

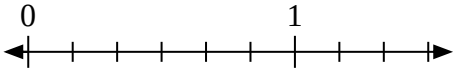

16) Écrivez $^{2}/_{2}$ sous la forme d'un nombre entier.



1-10	94	88	81	75	69	63	56	50	44	38
11-16	31	25	19	13	6	0				

Résoudre chaque problème.

1) Écrivez $^{1}/_{3}$ sous la forme d'un nombre entier.

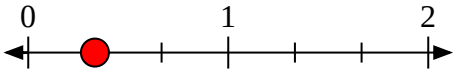

2) Écrivez $^{2}/_{6}$ sous la forme d'un nombre entier.

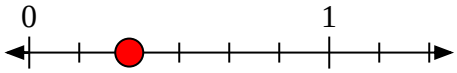

3) Écrivez $^{6}/_{8}$ sous la forme d'un nombre entier.

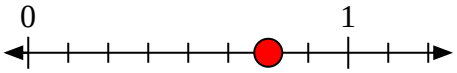

4) Écrivez $^{2}/_{4}$ sous la forme d'un nombre entier.

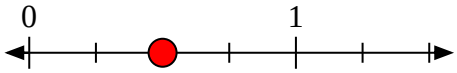

5) Écrivez $^{4}/_{8}$ sous la forme d'un nombre entier.

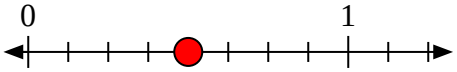

6) Écrivez $^{0}/_{2}$ sous la forme d'un nombre entier.



7) Écrivez $^{8}/_{8}$ sous la forme d'un nombre entier.

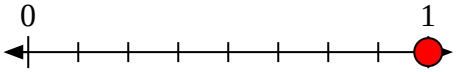

8) Écrivez $^{8}/_{9}$ sous la forme d'un nombre entier.

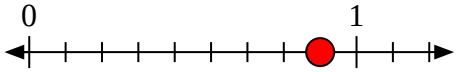

9) Écrivez $^{9}/_{9}$ sous la forme d'un nombre entier.

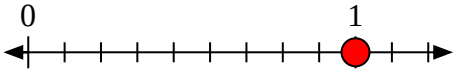

10) Écrivez $^{4}/_{6}$ sous la forme d'un nombre entier.

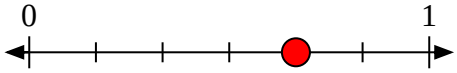

11) Écrivez $^{3}/_{3}$ sous la forme d'un nombre entier.

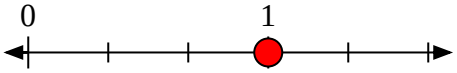

12) Écrivez $^{2}/_{8}$ sous la forme d'un nombre entier.

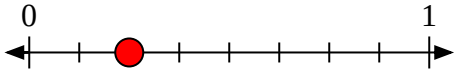

13) Écrivez $^{0}/_{7}$ sous la forme d'un nombre entier.

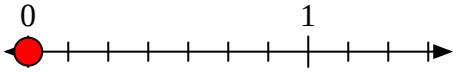

14) Écrivez $^{3}/_{6}$ sous la forme d'un nombre entier.

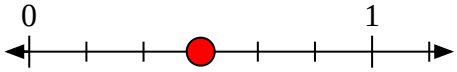

15) Écrivez $^{1}/_{6}$ sous la forme d'un nombre entier.

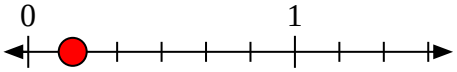

16) Écrivez $^{2}/_{2}$ sous la forme d'un nombre entier.



1-10	94	88	81	75	69	63	56	50	44	38
11-16	31	25	19	13	6	0				

Résoudre chaque problème.

1) Écrivez $^{2}/_{5}$ sous la forme d'un nombre entier.



2) Écrivez $^{1}/_{7}$ sous la forme d'un nombre entier.

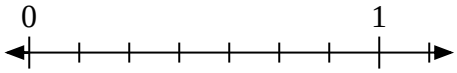

3) Écrivez $^{1}/_{6}$ sous la forme d'un nombre entier.

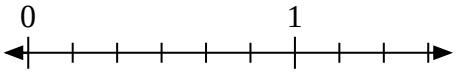

4) Écrivez $^{2}/_{3}$ sous la forme d'un nombre entier.

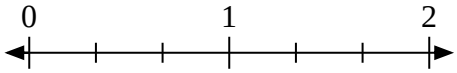

5) Écrivez $^{1}/_{2}$ sous la forme d'un nombre entier.

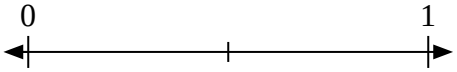

6) Écrivez $^{0}/_{5}$ sous la forme d'un nombre entier.

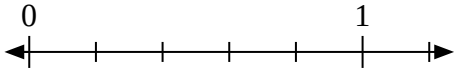

7) Écrivez $^{0}/_{9}$ sous la forme d'un nombre entier.

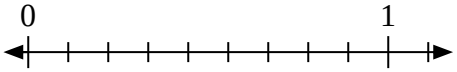

8) Écrivez $^{5}/_{9}$ sous la forme d'un nombre entier.

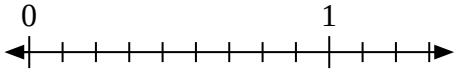

9) Écrivez $^{0}/_{2}$ sous la forme d'un nombre entier.

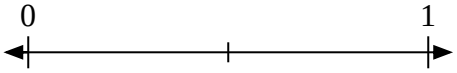

10) Écrivez $^{3}/_{6}$ sous la forme d'un nombre entier.

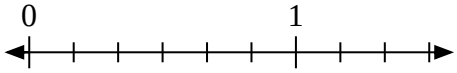

11) Écrivez $^{4}/_{8}$ sous la forme d'un nombre entier.

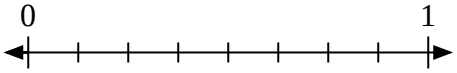

12) Écrivez $^{3}/_{9}$ sous la forme d'un nombre entier.

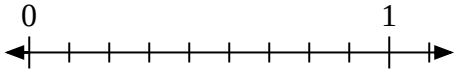

13) Écrivez $^{3}/_{3}$ sous la forme d'un nombre entier.

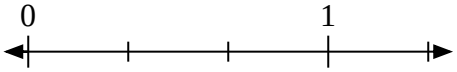

14) Écrivez $^{1}/_{3}$ sous la forme d'un nombre entier.

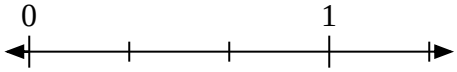

15) Écrivez $^{1}/_{5}$ sous la forme d'un nombre entier.



16) Écrivez $^{4}/_{4}$ sous la forme d'un nombre entier.

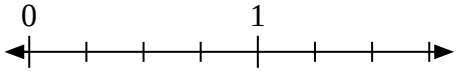

1-10	94	88	81	75	69	63	56	50	44	38
11-16	31	25	19	13	6	0				

Résoudre chaque problème.

1) Écrivez $^{2}/_{5}$ sous la forme d'un nombre entier.

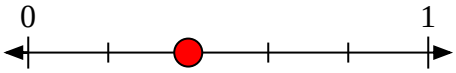

2) Écrivez $^{1}/_{7}$ sous la forme d'un nombre entier.

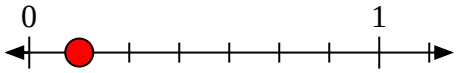

3) Écrivez $^{1}/_{6}$ sous la forme d'un nombre entier.

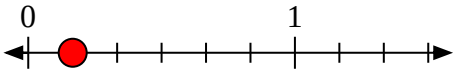

4) Écrivez $^{2}/_{3}$ sous la forme d'un nombre entier.

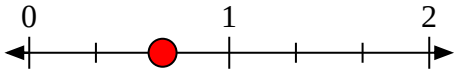

5) Écrivez $^{1}/_{2}$ sous la forme d'un nombre entier.

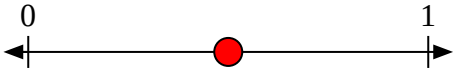

6) Écrivez $^{0}/_{5}$ sous la forme d'un nombre entier.

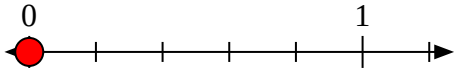

7) Écrivez $^{0}/_{9}$ sous la forme d'un nombre entier.

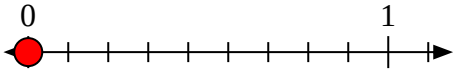

8) Écrivez $^{5}/_{9}$ sous la forme d'un nombre entier.

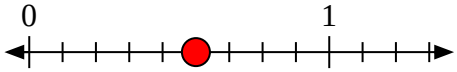

9) Écrivez $^{0}/_{2}$ sous la forme d'un nombre entier.

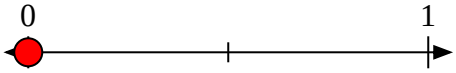

10) Écrivez $^{3}/_{6}$ sous la forme d'un nombre entier.

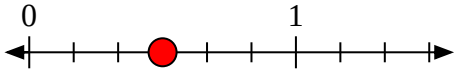

11) Écrivez $^{4}/_{8}$ sous la forme d'un nombre entier.

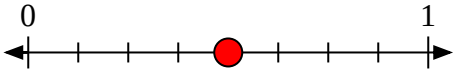

12) Écrivez $^{3}/_{9}$ sous la forme d'un nombre entier.

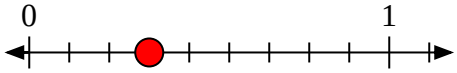

13) Écrivez $^{3}/_{3}$ sous la forme d'un nombre entier.

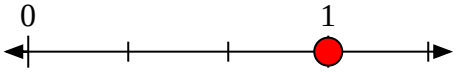

14) Écrivez $^{1}/_{3}$ sous la forme d'un nombre entier.

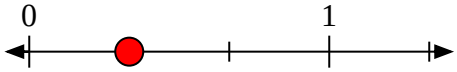

15) Écrivez $^{1}/_{5}$ sous la forme d'un nombre entier.



16) Écrivez $^{4}/_{4}$ sous la forme d'un nombre entier.

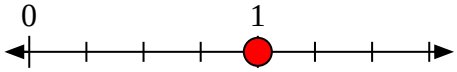

1-10	94	88	81	75	69	63	56	50	44	38
11-16	31	25	19	13	6	0				

Résoudre chaque problème.

1) Écrivez $^{1}/_{2}$ sous la forme d'un nombre entier.



2) Écrivez $^{4}/_{9}$ sous la forme d'un nombre entier.

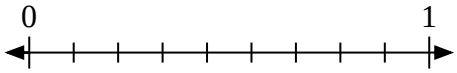

3) Écrivez $^{2}/_{3}$ sous la forme d'un nombre entier.

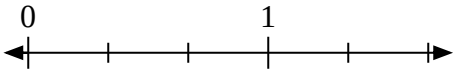

4) Écrivez $^{7}/_{7}$ sous la forme d'un nombre entier.

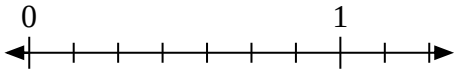

5) Écrivez $^{0}/_{2}$ sous la forme d'un nombre entier.

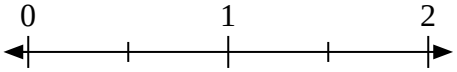

6) Écrivez $^{0}/_{8}$ sous la forme d'un nombre entier.

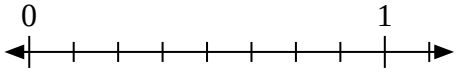

7) Écrivez $^{9}/_{9}$ sous la forme d'un nombre entier.

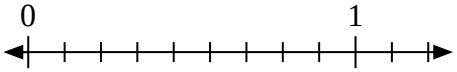

8) Écrivez $^{0}/_{4}$ sous la forme d'un nombre entier.

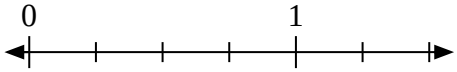

9) Écrivez $^{3}/_{3}$ sous la forme d'un nombre entier.



10) Écrivez $^{2}/_{5}$ sous la forme d'un nombre entier.

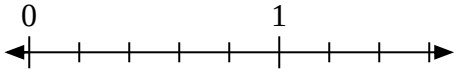

11) Écrivez $^{4}/_{7}$ sous la forme d'un nombre entier.

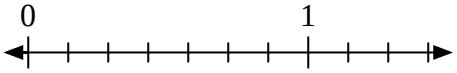

12) Écrivez $^{3}/_{7}$ sous la forme d'un nombre entier.

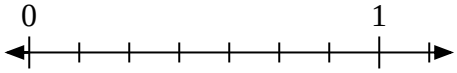

13) Écrivez $^{2}/_{4}$ sous la forme d'un nombre entier.

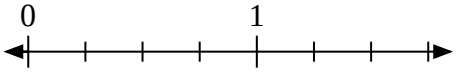

14) Écrivez $^{4}/_{4}$ sous la forme d'un nombre entier.

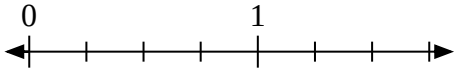

15) Écrivez $^{3}/_{8}$ sous la forme d'un nombre entier.

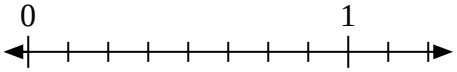

16) Écrivez $^{5}/_{5}$ sous la forme d'un nombre entier.



1-10	94	88	81	75	69	63	56	50	44	38
11-16	31	25	19	13	6	0				

Résoudre chaque problème.

1) Écrivez $^{1}/_{2}$ sous la forme d'un nombre entier.



2) Écrivez $^{4}/_{9}$ sous la forme d'un nombre entier.

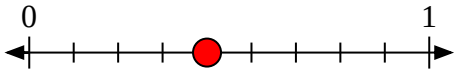

3) Écrivez $^{2}/_{3}$ sous la forme d'un nombre entier.

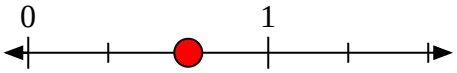

4) Écrivez $^{7}/_{7}$ sous la forme d'un nombre entier.

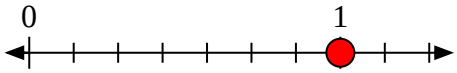

5) Écrivez $^{0}/_{2}$ sous la forme d'un nombre entier.

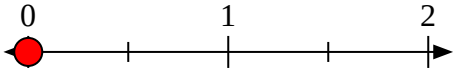

6) Écrivez $^{0}/_{8}$ sous la forme d'un nombre entier.

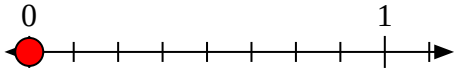

7) Écrivez $^{9}/_{9}$ sous la forme d'un nombre entier.

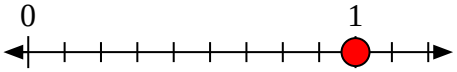

8) Écrivez $^{0}/_{4}$ sous la forme d'un nombre entier.

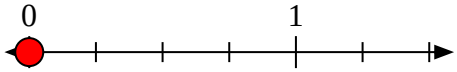

9) Écrivez $^{3}/_{3}$ sous la forme d'un nombre entier.



10) Écrivez $^{2}/_{5}$ sous la forme d'un nombre entier.

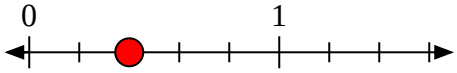

11) Écrivez $^{4}/_{7}$ sous la forme d'un nombre entier.

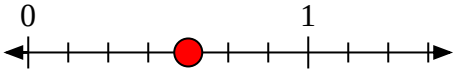

12) Écrivez $^{3}/_{7}$ sous la forme d'un nombre entier.

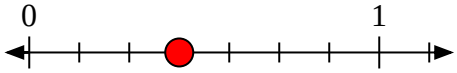

13) Écrivez $^{2}/_{4}$ sous la forme d'un nombre entier.

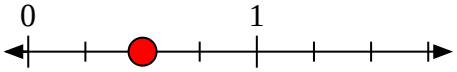

14) Écrivez $^{4}/_{4}$ sous la forme d'un nombre entier.

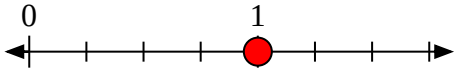

15) Écrivez $^{3}/_{8}$ sous la forme d'un nombre entier.

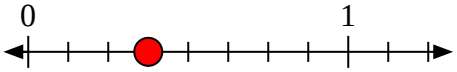

16) Écrivez $^{5}/_{5}$ sous la forme d'un nombre entier.



1-10	94	88	81	75	69	63	56	50	44	38
11-16	31	25	19	13	6	0				

Résoudre chaque problème.

1) Écrivez $^{4}/_{8}$ sous la forme d'un nombre entier.

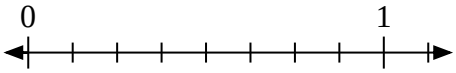

2) Écrivez $^{0}/_{6}$ sous la forme d'un nombre entier.

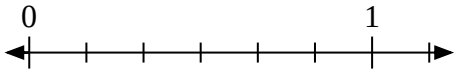

3) Écrivez $^{3}/_{5}$ sous la forme d'un nombre entier.

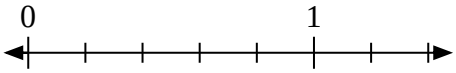

4) Écrivez $^{0}/_{5}$ sous la forme d'un nombre entier.

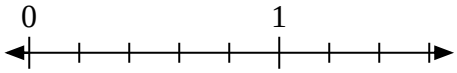

5) Écrivez $^{0}/_{3}$ sous la forme d'un nombre entier.



6) Écrivez $^{4}/_{4}$ sous la forme d'un nombre entier.

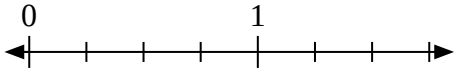

7) Écrivez $^{0}/_{2}$ sous la forme d'un nombre entier.

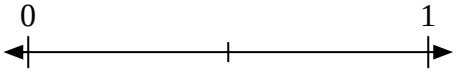

8) Écrivez $^{2}/_{6}$ sous la forme d'un nombre entier.

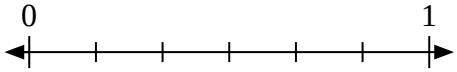

9) Écrivez $^{5}/_{7}$ sous la forme d'un nombre entier.

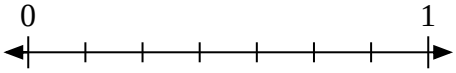

10) Écrivez $^{7}/_{8}$ sous la forme d'un nombre entier.

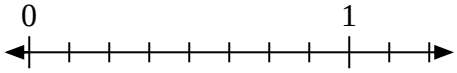

11) Écrivez $^{2}/_{2}$ sous la forme d'un nombre entier.



12) Écrivez $^{5}/_{5}$ sous la forme d'un nombre entier.

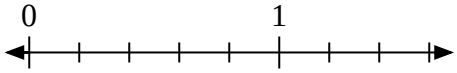

13) Écrivez $^{2}/_{3}$ sous la forme d'un nombre entier.

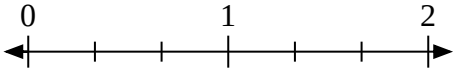

14) Écrivez $^{5}/_{9}$ sous la forme d'un nombre entier.

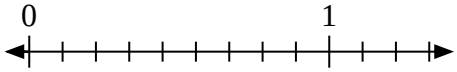

15) Écrivez $^{5}/_{6}$ sous la forme d'un nombre entier.

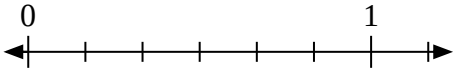

16) Écrivez $^{2}/_{7}$ sous la forme d'un nombre entier.

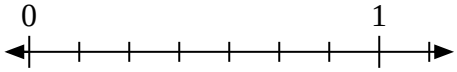

1-10	94	88	81	75	69	63	56	50	44	38
11-16	31	25	19	13	6	0				

Résoudre chaque problème.

1) Écrivez $^{4}/_{8}$ sous la forme d'un nombre entier.

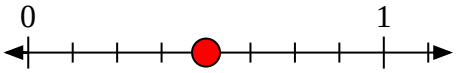

2) Écrivez $^{0}/_{6}$ sous la forme d'un nombre entier.

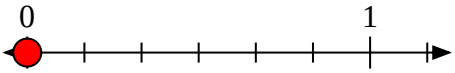

3) Écrivez $^{3}/_{5}$ sous la forme d'un nombre entier.

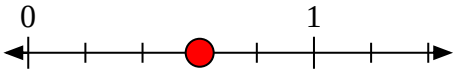

4) Écrivez $^{0}/_{5}$ sous la forme d'un nombre entier.

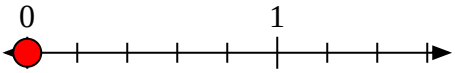

5) Écrivez $^{0}/_{3}$ sous la forme d'un nombre entier.



6) Écrivez $^{4}/_{4}$ sous la forme d'un nombre entier.

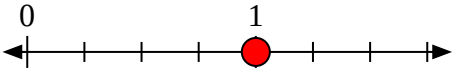

7) Écrivez $^{0}/_{2}$ sous la forme d'un nombre entier.

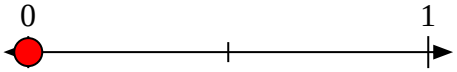

8) Écrivez $^{2}/_{6}$ sous la forme d'un nombre entier.

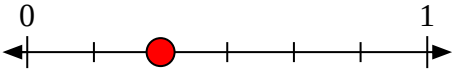

9) Écrivez $^{5}/_{7}$ sous la forme d'un nombre entier.

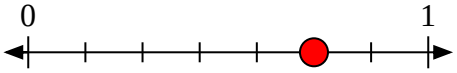

10) Écrivez $^{7}/_{8}$ sous la forme d'un nombre entier.

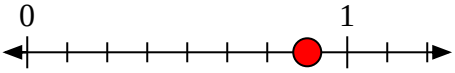

11) Écrivez $^{2}/_{2}$ sous la forme d'un nombre entier.



12) Écrivez $^{5}/_{5}$ sous la forme d'un nombre entier.

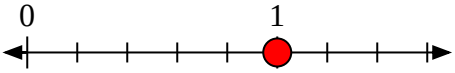

13) Écrivez $^{2}/_{3}$ sous la forme d'un nombre entier.

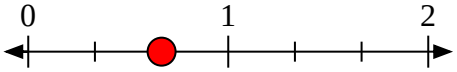

14) Écrivez $^{5}/_{9}$ sous la forme d'un nombre entier.

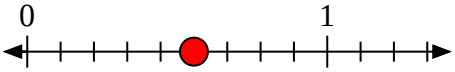

15) Écrivez $^{5}/_{6}$ sous la forme d'un nombre entier.

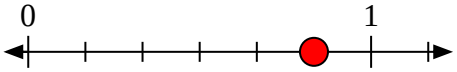

16) Écrivez $^{2}/_{7}$ sous la forme d'un nombre entier.

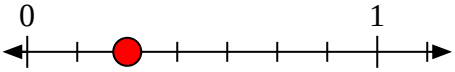

1-10	94	88	81	75	69	63	56	50	44	38
11-16	31	25	19	13	6	0				

Résoudre chaque problème.

1) Écrivez $^{2}/_{5}$ sous la forme d'un nombre entier.

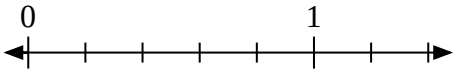

2) Écrivez $^{0}/_{4}$ sous la forme d'un nombre entier.

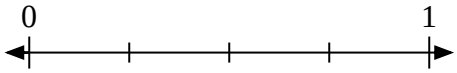

3) Écrivez $^{2}/_{2}$ sous la forme d'un nombre entier.

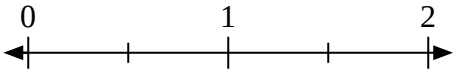

4) Écrivez $^{3}/_{4}$ sous la forme d'un nombre entier.

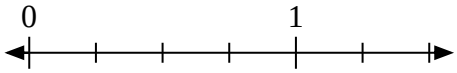

5) Écrivez $^{9}/_{9}$ sous la forme d'un nombre entier.

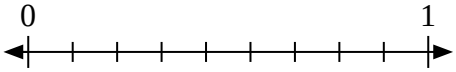

6) Écrivez $^{3}/_{9}$ sous la forme d'un nombre entier.

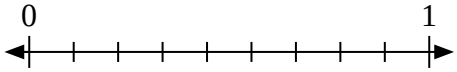

7) Écrivez $^{5}/_{6}$ sous la forme d'un nombre entier.

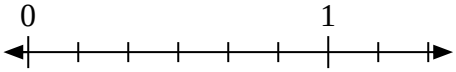

8) Écrivez $^{0}/_{2}$ sous la forme d'un nombre entier.



9) Écrivez $^{6}/_{9}$ sous la forme d'un nombre entier.

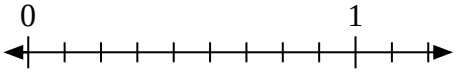

10) Écrivez $^{6}/_{7}$ sous la forme d'un nombre entier.

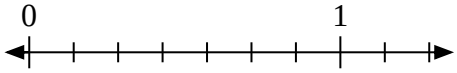

11) Écrivez $^{1}/_{4}$ sous la forme d'un nombre entier.

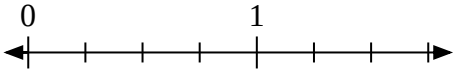

12) Écrivez $^{0}/_{6}$ sous la forme d'un nombre entier.

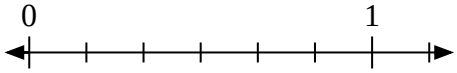

13) Écrivez $^{0}/_{3}$ sous la forme d'un nombre entier.

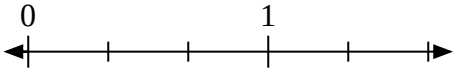

14) Écrivez $^{7}/_{8}$ sous la forme d'un nombre entier.

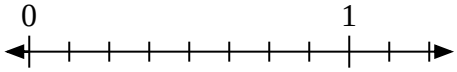

15) Écrivez $^{4}/_{5}$ sous la forme d'un nombre entier.



16) Écrivez $^{3}/_{5}$ sous la forme d'un nombre entier.

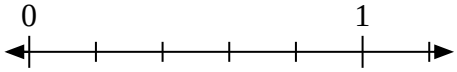

1-10	94	88	81	75	69	63	56	50	44	38
11-16	31	25	19	13	6	0				

Résoudre chaque problème.

1) Écrivez $^{2}/_{5}$ sous la forme d'un nombre entier.

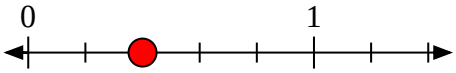

2) Écrivez $^{0}/_{4}$ sous la forme d'un nombre entier.

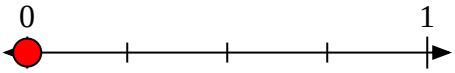

3) Écrivez $^{2}/_{2}$ sous la forme d'un nombre entier.

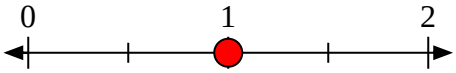

4) Écrivez $^{3}/_{4}$ sous la forme d'un nombre entier.

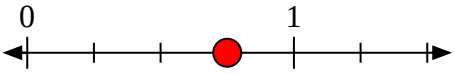

5) Écrivez $^{9}/_{9}$ sous la forme d'un nombre entier.

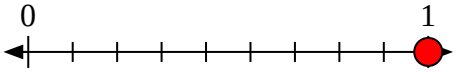

6) Écrivez $^{3}/_{9}$ sous la forme d'un nombre entier.

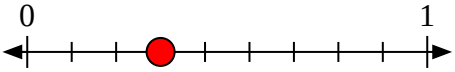

7) Écrivez $^{5}/_{6}$ sous la forme d'un nombre entier.

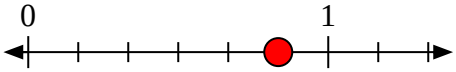

8) Écrivez $^{0}/_{2}$ sous la forme d'un nombre entier.



9) Écrivez $^{6}/_{9}$ sous la forme d'un nombre entier.

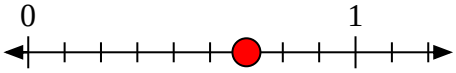

10) Écrivez $^{6}/_{7}$ sous la forme d'un nombre entier.

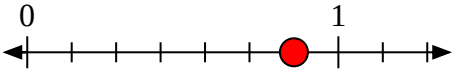

11) Écrivez $^{1}/_{4}$ sous la forme d'un nombre entier.

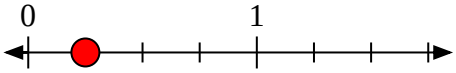

12) Écrivez $^{0}/_{6}$ sous la forme d'un nombre entier.

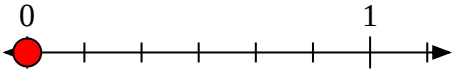

13) Écrivez $^{0}/_{3}$ sous la forme d'un nombre entier.

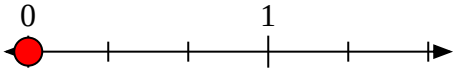

14) Écrivez $^{7}/_{8}$ sous la forme d'un nombre entier.

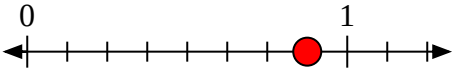

15) Écrivez $^{4}/_{5}$ sous la forme d'un nombre entier.



16) Écrivez $^{3}/_{5}$ sous la forme d'un nombre entier.

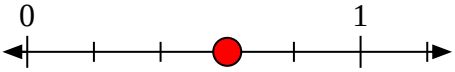

1-10	94	88	81	75	69	63	56	50	44	38
11-16	31	25	19	13	6	0				

Résoudre chaque problème.

1) Écrivez $^{1}/_{7}$ sous la forme d'un nombre entier.

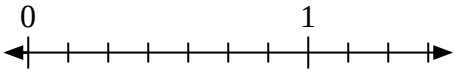

2) Écrivez $^{3}/_{6}$ sous la forme d'un nombre entier.

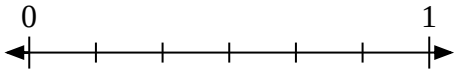

3) Écrivez $^{1}/_{4}$ sous la forme d'un nombre entier.

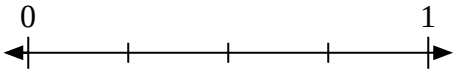

4) Écrivez $^{4}/_{9}$ sous la forme d'un nombre entier.

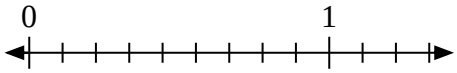

5) Écrivez $^{4}/_{6}$ sous la forme d'un nombre entier.

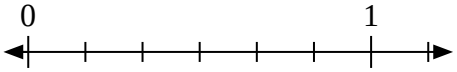

6) Écrivez $^{0}/_{3}$ sous la forme d'un nombre entier.

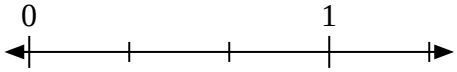

7) Écrivez $^{4}/_{5}$ sous la forme d'un nombre entier.

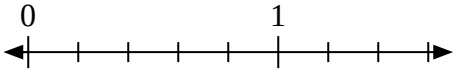

8) Écrivez $^{0}/_{7}$ sous la forme d'un nombre entier.

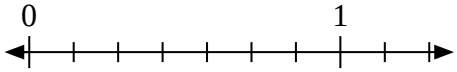

9) Écrivez $^{1}/_{5}$ sous la forme d'un nombre entier.

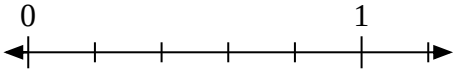

10) Écrivez $^{1}/_{2}$ sous la forme d'un nombre entier.

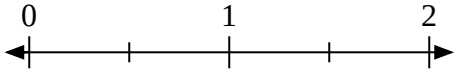

11) Écrivez $^{0}/_{5}$ sous la forme d'un nombre entier.

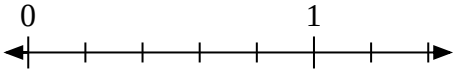

12) Écrivez $^{7}/_{8}$ sous la forme d'un nombre entier.

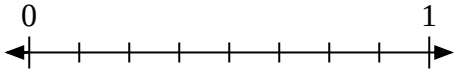

13) Écrivez $^{0}/_{6}$ sous la forme d'un nombre entier.

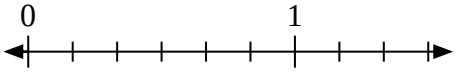

14) Écrivez $^{0}/_{4}$ sous la forme d'un nombre entier.

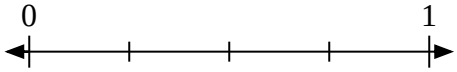

15) Écrivez $^{2}/_{2}$ sous la forme d'un nombre entier.

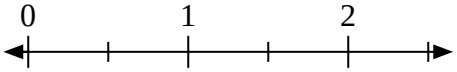

16) Écrivez $^{4}/_{4}$ sous la forme d'un nombre entier.



1-10	94	88	81	75	69	63	56	50	44	38
11-16	31	25	19	13	6	0				

Résoudre chaque problème.

1) Écrivez $^{1}/_{7}$ sous la forme d'un nombre entier.

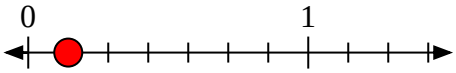

2) Écrivez $^{3}/_{6}$ sous la forme d'un nombre entier.

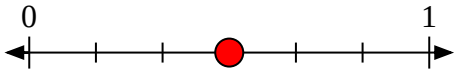

3) Écrivez $^{1}/_{4}$ sous la forme d'un nombre entier.

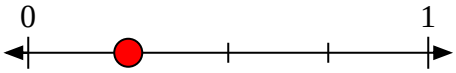

4) Écrivez $^{4}/_{9}$ sous la forme d'un nombre entier.

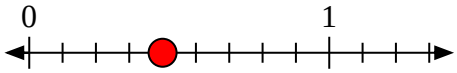

5) Écrivez $^{4}/_{6}$ sous la forme d'un nombre entier.

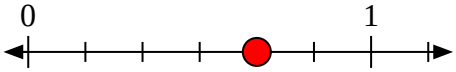

6) Écrivez $^{0}/_{3}$ sous la forme d'un nombre entier.

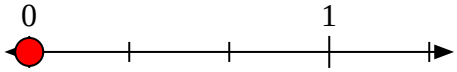

7) Écrivez $^{4}/_{5}$ sous la forme d'un nombre entier.

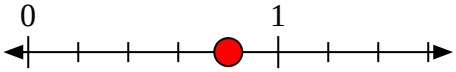

8) Écrivez $^{0}/_{7}$ sous la forme d'un nombre entier.

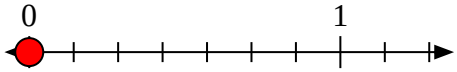

9) Écrivez $^{1}/_{5}$ sous la forme d'un nombre entier.

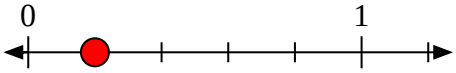

10) Écrivez $^{1}/_{2}$ sous la forme d'un nombre entier.

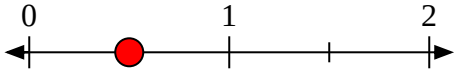

11) Écrivez $^{0}/_{5}$ sous la forme d'un nombre entier.

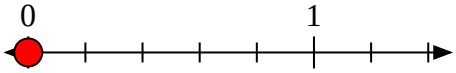

12) Écrivez $^{7}/_{8}$ sous la forme d'un nombre entier.

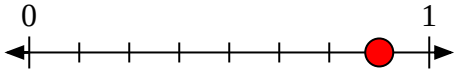

13) Écrivez $^{0}/_{6}$ sous la forme d'un nombre entier.

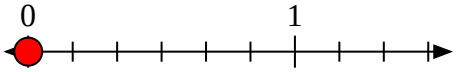

14) Écrivez $^{0}/_{4}$ sous la forme d'un nombre entier.

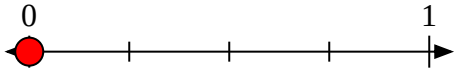

15) Écrivez $^{2}/_{2}$ sous la forme d'un nombre entier.

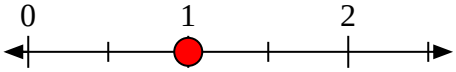

16) Écrivez $^{4}/_{4}$ sous la forme d'un nombre entier.



1-10	94	88	81	75	69	63	56	50	44	38
11-16	31	25	19	13	6	0				

Résoudre chaque problème.

1) Écrivez $^{4}/_{6}$ sous la forme d'un nombre entier.

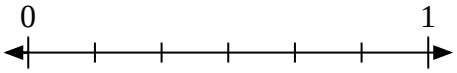

2) Écrivez $^{7}/_{7}$ sous la forme d'un nombre entier.

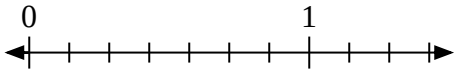

3) Écrivez $^{0}/_{4}$ sous la forme d'un nombre entier.



4) Écrivez $^{2}/_{8}$ sous la forme d'un nombre entier.

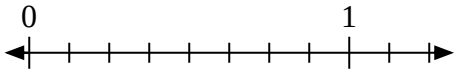

5) Écrivez $^{4}/_{4}$ sous la forme d'un nombre entier.

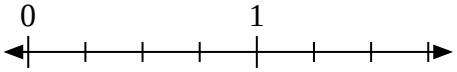

6) Écrivez $^{3}/_{6}$ sous la forme d'un nombre entier.

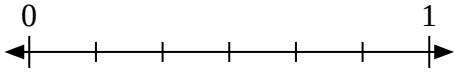

7) Écrivez $^{1}/_{5}$ sous la forme d'un nombre entier.

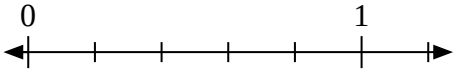

8) Écrivez $^{3}/_{9}$ sous la forme d'un nombre entier.

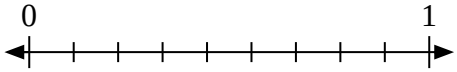

9) Écrivez $^{5}/_{8}$ sous la forme d'un nombre entier.

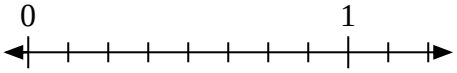

10) Écrivez $^{2}/_{6}$ sous la forme d'un nombre entier.

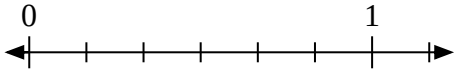

11) Écrivez $^{2}/_{2}$ sous la forme d'un nombre entier.

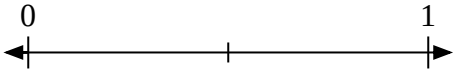

12) Écrivez $^{0}/_{3}$ sous la forme d'un nombre entier.



13) Écrivez $^{1}/_{4}$ sous la forme d'un nombre entier.



14) Écrivez $^{5}/_{5}$ sous la forme d'un nombre entier.

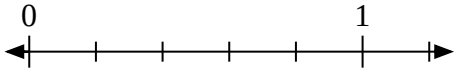

15) Écrivez $^{0}/_{6}$ sous la forme d'un nombre entier.

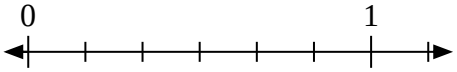

16) Écrivez $^{6}/_{6}$ sous la forme d'un nombre entier.

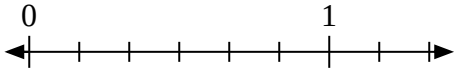

1-10	94	88	81	75	69	63	56	50	44	38
11-16	31	25	19	13	6	0				

Fractions de Nombres Entiers Nom: **Clé**

Résoudre chaque problème.

1) Écrivez $^{4}/_{6}$ sous la forme d'un nombre entier.

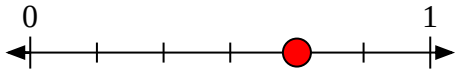

2) Écrivez $^{7}/_{7}$ sous la forme d'un nombre entier.

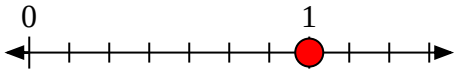

3) Écrivez $^{0}/_{4}$ sous la forme d'un nombre entier.



4) Écrivez $^{2}/_{8}$ sous la forme d'un nombre entier.

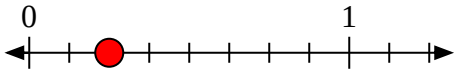

5) Écrivez $^{4}/_{4}$ sous la forme d'un nombre entier.

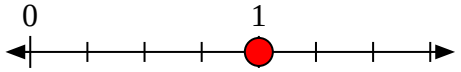

6) Écrivez $^{3}/_{6}$ sous la forme d'un nombre entier.

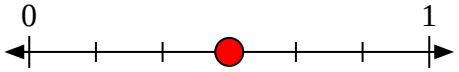

7) Écrivez $^{1}/_{5}$ sous la forme d'un nombre entier.

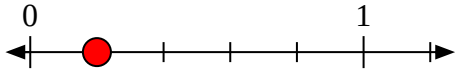

8) Écrivez $^{3}/_{9}$ sous la forme d'un nombre entier.

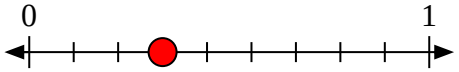

9) Écrivez $^{5}/_{8}$ sous la forme d'un nombre entier.

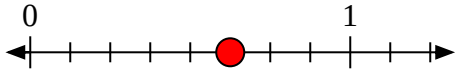

10) Écrivez $^{2}/_{6}$ sous la forme d'un nombre entier.

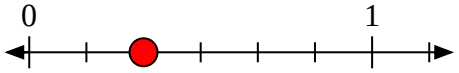

11) Écrivez $^{2}/_{2}$ sous la forme d'un nombre entier.

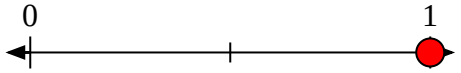

12) Écrivez $^{0}/_{3}$ sous la forme d'un nombre entier.

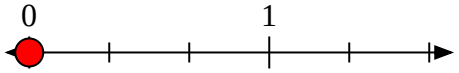

13) Écrivez $^{1}/_{4}$ sous la forme d'un nombre entier.



14) Écrivez $^{5}/_{5}$ sous la forme d'un nombre entier.

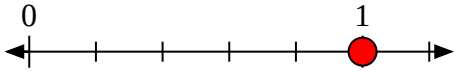

15) Écrivez $^{0}/_{6}$ sous la forme d'un nombre entier.

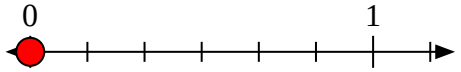

16) Écrivez $^{6}/_{6}$ sous la forme d'un nombre entier.

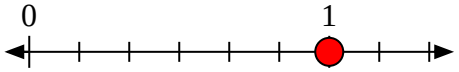

1-10	94	88	81	75	69	63	56	50	44	38
11-16	31	25	19	13	6	0				