Résoudre chaque problème.

1) Quel choix représente la partie ombrée de la roue des nombres ?

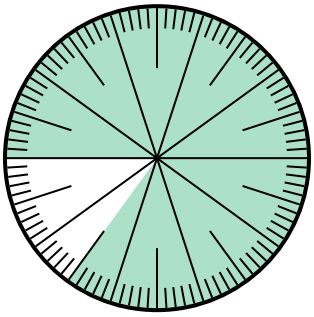

A. 0,85 B. 8.5
C. 85 D. 0,085

2) Quel choix représente la partie non ombrée de la roue des nombres ?

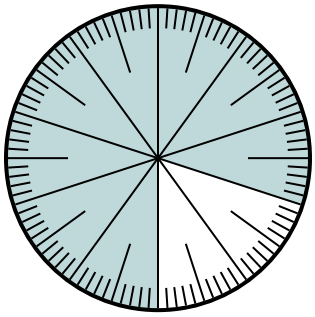

A. $^{2}/_{100}$ B. $^{20}/_{100}$
C. $^{2,00}/_{100}$ D. $^{80}/_{20}$

3) Quel choix représente la partie non ombrée de la roue des nombres ?

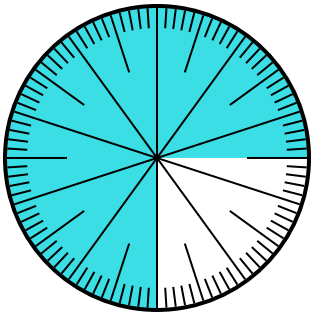

A. 0,025 B. 0,25
C. 0,0075 D. 2,50

4) Quel choix représente la partie ombrée de la roue des nombres ?

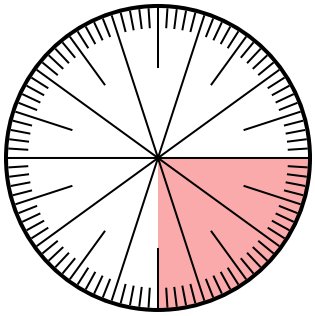

A. $^{0.25}/_{100}$ B. $^{25}/_{100}$
C. 0,025 D. 25

5) Quel choix représente la partie ombrée de la roue des nombres ?

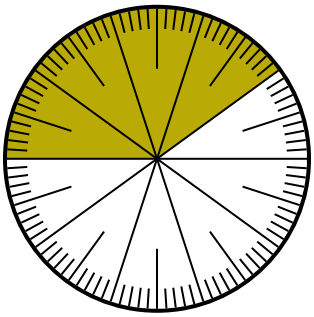

A. $^{40}/_{60}$ B. $^{60}/_{40}$
C. $^{40}/_{100}$ D. $^{4}/_{100}$

6) Quel choix représente la partie ombrée de la roue des nombres ?

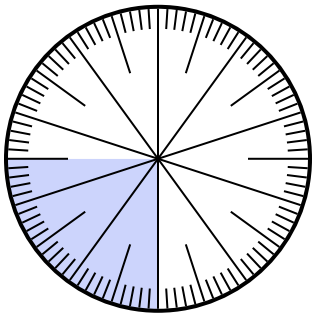

A. 0,0075 B. $^{2,50}/_{100}$
C. 0,025 D. 0,25

Réponses

1. _____
2. _____
3. _____
4. _____
5. _____
6. _____

1-6	83	67	50	33	17	0

Identifier les fractions et les décimales sur une roue numérique Nom: **Clé**

Résoudre chaque problème.

1) Quel choix représente la partie ombrée de la roue des nombres ?

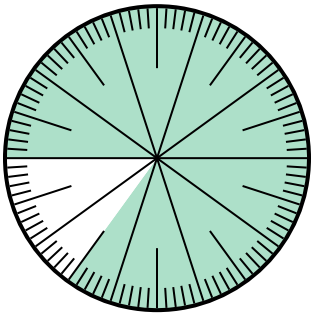

A. 0,85 B. 8.5
C. 85 D. 0,085

2) Quel choix représente la partie non ombrée de la roue des nombres ?

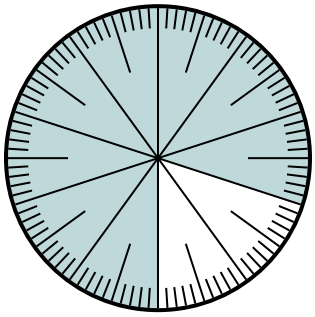

A. $^{2}/_{100}$ B. $^{20}/_{100}$
C. $^{2,00}/_{100}$ D. $^{80}/_{20}$

3) Quel choix représente la partie non ombrée de la roue des nombres ?

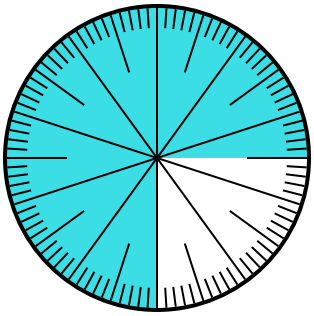

A. 0,025 B. 0,25
C. 0,0075 D. 2,50

4) Quel choix représente la partie ombrée de la roue des nombres ?

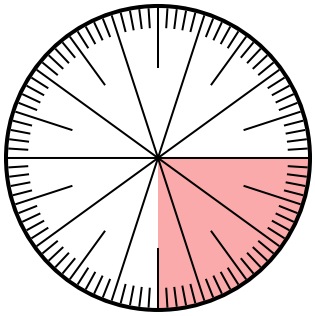

A. $^{0.25}/_{100}$ B. $^{25}/_{100}$
C. 0,025 D. 25

5) Quel choix représente la partie ombrée de la roue des nombres ?

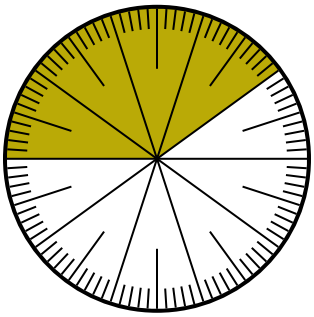

A. $^{40}/_{60}$ B. $^{60}/_{40}$
C. $^{40}/_{100}$ D. $^{4}/_{100}$

6) Quel choix représente la partie ombrée de la roue des nombres ?

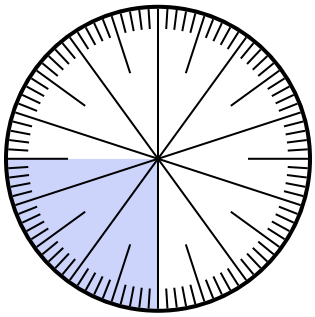

A. 0,0075 B. $^{2,50}/_{100}$
C. 0,025 D. 0,25

Réponses

1. A
2. B
3. B
4. B
5. C
6. D

1-6	83	67	50	33	17	0