Utilisez la grille pour résoudre chaque problème.

= Station-essence

= Galerie marchande

= 1 Square Mile

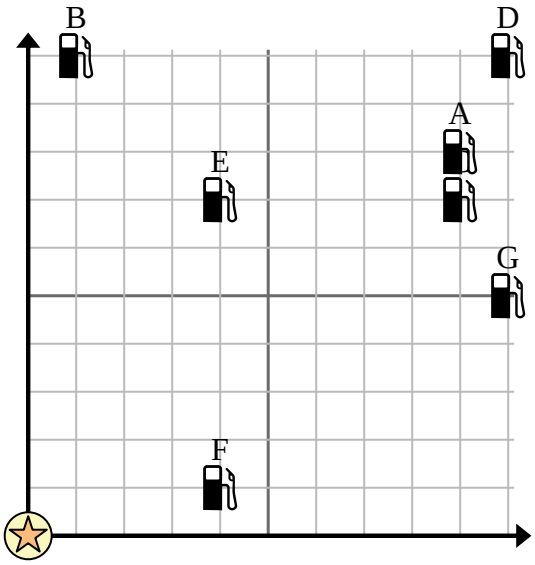

1) Les investisseurs voulaient construire une nouvelle station-service, mais voulaient s'assurer qu'elle se trouvait à au moins 2 milles d'une station préexistante. Devraient-ils construire une station-service à {_EST_} miles à l'est et 7 miles au nord du centre commercial ?

2) Quelle station-service est la plus proche du centre commercial ?

3) Quelle station-service est la plus éloignée du centre commercial ?

4) Quelle station-service est plus loin east ? Station E ou Station G ?

5) Si vous deviez aller à {_EST_} miles à l'est et 5 miles au nord du centre commercial, à quelle station-service vous retrouveriez-vous ?

6) Un nouveau navire voulait pêcher, mais le capitaine voulait s'assurer qu'ils se trouvaient à au moins 2 milles d'un autre navire. S'il naviguait 3 milles à l'est et 5 milles au nord, cet endroit lui conviendrait-il ?

7) Quel navire est le plus proche de la bouée ?

8) Quel navire est le plus éloigné de la bouée ?

9) Quel navire est plus loin west ? Expédier A ou expédier C ?

10) Quel navire se trouve à 1 miles à l'est et 9 miles au nord de la bouée ?

= Bateau

= Bouée

= 1 Square Mile

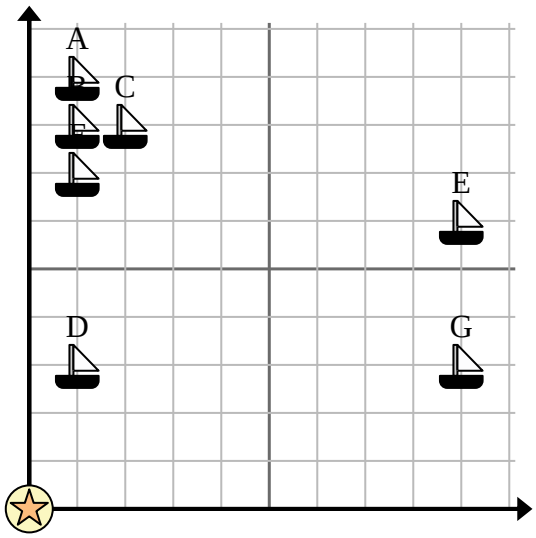

Réponses

1. _____
2. _____
3. _____
4. _____
5. _____
6. _____
7. _____
8. _____
9. _____
10. _____

1-10	90	80	70	60	50	40	30	20	10	0

Utilisation de grilles dans un contexte réel Nom: **Clé**

Utilisez la grille pour résoudre chaque problème.

= Station-essence

= Galerie marchande

= 1 Square Mile

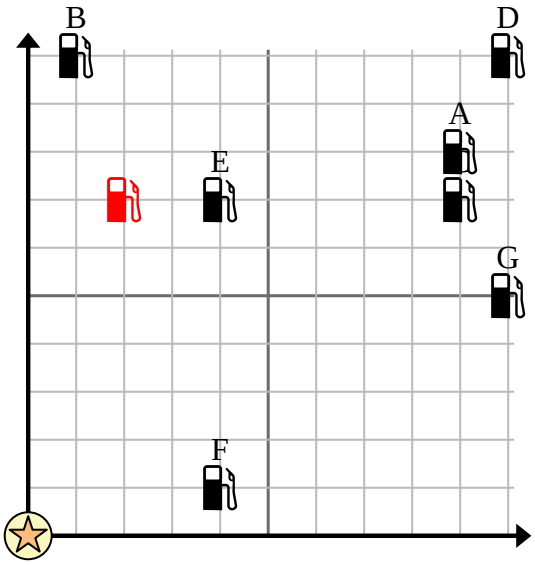

1) Les investisseurs voulaient construire une nouvelle station-service, mais voulaient s'assurer qu'elle se trouvait à au moins 2 milles d'une station préexistante. Devraient-ils construire une station-service à {_EST_} miles à l'est et 7 miles au nord du centre commercial ?

2) Quelle station-service est la plus proche du centre commercial ?

3) Quelle station-service est la plus éloignée du centre commercial ?

4) Quelle station-service est plus loin east ? Station E ou Station G ?

5) Si vous deviez aller à {_EST_} miles à l'est et 5 miles au nord du centre commercial, à quelle station-service vous retrouveriez-vous ?

6) Un nouveau navire voulait pêcher, mais le capitaine voulait s'assurer qu'ils se trouvaient à au moins 2 milles d'un autre navire. S'il naviguait 3 milles à l'est et 5 milles au nord, cet endroit lui conviendrait-il ?

7) Quel navire est le plus proche de la bouée ?

8) Quel navire est le plus éloigné de la bouée ?

9) Quel navire est plus loin west ? Expédier A ou expédier C ?

10) Quel navire se trouve à 1 miles à l'est et 9 miles au nord de la bouée ?

= Bateau

= Bouée

= 1 Square Mile

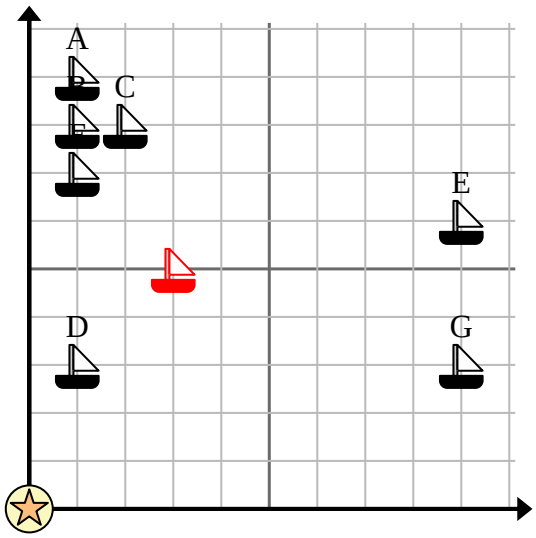

Réponses

1. oui
2. F
3. D
4. G
5. G
6. oui
7. D
8. E
9. A
10. A

1-10	90	80	70	60	50	40	30	20	10	0