Mesurer et afficher des données Nom:

Mesurez chaque élément bout à bout puis placez vos résultats dans le tracé linéaire.

Ex)



1)

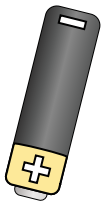

2)

3)

4)

5)

6)

7)

8)



9)

10)

11)

Line Plot

$\frac{1}{4}$	$\frac{1}{2}$	$\frac{3}{4}$	1	$1\frac{1}{4}$	$1\frac{1}{2}$	$1\frac{3}{4}$	2

Réponses

Ex. $1\frac{1}{2}$

1. _____
2. _____
3. _____
4. _____
5. _____
6. _____
7. _____
8. _____
9. _____
10. _____
11. _____

1-10	91	82	73	64	55	45	36	27	18	9
11	0									

Mesurer et afficher des données Nom: **Clé**

Mesurez chaque élément bout à bout puis placez vos résultats dans le tracé linéaire.

Ex)



1)

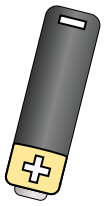

2)

3)

4)

5)

6)

7)

8)



9)

10)

11)

Line Plot

	X				X	X	X
X	X	X	X	X	X	X	X
$\frac{1}{4}$	$\frac{1}{2}$	$\frac{3}{4}$	1	$1\frac{1}{4}$	$1\frac{1}{2}$	$1\frac{3}{4}$	2

Réponses

Ex. $1\frac{1}{2}$

1. 1
2. $1\frac{3}{4}$
3. $1\frac{1}{4}$
4. $\frac{3}{4}$
5. 2
6. $\frac{1}{2}$
7. $\frac{1}{4}$
8. 2
9. $1\frac{1}{2}$
10. $1\frac{3}{4}$
11. $\frac{1}{2}$

1-10	91	82	73	64	55	45	36	27	18	9
11	0									