Identifier des Ratios Visuels

Nom:

Résoudre chaque problème.

Ex) Quel est le ration de triangles par rapport à cercles?

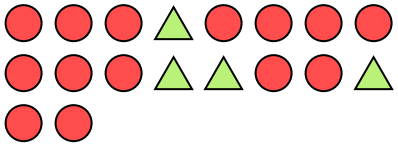

1) Quel est le ration de moons par rapport à pentagone?



2) Quel est le ration de cercles par rapport à étoiles?

3) Quel est le ration de carrés par rapport à triangles?

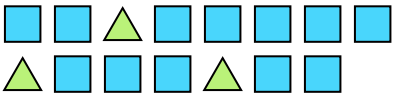

4) Quel est le ration de triangles par rapport à pentagone?

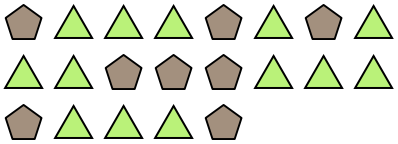

5) Quel est le ration de triangles par rapport à hearts?

6) Quel est le ration de moons par rapport à cercles?

7) Quel est le ration de cercles par rapport à moons?



8) Quel est le ration de moons par rapport à étoiles?

9) Quel est le ration de étoiles par rapport à pentagone?



10) Quel est le ration de cercles par rapport à moons?



11) Quel est le ration de pentagone par rapport à moons?

Réponses

Ex. 4:14

1. _____
2. _____
3. _____
4. _____
5. _____
6. _____
7. _____
8. _____
9. _____
10. _____
11. _____

1-10	91	82	73	64	55	45	36	27	18	9
11	0									

Identifier des Ratios Visuels

Nom: **Clé**

Résoudre chaque problème.

Ex) Quel est le ration de triangles par rapport à cercles?

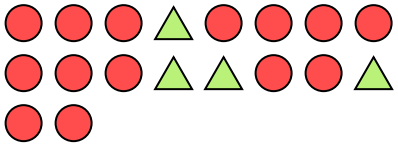

1) Quel est le ration de moons par rapport à pentagone?



2) Quel est le ration de cercles par rapport à étoiles?

3) Quel est le ration de carrés par rapport à triangles?

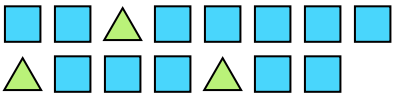

4) Quel est le ration de triangles par rapport à pentagone?

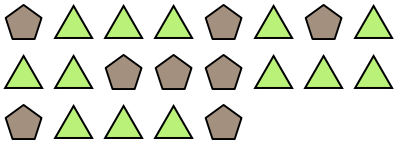

5) Quel est le ration de triangles par rapport à hearts?

6) Quel est le ration de moons par rapport à cercles?

7) Quel est le ration de cercles par rapport à moons?



8) Quel est le ration de moons par rapport à étoiles?

9) Quel est le ration de étoiles par rapport à pentagone?



10) Quel est le ration de cercles par rapport à moons?



11) Quel est le ration de pentagone par rapport à moons?

Réponses

Ex.	4:14
1.	15:8
2.	9:7
3.	12:3
4.	13:8
5.	4:10
6.	5:4
7.	11:12
8.	7:5
9.	6:13
10.	8:15
11.	2:3

1-10	91	82	73	64	55	45	36	27	18	9
11	0									