Determinez un Chiffre d'un Nombre de Blocs

Nom:

Résoudre chaque problème.

1)

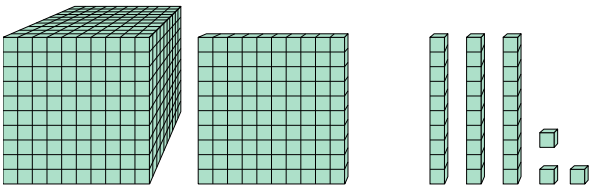

Quel est le chiffre positionné à la centaines place du nombre ci-dessus?

2)

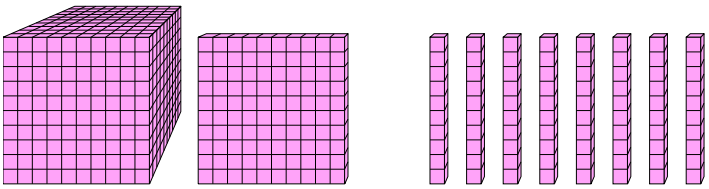

Quel est le chiffre positionné à la unités place du nombre ci-dessus?

3)

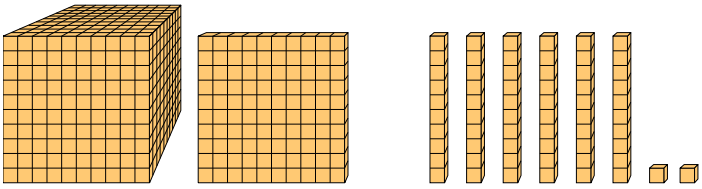

Quel est le chiffre positionné à la billions place du nombre ci-dessus?

4)

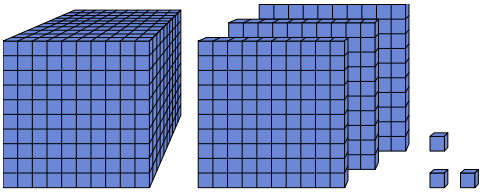

Quel est le chiffre positionné à la dizaines place du nombre ci-dessus?

5)

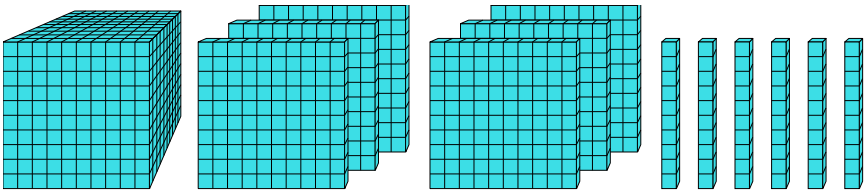

Quel est le chiffre positionné à la billions place du nombre ci-dessus?

6)

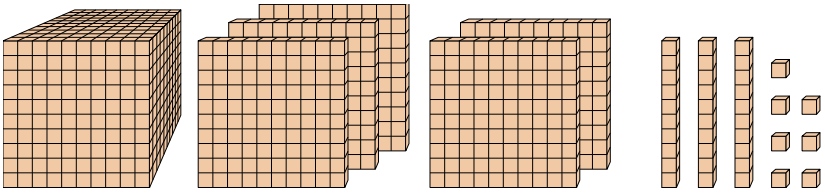

Quel est le chiffre positionné à la dizaines place du nombre ci-dessus?

Réponses

1. _____
2. _____
3. _____
4. _____
5. _____
6. _____

1-6	83	67	50	33	17	0

Determinez un Chiffre d'un Nombre de Blocs Nom: **Clé**

Résoudre chaque problème.

1)

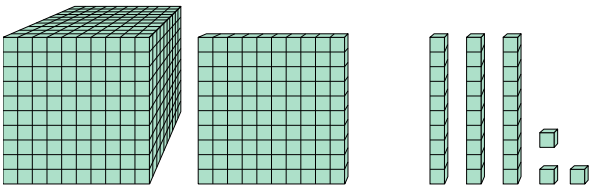

Quel est le chiffre positionné à la centaines place du nombre ci-dessus?

2)

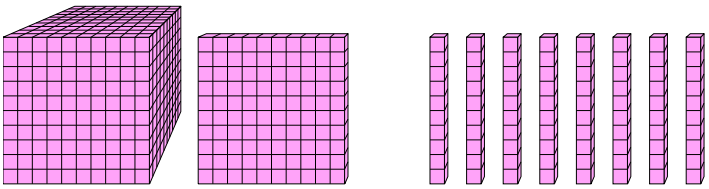

Quel est le chiffre positionné à la unités place du nombre ci-dessus?

3)

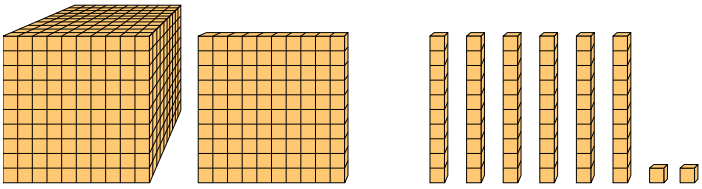

Quel est le chiffre positionné à la billions place du nombre ci-dessus?

4)

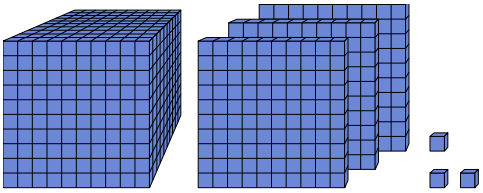

Quel est le chiffre positionné à la dizaines place du nombre ci-dessus?

5)

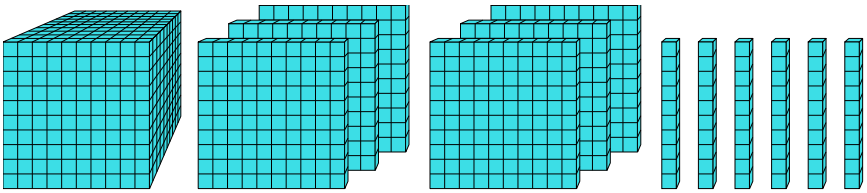

Quel est le chiffre positionné à la billions place du nombre ci-dessus?

6)

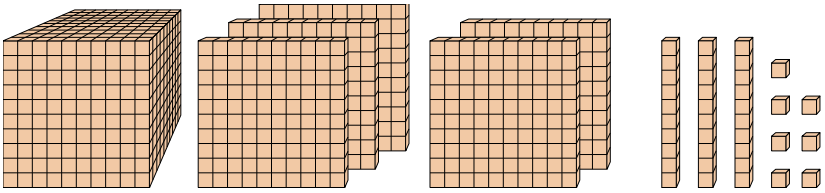

Quel est le chiffre positionné à la dizaines place du nombre ci-dessus?

Réponses

1. 1
2. 0
3. 1
4. 0
5. 6
6. 3

1-6	83	67	50	33	17	0