Estimation du poids (métrique) Nom:

Déterminez quelle lettre représente le mieux le poids.

Grama (g)
Un gramo es aproximadamente el peso de un clip.

Kilogramo (kilogramo)
Un kilogramo es aproximadamente el peso de un libro grueso.



Recuerda:
Kilo significa 1,000. Entonces, un kilogramo son 1,000 gramos. 1 kilogramo también pesa aproximadamente lo mismo que 2 libras.

1)

2 litre de soda
A. 50 grammes
B. 2 kilogrammes
C. 100 grammes
D. 3 grammes

2)

Télévision grand écran
A. 20 grammes
B. 20 kilogrammes
C. 100 grammes
D. 1000 kilogrammes

3)

Pelle
A. 30 kilogrammes
B. 5 kilogrammes
C. 10 grammes
D. 1 gramm

4)

Surveiller
A. 500 kilogrammes
B. 8 kilogrammes
C. 8 grammes
D. 500 grammes

5)

Bâton de colle
A. 500 grammes
B. 1 kilogramm
C. 62 grammes
D. 1 gramm

6)

Fauteuil inclinable
A. 150 grammes
B. 1 kilogramm
C. 35 kilogrammes
D. 90 grammes

7)

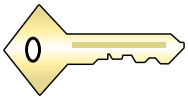

Clé
A. 1 gramm
B. 100 kilogrammes
C. 100 grammes
D. 1 kilogramm

8)

Classeur
A. 1 gramm
B. 55 kilogrammes
C. 1 kilogramm
D. 300 grammes

9)

Balais
A. 10 kilogrammes
B. 200 kilogrammes
C. 10 grammes
D. 500 grammes

Réponses

1. _____
2. _____
3. _____
4. _____
5. _____
6. _____
7. _____
8. _____
9. _____

1-9	89	78	67	56	44	33	22	11	0

Estimation du poids (métrique) Nom: **Clé**

Déterminez quelle lettre représente le mieux le poids.

Grama (g)
Un gramo es aproximadamente el peso de un clip.

Kilogramo (kilogramo)
Un kilogramo es aproximadamente el peso de un libro grueso.



Recuerda:
Kilo significa 1,000. Entonces, un kilogramo son 1,000 gramos. 1 kilogramo también pesa aproximadamente lo mismo que 2 libras.

1)

2 litre de soda
A. 50 grammes
B. 2 kilogrammes
C. 100 grammes
D. 3 grammes

2)

Télévision grand écran
A. 20 grammes
B. 20 kilogrammes
C. 100 grammes
D. 1000 kilogrammes

3)

Pelle
A. 30 kilogrammes
B. 5 kilogrammes
C. 10 grammes
D. 1 gramm

4)

Surveiller
A. 500 kilogrammes
B. 8 kilogrammes
C. 8 grammes
D. 500 grammes

5)

Bâton de colle
A. 500 grammes
B. 1 kilogramm
C. 62 grammes
D. 1 gramm

6)

Fauteuil inclinable
A. 150 grammes
B. 1 kilogramm
C. 35 kilogrammes
D. 90 grammes

7)

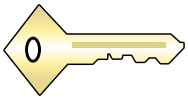

Clé
A. 1 gramm
B. 100 kilogrammes
C. 100 grammes
D. 1 kilogramm

8)

Classeur
A. 1 gramm
B. 55 kilogrammes
C. 1 kilogramm
D. 300 grammes

9)

Balais
A. 10 kilogrammes
B. 200 kilogrammes
C. 10 grammes
D. 500 grammes

Réponses

1. **B**
2. **B**
3. **B**
4. **B**
5. **C**
6. **C**
7. **C**
8. **B**
9. **D**

1-9	89	78	67	56	44	33	22	11	0