Addition avec diagramme de bande

Nom:

Résoudre chaque problème.

1) Un clown a offert 20 ballons aux filles et 27 ballons aux garçons. Combien de ballons a-t-il donné au total ?

2) Sur Facebook, Paola avait 26 photos de ses amis et 48 photos de sa famille. Combien de photos avait-elle au total ?

3) Une animalerie avait 22 oiseaux qui parlaient et 17 qui ne parlaient pas. Combien d'oiseaux l'animalerie avait-elle au total ?

4) Alessandra avait 29 jeux DS et son amie avait 42 jeux. Combien en ont-ils au total ?

5) Un restaurant vendait 41 sodas le matin et 50 l'après-midi. Combien de sodas ont-ils vendu au total ?

6) Pour Halloween, Luigi a obtenu 35 onces de bonbons et Benedetta a obtenu 12 onces de bonbons. Quel est le poids combiné qu'ils ont reçu?

7) Un magasin vendait 43 boissons froides et 33 boissons chaudes. Combien de verres ont-ils vendu au total ?

Réponses

1. _____
2. _____
3. _____
4. _____
5. _____
6. _____
7. _____

1-7	86	71	57	43	29	14	0

Addition avec diagramme de bande Nom: **Clé**

Résoudre chaque problème.

1) Un clown a offert 20 ballons aux filles et 27 ballons aux garçons. Combien de ballons a-t-il donné au total ?

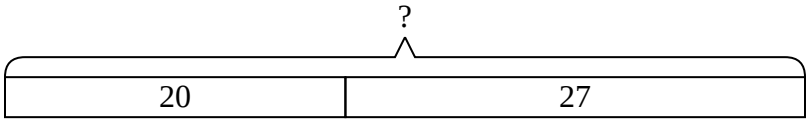

2) Sur Facebook, Paola avait 26 photos de ses amis et 48 photos de sa famille. Combien de photos avait-elle au total ?

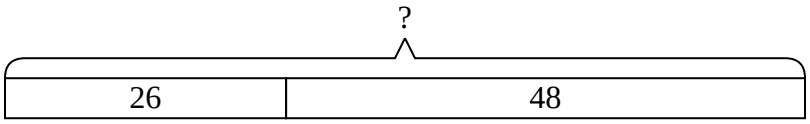

3) Une animalerie avait 22 oiseaux qui parlaient et 17 qui ne parlaient pas. Combien d'oiseaux l'animalerie avait-elle au total ?

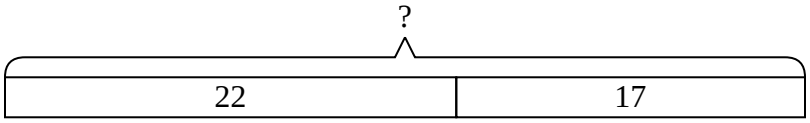

4) Alessandra avait 29 jeux DS et son amie avait 42 jeux. Combien en ont-ils au total ?

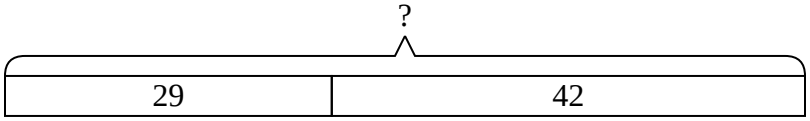

5) Un restaurant vendait 41 sodas le matin et 50 l'après-midi. Combien de sodas ont-ils vendu au total ?

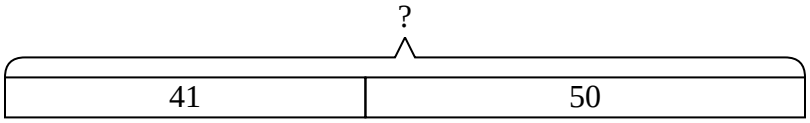

6) Pour Halloween, Luigi a obtenu 35 onces de bonbons et Benedetta a obtenu 12 onces de bonbons. Quel est le poids combiné qu'ils ont reçu?

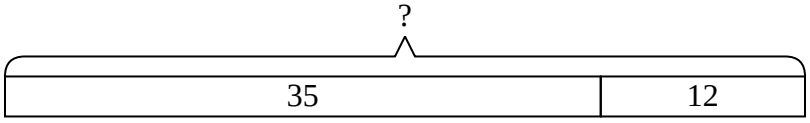

7) Un magasin vendait 43 boissons froides et 33 boissons chaudes. Combien de verres ont-ils vendu au total ?

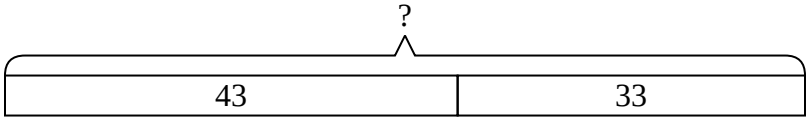

Réponses

1. **47**
2. **74**
3. **39**
4. **71**
5. **91**
6. **47**
7. **76**

1-7	86	71	57	43	29	14	0