Création de rectangles de zone et de périmètre Nom:

**Utilisez les diagrammes ci-dessous pour créer un rectangle avec l'aire/le périmètre indiqué. Chaque SVGREPLACE = 1 unité(u). Répondez avec la longueur et la hauteur. Les réponses varieront.**

**1)** Superficie des unités carrées 36.



**2)** Périmètre des unités 38.



**3)** Superficie des unités carrées 7.



**4)** Superficie des unités carrées 16.



**5)** Périmètre des unités 28.



**6)** Périmètre des unités 40.



**7)** Périmètre des unités 22.



**8)** Superficie des unités carrées 21.



**9)** Superficie des unités carrées 12.



**10)** Superficie des unités carrées 3.



**11)** Superficie des unités carrées 9.



**12)** Périmètre des unités 18.



## Réponses

1. ___ ___ $=36u^2$
2. ___ ___ $=38u$
3. ___ ___ $=7u^2$
4. ___ ___ $=16u^2$
5. ___ ___ $=28u$
6. ___ ___ $=40u$
7. ___ ___ $=22u$
8. ___ ___ $=21u^2$
9. ___ ___ $=12u^2$
10. ___ ___ $=3u^2$
11. ___ ___ $=9u^2$
12. ___ ___ $=18u$



| | | | | | | | | | | |
|---|---|---|---|---|---|---|---|---|---|---|
| 1-10 | 92 | 83 | 75 | 67 | 58 | 50 | 42 | 33 | 25 | 17 |
| 11-12 | 8 | 0 | | | | | | | | |

Création de rectangles de zone et de périmètre Nom: **Clé**

**Utilisez les diagrammes ci-dessous pour créer un rectangle avec l'aire/le périmètre indiqué. Chaque SVGREPLACE = 1 unité(u). Répondez avec la longueur et la hauteur. Les réponses varieront.**

**1)** Superficie des unités carrées 36.



**2)** Périmètre des unités 38.



**3)** Superficie des unités carrées 7.



**4)** Superficie des unités carrées 16.



**5)** Périmètre des unités 28.



**6)** Périmètre des unités 40.



**7)** Périmètre des unités 22.



**8)** Superficie des unités carrées 21.



**9)** Superficie des unités carrées 12.



**10)** Superficie des unités carrées 3.



**11)** Superficie des unités carrées 9.



**12)** Périmètre des unités 18.



## Réponses

1. ___ ___ =36u²
2. ___ ___ =38u
3. ___ ___ =7u²
4. ___ ___ =16u²
5. ___ ___ =28u
6. ___ ___ =40u
7. ___ ___ =22u
8. ___ ___ =21u²
9. ___ ___ =12u²
10. ___ ___ =3u²
11. ___ ___ =9u²
12. ___ ___ =18u



| | | | | | | | | | | |
|---|---|---|---|---|---|---|---|---|---|---|
| 1-10 | 92 | 83 | 75 | 67 | 58 | 50 | 42 | 33 | 25 | 17 |
| 11-12 | 8 | 0 | | | | | | | | |