Création de rectangles de zone et de périmètre Nom:

Utilisez les diagrammes ci-dessous pour créer un rectangle avec l'aire/le périmètre indiqué. Chaque SVGREPLACE = 1 unité(u). Répondez avec la longueur et la hauteur. Les réponses varieront.

1) Périmètre des unités 40.



2) Périmètre des unités 12.



3) Superficie des unités carrées 21.



4) Périmètre des unités 36.



5) Périmètre des unités 32.



6) Périmètre des unités 8.



7) Superficie des unités carrées 72.



8) Superficie des unités carrées 9.



9) Superficie des unités carrées 3.



10) Superficie des unités carrées 10.



11) Périmètre des unités 4.



12) Superficie des unités carrées 56.



Réponses

1. ____ ____ =40u
2. ____ ____ =12u
3. ____ ____ =21u^2
4. ____ ____ =36u
5. ____ ____ =32u
6. ____ ____ =8u
7. ____ ____ =72u^2
8. ____ ____ =9u^2
9. ____ ____ =3u^2
10. ____ ____ =10u^2
11. ____ ____ =4u
12. ____ ____ =56u^2

1-10	92	83	75	67	58	50	42	33	25	17
11-12	8	0								

Création de rectangles de zone et de périmètre Nom: **Clé**

Utilisez les diagrammes ci-dessous pour créer un rectangle avec l'aire/le périmètre indiqué. Chaque SVGREPLACE = 1 unité(u). Répondez avec la longueur et la hauteur. Les réponses varieront.

1) Périmètre des unités 40.



2) Périmètre des unités 12.



3) Superficie des unités carrées 21.



4) Périmètre des unités 36.



5) Périmètre des unités 32.



6) Périmètre des unités 8.



7) Superficie des unités carrées 72.



8) Superficie des unités carrées 9.



9) Superficie des unités carrées 3.



10) Superficie des unités carrées 10.



11) Périmètre des unités 4.



12) Superficie des unités carrées 56.



Réponses

1. ____ ____ =40u
2. ____ ____ =12u
3. ____ ____ $=21u^2$
4. ____ ____ =36u
5. ____ ____ =32u
6. ____ ____ =8u
7. ____ ____ $=72u^2$
8. ____ ____ $=9u^2$
9. ____ ____ $=3u^2$
10. ____ ____ $=10u^2$
11. ____ ____ =4u
12. ____ ____ $=56u^2$

1-10	92	83	75	67	58	50	42	33	25	17
11-12	8	0								