Création de rectangles de zone et de périmètre Nom:

Utilisez les diagrammes ci-dessous pour créer un rectangle avec l'aire/le périmètre indiqué. Chaque SVGREPLACE = 1 unité(u). Répondez avec la longueur et la hauteur. Les réponses varieront.

1) Périmètre des unités 34.



2) Superficie des unités carrées 30.



3) Périmètre des unités 16.



4) Périmètre des unités 12.



5) Superficie des unités carrées 18.



6) Superficie des unités carrées 56.



7) Superficie des unités carrées 49.



8) Superficie des unités carrées 24.



9) Superficie des unités carrées 8.



10) Périmètre des unités 6.



11) Périmètre des unités 32.



12) Périmètre des unités 20.



Réponses

1. ____ ____ =34u
2. ____ ____ =30u^2
3. ____ ____ =16u
4. ____ ____ =12u
5. ____ ____ =18u^2
6. ____ ____ =56u^2
7. ____ ____ =49u^2
8. ____ ____ =24u^2
9. ____ ____ =8u^2
10. ____ ____ =6u
11. ____ ____ =32u
12. ____ ____ =20u

Création de rectangles de zone et de périmètre Nom: **Clé**

Utilisez les diagrammes ci-dessous pour créer un rectangle avec l'aire/le périmètre indiqué. Chaque SVGREPLACE = 1 unité(u). Répondez avec la longueur et la hauteur. Les réponses varieront.

1) Périmètre des unités 34.



2) Superficie des unités carrées 30.



3) Périmètre des unités 16.



4) Périmètre des unités 12.



5) Superficie des unités carrées 18.



6) Superficie des unités carrées 56.



7) Superficie des unités carrées 49.



8) Superficie des unités carrées 24.



9) Superficie des unités carrées 8.



10) Périmètre des unités 6.



11) Périmètre des unités 32.



12) Périmètre des unités 20.



Réponses

1. ____ ____ =34u
2. ____ ____ =30u^2
3. ____ ____ =16u
4. ____ ____ =12u
5. ____ ____ =18u^2
6. ____ ____ =56u^2
7. ____ ____ =49u^2
8. ____ ____ =24u^2
9. ____ ____ =8u^2
10. ____ ____ =6u
11. ____ ____ =32u
12. ____ ____ =20u

1-10	92	83	75	67	58	50	42	33	25	17
11-12	8	0								