Rectangles - Même zone et périmètre différent Nom:

Résoudre chaque problème.

1) Le rectangle ci-dessous a les dimensions 3×3. Créez un rectangle avec la même aire, mais un périmètre différent.

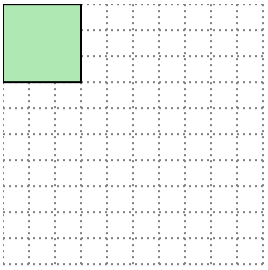



2) Le rectangle ci-dessous a les dimensions 2×9. Créez un rectangle avec la même aire, mais un périmètre différent.

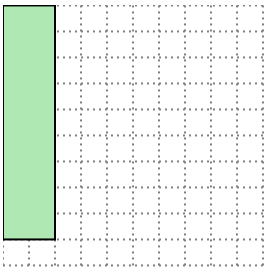



3) Le rectangle ci-dessous a les dimensions 4×5. Créez un rectangle avec la même aire, mais un périmètre différent.

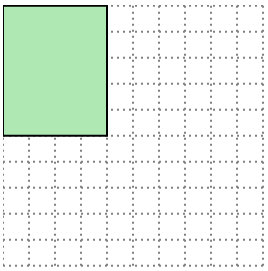



4) Le rectangle ci-dessous a les dimensions 2×3. Créez un rectangle avec la même aire, mais un périmètre différent.

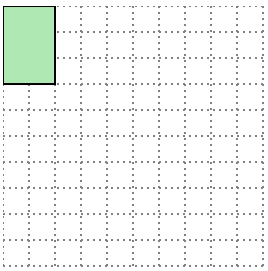



5) Le rectangle ci-dessous a les dimensions 2×4. Créez un rectangle avec la même aire, mais un périmètre différent.

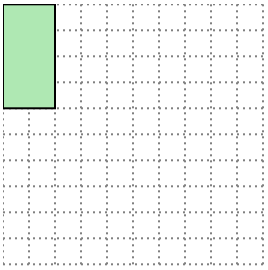



Réponses

1. _____
2. _____
3. _____
4. _____
5. _____

1-5	80	60	40	20	0

Rectangles - Même zone et périmètre différent Nom: **Clé**

Résoudre chaque problème.

1) Le rectangle ci-dessous a les dimensions 3×3. Créez un rectangle avec la même aire, mais un périmètre différent.

1×9

2) Le rectangle ci-dessous a les dimensions 2×9. Créez un rectangle avec la même aire, mais un périmètre différent.

3×6

3) Le rectangle ci-dessous a les dimensions 4×5. Créez un rectangle avec la même aire, mais un périmètre différent.

2×10

4) Le rectangle ci-dessous a les dimensions 2×3. Créez un rectangle avec la même aire, mais un périmètre différent.

1×6

5) Le rectangle ci-dessous a les dimensions 2×4. Créez un rectangle avec la même aire, mais un périmètre différent.

1×8

Réponses

1. **1×9**
2. **3×6**
3. **2×10**
4. **1×6**
5. **1×8**

1-5	80	60	40	20	0