Résoudre chaque problème.

1) Le rectangle ci-dessous a les dimensions 2×9. Créez un rectangle avec la même aire, mais un périmètre différent.

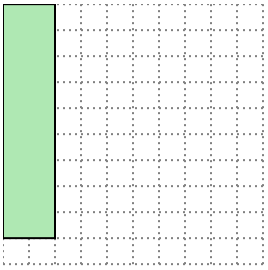



2) Le rectangle ci-dessous a les dimensions 2×8. Créez un rectangle avec la même aire, mais un périmètre différent.

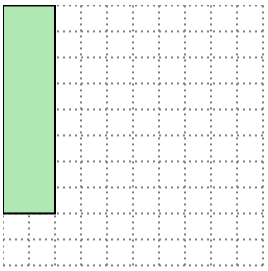



3) Le rectangle ci-dessous a les dimensions 5×6. Créez un rectangle avec la même aire, mais un périmètre différent.

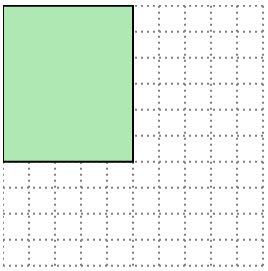



4) Le rectangle ci-dessous a les dimensions 5×8. Créez un rectangle avec la même aire, mais un périmètre différent.

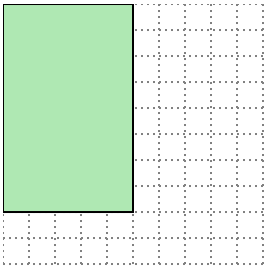



5) Le rectangle ci-dessous a les dimensions 2×4. Créez un rectangle avec la même aire, mais un périmètre différent.

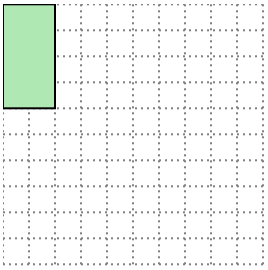



Réponses

1. _____
2. _____
3. _____
4. _____
5. _____

1-5	80	60	40	20	0

Rectangles - Même zone et périmètre différent Nom: **Clé**

Résoudre chaque problème.

1) Le rectangle ci-dessous a les dimensions 2×9. Créez un rectangle avec la même aire, mais un périmètre différent.

3×6

2) Le rectangle ci-dessous a les dimensions 2×8. Créez un rectangle avec la même aire, mais un périmètre différent.

4×4

3) Le rectangle ci-dessous a les dimensions 5×6. Créez un rectangle avec la même aire, mais un périmètre différent.

3×10

4) Le rectangle ci-dessous a les dimensions 5×8. Créez un rectangle avec la même aire, mais un périmètre différent.

4×10

5) Le rectangle ci-dessous a les dimensions 2×4. Créez un rectangle avec la même aire, mais un périmètre différent.

1×8

Réponses

1. **3×6**
2. **4×4**
3. **3×10**
4. **4×10**
5. **1×8**

1-5	80	60	40	20	0