Résoudre chaque problème.

1) Le rectangle ci-dessous a les dimensions 1×8. Créez un rectangle avec la même aire, mais un périmètre différent.

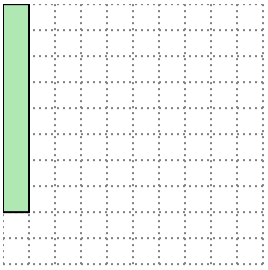



2) Le rectangle ci-dessous a les dimensions 3×4. Créez un rectangle avec la même aire, mais un périmètre différent.

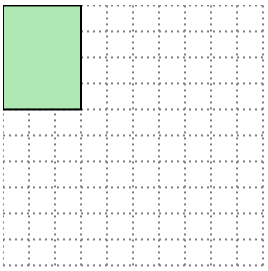



3) Le rectangle ci-dessous a les dimensions 4×5. Créez un rectangle avec la même aire, mais un périmètre différent.

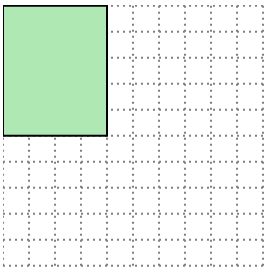



4) Le rectangle ci-dessous a les dimensions 2×5. Créez un rectangle avec la même aire, mais un périmètre différent.

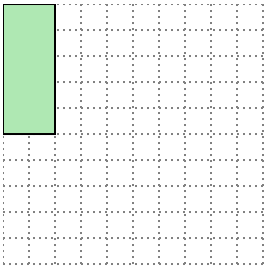



5) Le rectangle ci-dessous a les dimensions 1×4. Créez un rectangle avec la même aire, mais un périmètre différent.

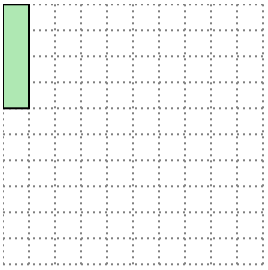



Réponses

1. _____
2. _____
3. _____
4. _____
5. _____

1-5	80	60	40	20	0

Rectangles - Même zone et périmètre différent Nom: **Clé**

Résoudre chaque problème.

1) Le rectangle ci-dessous a les dimensions 1×8. Créez un rectangle avec la même aire, mais un périmètre différent.

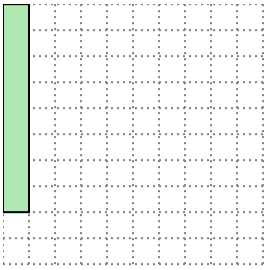



2×4

2) Le rectangle ci-dessous a les dimensions 3×4. Créez un rectangle avec la même aire, mais un périmètre différent.

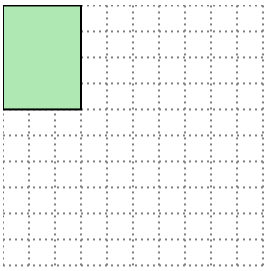



2×6

3) Le rectangle ci-dessous a les dimensions 4×5. Créez un rectangle avec la même aire, mais un périmètre différent.

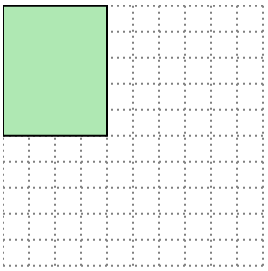



2×10

4) Le rectangle ci-dessous a les dimensions 2×5. Créez un rectangle avec la même aire, mais un périmètre différent.

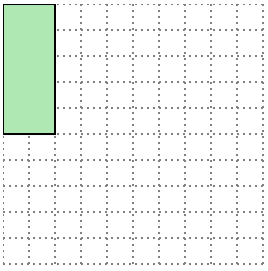



1×10

5) Le rectangle ci-dessous a les dimensions 1×4. Créez un rectangle avec la même aire, mais un périmètre différent.

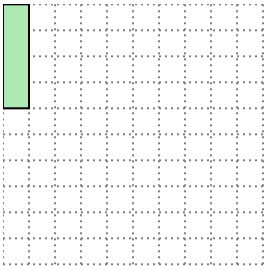



2×2

Réponses

1. **2×4**
2. **2×6**
3. **2×10**
4. **1×10**
5. **2×2**

1-5	80	60	40	20	0