Rectangles - Même périmètre et zone différente Nom:

Résoudre chaque problème.

1) Le rectangle ci-dessous a les dimensions 2×5. Créez un rectangle avec le même périmètre, mais une zone différente.

2) Le rectangle ci-dessous a les dimensions 1×4. Créez un rectangle avec le même périmètre, mais une zone différente.

3) Le rectangle ci-dessous a les dimensions 2×9. Créez un rectangle avec le même périmètre, mais une zone différente.

4) Le rectangle ci-dessous a les dimensions 1×8. Créez un rectangle avec le même périmètre, mais une zone différente.



5) Le rectangle ci-dessous a les dimensions 3×10. Créez un rectangle avec le même périmètre, mais une zone différente.

Réponses

1. _____
2. _____
3. _____
4. _____
5. _____

1-5	80	60	40	20	0

Rectangles - Même périmètre et zone différente Nom: **Clé**

Résoudre chaque problème.

1) Le rectangle ci-dessous a les dimensions 2×5. Créez un rectangle avec le même périmètre, mais une zone différente.

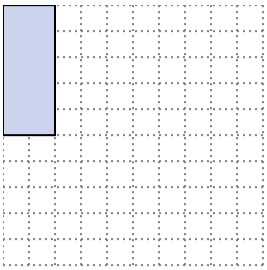



1x6
3x4

2) Le rectangle ci-dessous a les dimensions 1×4. Créez un rectangle avec le même périmètre, mais une zone différente.

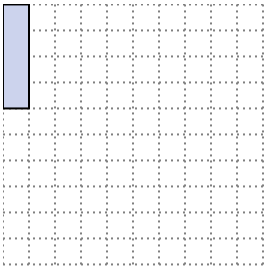



2x3

3) Le rectangle ci-dessous a les dimensions 2×9. Créez un rectangle avec le même périmètre, mais une zone différente.

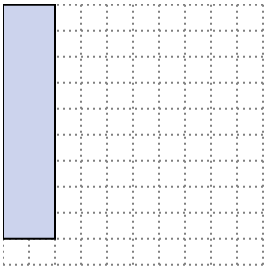



5x6
1x10

4) Le rectangle ci-dessous a les dimensions 1×8. Créez un rectangle avec le même périmètre, mais une zone différente.

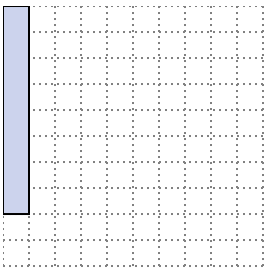



2x7
4x5

5) Le rectangle ci-dessous a les dimensions 3×10. Créez un rectangle avec le même périmètre, mais une zone différente.

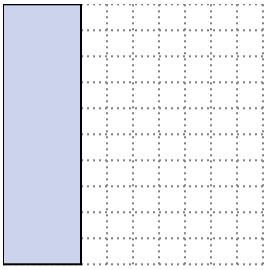



4x9
6x7

Réponses

1. **1×6 : 3×4**
2. **2×3**
3. **5×6 : 1×10**
4. **2×7 : 4×5**
5. **4×9 : 6×7**

1-5	80	60	40	20	0