Estimation de la capacité (métrique)

Nom:

Déterminez quelle lettre représente le mieux le volume.

Milliliter

Un mililitro equivale a unas 20 gotas de agua.

Liter

Muchas botellas grandes de refrescos tienen 1 o 2 litros.

1 Liter = 1,000 Milliliters

1)

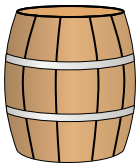

L'eau qu'un baril contient

A. 5 Millilitres

B. 200 Millilitres

C. 3 Litres

D. 200 Litres

2)

De l'eau pour une plante d'intérieur

A. 80 Litres

B. 500 Millilitres

C. 3 Litres

D. 2 Millilitres

3)

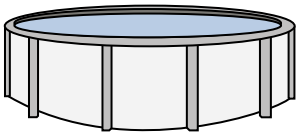

De l'eau dans une piscine

A. 12000 Millilitres

B. 12000 Litres

C. 800 Millilitres

D. 800 Litres

4)

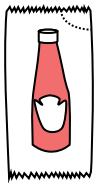

Ketchup dans un paquet

A. 50 Millilitres

B. 500 Millilitres

C. 1 milliliter

D. 1 Litre

5)

Liquide dans une tasse de thé

A. 2 Millilitres

B. 5 Litres

C. 2 Litres

D. 250 Millilitres

6)

Liquide dans un pichet

A. 500 Millilitres

B. 20 Millilitres

C. 5 Litres

D. 1 Litre

7)

Liquide qu'une cuillère contient

A. 5 Litres

B. 500 Millilitres

C. 1 Litre

8)

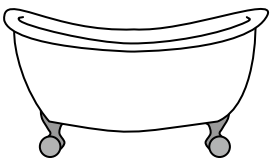

Baignoire

A. 5 Millilitres

B. 500 Millilitres

C. 3 Litres

D. 170 Litres

9)

Gallon de lait

A. 750 Millilitres

B. 3.75 Litres

C. 1 Litre

D. 50 Millilitres

Réponses

1. _____
2. _____
3. _____
4. _____
5. _____
6. _____
7. _____
8. _____
9. _____

1-9	89	78	67	56	44	33	22	11	0

Estimation de la capacité (métrique) Nom: **Clé**

Déterminez quelle lettre représente le mieux le volume.

Milliliter

Un mililitro equivale a unas 20 gotas de agua.

Liter

Muchas botellas grandes de refrescos tienen 1 o 2 litros.

1 Liter = 1,000 Milliliters

1)

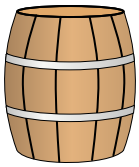

L'eau qu'un baril contient

A. 5 Millilitres

B. 200 Millilitres

C. 3 Litres

D. 200 Litres

2)

De l'eau pour une plante d'intérieur

A. 80 Litres

B. 500 Millilitres

C. 3 Litres

D. 2 Millilitres

3)

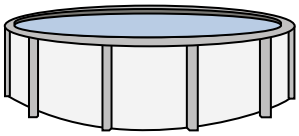

De l'eau dans une piscine

A. 12000 Millilitres

B. 12000 Litres

C. 800 Millilitres

D. 800 Litres

4)

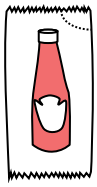

Ketchup dans un paquet

A. 50 Millilitres

B. 500 Millilitres

C. 1 milliliter

D. 1 Litre

5)

Liquide dans une tasse de thé

A. 2 Millilitres

B. 5 Litres

C. 2 Litres

D. 250 Millilitres

6)

Liquide dans un pichet

A. 500 Millilitres

B. 20 Millilitres

C. 5 Litres

D. 1 Litre

7)

Liquide qu'une cuillère contient

A. 5 Litres

B. 500 Millilitres

C. 1 Litre

8)

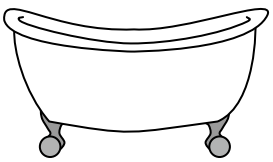

Baignoire

A. 5 Millilitres

B. 500 Millilitres

C. 3 Litres

D. 170 Litres

9)

Gallon de lait

A. 750 Millilitres

B. 3.75 Litres

C. 1 Litre

D. 50 Millilitres

Réponses

1. **D**
2. **B**
3. **B**
4. **C**
5. **D**
6. **C**
7. **D**
8. **D**
9. **B**