Comparer des fractions aux décimales avec la droite numérique Nom:

Utilisez la droite numérique pour résoudre chaque problème.

1) Quel montant est le plus grand, $^{2}/_{9}$ ou 0,34 ?

2) Quel montant est le plus grand, $^{3}/_{6}$ ou 0,68 ?

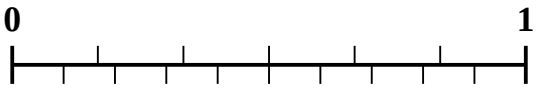

3) Quel montant est le plus grand, $^{6}/_{7}$ ou 0,72 ?

4) Quel montant est le plus grand, $^{4}/_{6}$ ou 0,47 ?

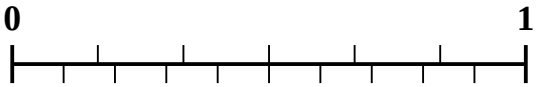

5) Quel montant est le plus grand, $^{3}/_{7}$ ou 0,54 ?

6) Quel montant est le plus grand, $^{1}/_{3}$ ou 0,51 ?

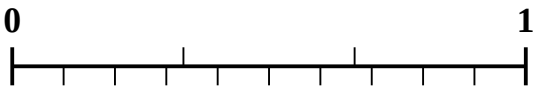

7) Quel montant est le plus grand, $^{5}/_{7}$ ou 0,54 ?

8) Quel montant est le plus grand, $^{3}/_{4}$ ou 0,89 ?

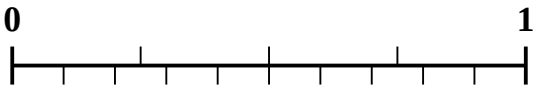

9) Quel montant est le plus grand, $^{4}/_{5}$ ou 0,6 ?

10) Quel montant est le plus grand, $^{1}/_{2}$ ou 0,34 ?

Réponses

1. _____
2. _____
3. _____
4. _____
5. _____
6. _____
7. _____
8. _____
9. _____
10. _____

1-10	90	80	70	60	50	40	30	20	10	0

Comparer des fractions aux décimales avec la droite numérique Nom: **Clé**

Utilisez la droite numérique pour résoudre chaque problème.

1) Quel montant est le plus grand, $^{2}/_{9}$ ou 0,34 ?

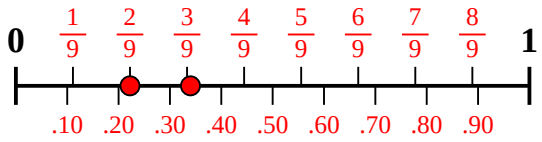

2) Quel montant est le plus grand, $^{3}/_{6}$ ou 0,68 ?

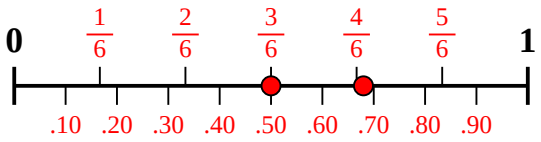

3) Quel montant est le plus grand, $^{6}/_{7}$ ou 0,72 ?

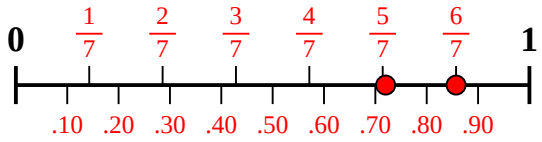

4) Quel montant est le plus grand, $^{4}/_{6}$ ou 0,47 ?

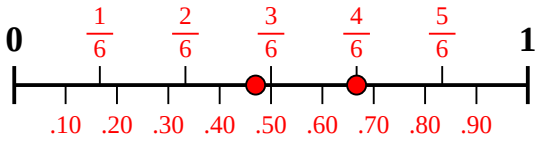

5) Quel montant est le plus grand, $^{3}/_{7}$ ou 0,54 ?

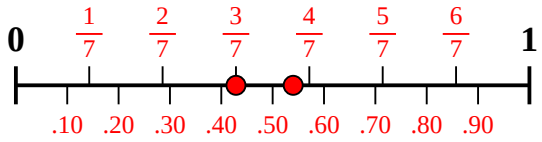

6) Quel montant est le plus grand, $^{1}/_{3}$ ou 0,51 ?

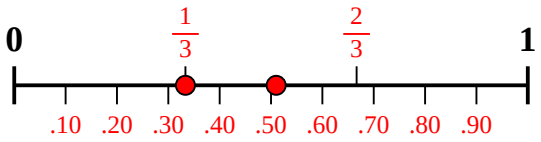

7) Quel montant est le plus grand, $^{5}/_{7}$ ou 0,54 ?

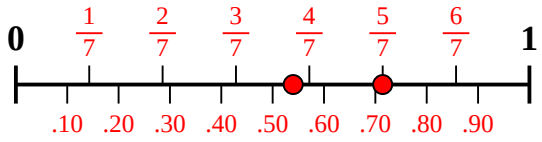

8) Quel montant est le plus grand, $^{3}/_{4}$ ou 0,89 ?

9) Quel montant est le plus grand, $^{4}/_{5}$ ou 0,6 ?

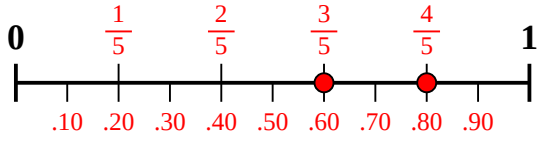

10) Quel montant est le plus grand, $^{1}/_{2}$ ou 0,34 ?

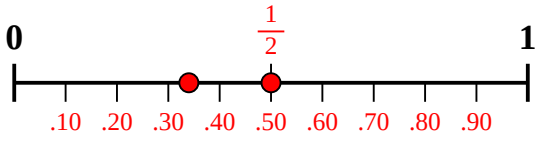

Réponses

1. **0,34**
2. **0,68**
3. **$^{6}/_{7}$**
4. **$^{4}/_{6}$**
5. **0,54**
6. **0,51**
7. **$^{5}/_{7}$**
8. **0,89**
9. **$^{4}/_{5}$**
10. **$^{1}/_{2}$**

1-10	90	80	70	60	50	40	30	20	10	0