Utilisez la droite numérique pour résoudre chaque problème.

1) Quel montant est le plus grand, $^{4}/_{10}$ ou 0,52 ?

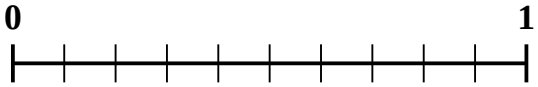

2) Quel montant est le plus grand, $^{1}/_{4}$ ou 0,39 ?

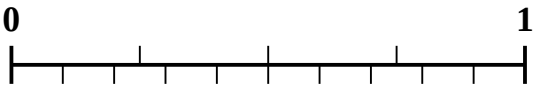

3) Quel montant est le plus grand, $^{1}/_{2}$ ou 0,64 ?

4) Quel montant est le plus grand, $^{2}/_{3}$ ou 0,55 ?

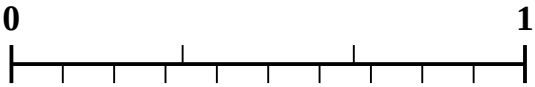

5) Quel montant est le plus grand, $^{4}/_{6}$ ou 0,85 ?

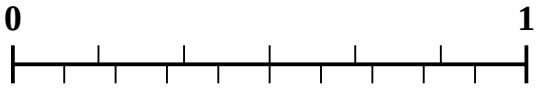

6) Quel montant est le plus grand, $^{2}/_{4}$ ou 0,38 ?

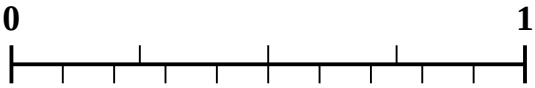

7) Quel montant est le plus grand, $^{8}/_{9}$ ou 0,76 ?

8) Quel montant est le plus grand, $^{6}/_{8}$ ou 0,6 ?

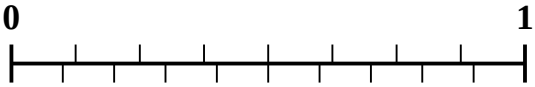

9) Quel montant est le plus grand, $^{5}/_{7}$ ou 0,54 ?

10) Quel montant est le plus grand, $^{6}/_{7}$ ou 0,69 ?

Réponses

1. _____
2. _____
3. _____
4. _____
5. _____
6. _____
7. _____
8. _____
9. _____
10. _____

1-10	90	80	70	60	50	40	30	20	10	0

Comparer des fractions aux décimales avec la droite numérique Nom: **Clé**

Utilisez la droite numérique pour résoudre chaque problème.

1) Quel montant est le plus grand, $^{4}/_{10}$ ou 0,52 ?

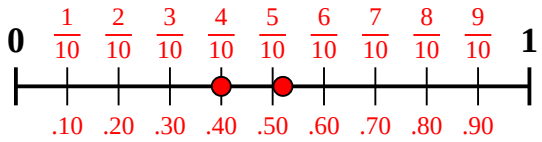

2) Quel montant est le plus grand, $^{1}/_{4}$ ou 0,39 ?

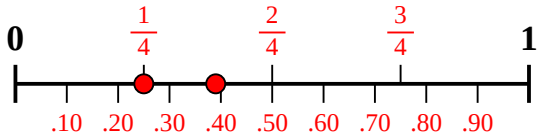

3) Quel montant est le plus grand, $^{1}/_{2}$ ou 0,64 ?

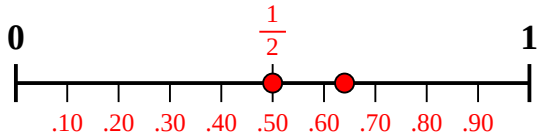

4) Quel montant est le plus grand, $^{2}/_{3}$ ou 0,55 ?

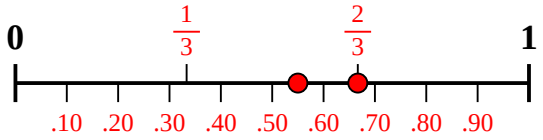

5) Quel montant est le plus grand, $^{4}/_{6}$ ou 0,85 ?

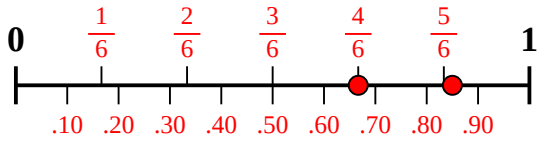

6) Quel montant est le plus grand, $^{2}/_{4}$ ou 0,38 ?

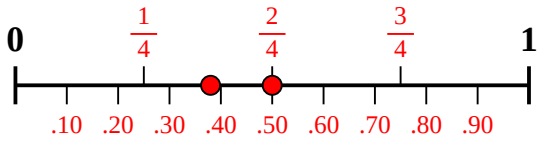

7) Quel montant est le plus grand, $^{8}/_{9}$ ou 0,76 ?

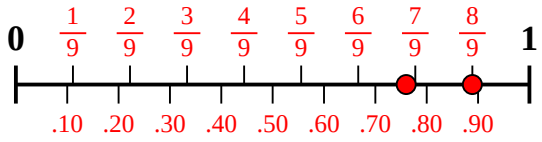

8) Quel montant est le plus grand, $^{6}/_{8}$ ou 0,6 ?

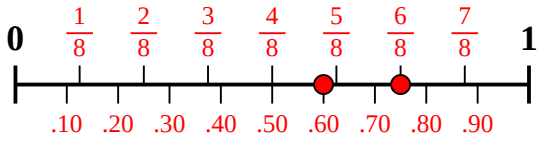

9) Quel montant est le plus grand, $^{5}/_{7}$ ou 0,54 ?

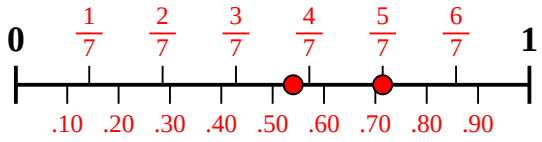

10) Quel montant est le plus grand, $^{6}/_{7}$ ou 0,69 ?

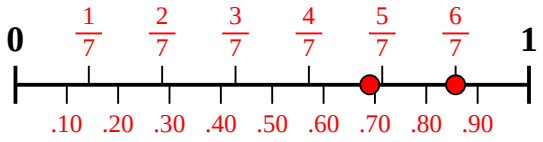

Réponses

1. **0,52**
2. **0,39**
3. **0,64**
4. $^{2}/_{3}$
5. **0,85**
6. $^{2}/_{4}$
7. $^{8}/_{9}$
8. $^{6}/_{8}$
9. $^{5}/_{7}$
10. $^{6}/_{7}$

1-10	90	80	70	60	50	40	30	20	10	0