Utilisez la droite numérique pour résoudre chaque problème.

1) Quel montant est le plus grand, $^{6}/_{10}$ ou 0,47 ?

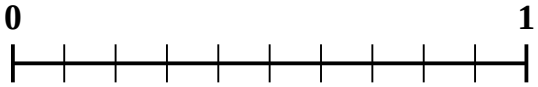

2) Quel montant est le plus grand, $^{3}/_{4}$ ou 0,89 ?

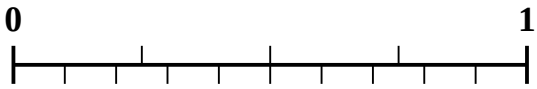

3) Quel montant est le plus grand, $^{5}/_{10}$ ou 0,6 ?

4) Quel montant est le plus grand, $^{7}/_{8}$ ou 0,78 ?

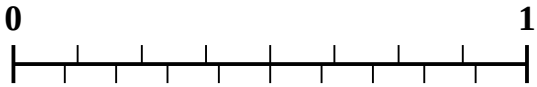

5) Quel montant est le plus grand, $^{1}/_{3}$ ou 0,19 ?

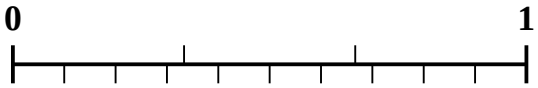

6) Quel montant est le plus grand, $^{2}/_{6}$ ou 0,44 ?

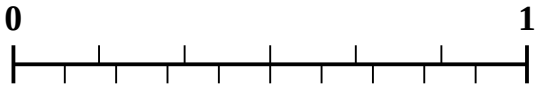

7) Quel montant est le plus grand, $^{3}/_{5}$ ou 0,43 ?

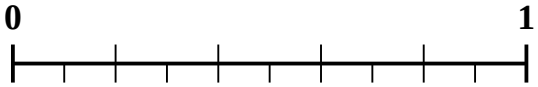

8) Quel montant est le plus grand, $^{2}/_{5}$ ou 0,56 ?

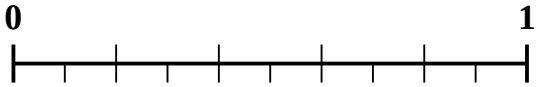

9) Quel montant est le plus grand, $^{4}/_{5}$ ou 0,69 ?

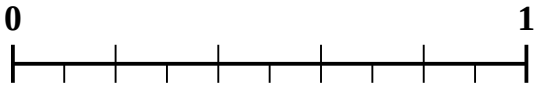

10) Quel montant est le plus grand, $^{1}/_{2}$ ou 0,6 ?

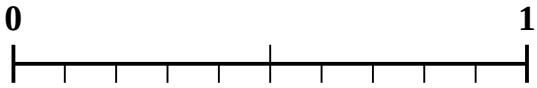

Réponses

1. _____
2. _____
3. _____
4. _____
5. _____
6. _____
7. _____
8. _____
9. _____
10. _____

1-10	90	80	70	60	50	40	30	20	10	0

Comparer des fractions aux décimales avec la droite numérique Nom: **Clé**

Utilisez la droite numérique pour résoudre chaque problème.

1) Quel montant est le plus grand, $^{6}/_{10}$ ou 0,47 ?

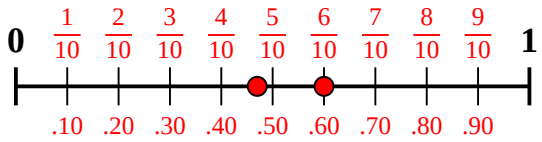

2) Quel montant est le plus grand, $^{3}/_{4}$ ou 0,89 ?

3) Quel montant est le plus grand, $^{5}/_{10}$ ou 0,6 ?

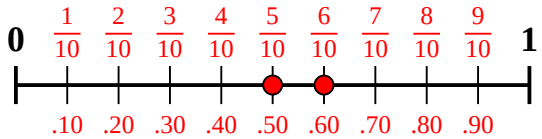

4) Quel montant est le plus grand, $^{7}/_{8}$ ou 0,78 ?

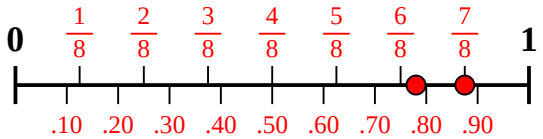

5) Quel montant est le plus grand, $^{1}/_{3}$ ou 0,19 ?

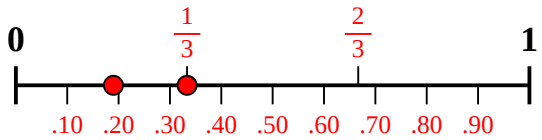

6) Quel montant est le plus grand, $^{2}/_{6}$ ou 0,44 ?

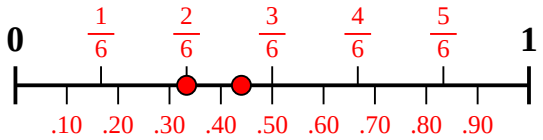

7) Quel montant est le plus grand, $^{3}/_{5}$ ou 0,43 ?

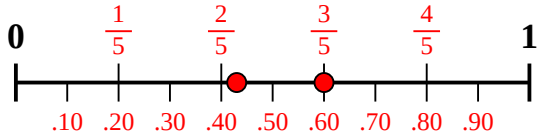

8) Quel montant est le plus grand, $^{2}/_{5}$ ou 0,56 ?

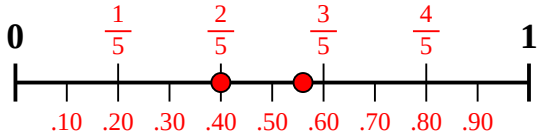

9) Quel montant est le plus grand, $^{4}/_{5}$ ou 0,69 ?

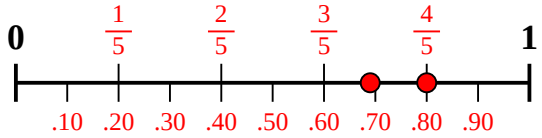

10) Quel montant est le plus grand, $^{1}/_{2}$ ou 0,6 ?

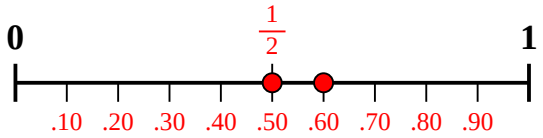

Réponses

1. $^{6}/_{10}$
2. **0,89**
3. **0,6**
4. $^{7}/_{8}$
5. $^{1}/_{3}$
6. **0,44**
7. $^{3}/_{5}$
8. **0,56**
9. $^{4}/_{5}$
10. **0,6**

1-10	90	80	70	60	50	40	30	20	10	0