Détermination de Fractions Visuelle

Nom:

Quelle proposition permet de répondre à chaque question.

1) Laquelle de ces représentation représente la valeur de $^{2}/_{8}$?

A.
B.
C. 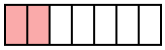
D. 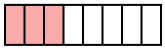

2) Laquelle de ces représentation représente la valeur de $^{6}/_{10}$?

A.
B.
C.
D. 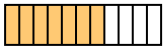

3) Laquelle de ces représentation représente la valeur de $^{4}/_{7}$?

A. 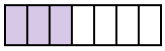
B. 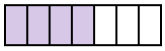
C.
D.

4) Laquelle de ces représentation représente la valeur de $^{3}/_{5}$?

A.
B. 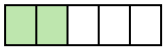
C. 
D.

5) Laquelle de ces représentation représente la valeur de $^{3}/_{7}$?

A.
B.
C.
D.

6) Laquelle de ces représentation représente la valeur de $^{3}/_{10}$?

A.
B.
C.
D.

7) Laquelle de ces représentation représente la valeur de $^{2}/_{10}$?

A.
B.
C.
D.

8) Laquelle de ces représentation représente la valeur de $^{4}/_{6}$?

A.
B.
C.
D.

9) Laquelle de ces représentation représente la valeur de $^{4}/_{10}$?

A. B. C. D.

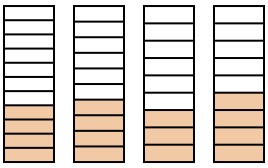

10) Laquelle de ces représentation représente la valeur de $^{7}/_{10}$?

A. B. C. D.

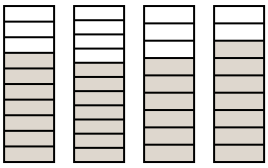

Réponses

1. _____
2. _____
3. _____
4. _____
5. _____
6. _____
7. _____
8. _____
9. _____
10. _____

1-10	90	80	70	60	50	40	30	20	10	0

Détermination de Fractions Visuelle Nom: **Clé**

Quelle proposition permet de répondre à chaque question.

1) Laquelle de ces représentation représente la valeur de $^{2}/_{8}$?

A.
B.
C. 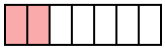
D. 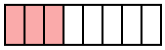

2) Laquelle de ces représentation représente la valeur de $^{6}/_{10}$?

A.
B.
C.
D. 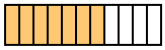

3) Laquelle de ces représentation représente la valeur de $^{4}/_{7}$?

A. 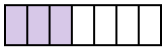
B. 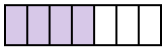
C.
D.

4) Laquelle de ces représentation représente la valeur de $^{3}/_{5}$?

A.
B. 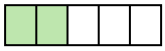
C. 
D.

5) Laquelle de ces représentation représente la valeur de $^{3}/_{7}$?

A.
B.
C.
D.

6) Laquelle de ces représentation représente la valeur de $^{3}/_{10}$?

A.
B.
C.
D.

7) Laquelle de ces représentation représente la valeur de $^{2}/_{10}$?

A.
B.
C.
D.

8) Laquelle de ces représentation représente la valeur de $^{4}/_{6}$?

A.
B.
C.
D.

9) Laquelle de ces représentation représente la valeur de $^{4}/_{10}$?

A. B. C. D.

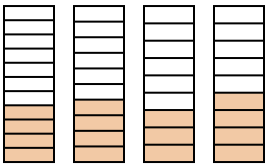

10) Laquelle de ces représentation représente la valeur de $^{7}/_{10}$?

A. B. C. D.

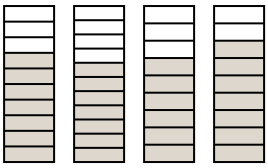

Réponses

1. A
2. A
3. B
4. D
5. A
6. A
7. C
8. A
9. B
10. A

1-10	90	80	70	60	50	40	30	20	10	0