Résoudre chaque problème.

Réponses

1. _____
2. _____
3. _____
4. _____
5. _____

1) *Lors d'une fête, les tasses étaient remplies de différentes quantités de soda.*

$\frac{6}{8}$ $\frac{2}{8}$ $\frac{6}{8}$ $\frac{5}{8}$ $\frac{7}{8}$

Si le soda avait été versé uniformément dans les tasses, quelle en serait la quantité dans chaque tasse ?

2) *Les seaux ci-dessous sont remplis partiellement de sable.*

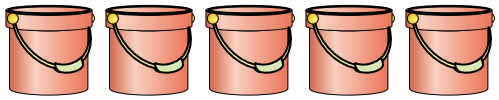

$\frac{1}{8}$ $\frac{6}{8}$ $\frac{2}{8}$ $\frac{1}{8}$ $\frac{3}{8}$

Si vous vouliez faire en sorte que chaque seau ait la même quantité, combien chaque seau serait-il rempli ?

3) *Regardez le poids des boîtes ci-dessous.*

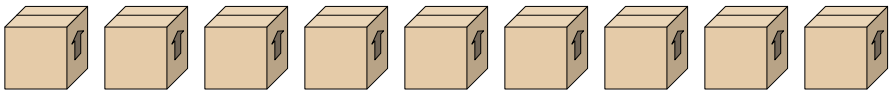

$\frac{6}{8}$ $\frac{4}{8}$ $\frac{7}{8}$ $\frac{4}{8}$ $\frac{4}{8}$ $\frac{5}{8}$ $\frac{3}{8}$ $\frac{5}{8}$ $\frac{1}{8}$

Si vous deviez redistribuer le matériel dans les boîtes de sorte que chaque boîte ait le même poids, combien pèseraient chacune ?

4) *Les sacs de bonbons ci-dessous sont des fractions de livre.*

$\frac{1}{4}$ $\frac{1}{4}$ $\frac{1}{4}$ $\frac{1}{4}$ $\frac{3}{4}$

Si vous deviez redistribuer les bonbons de manière à ce que chaque sac ait la même quantité, combien y en aurait-il dans chacun ?

5) *Un constructeur avait plusieurs boîtes de clous partiellement pleines.*

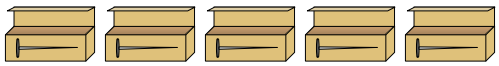

$\frac{7}{8}$ $\frac{2}{8}$ $\frac{4}{8}$ $\frac{3}{8}$ $\frac{2}{8}$

S'il réorganisait les clous pour que chaque boîte ait la même quantité, à quel point chaque boîte serait-elle pleine ?

1-5	80	60	40	20	0

Résoudre chaque problème.

1) *Lors d'une fête, les tasses étaient remplies de différentes quantités de soda.*

$\frac{6}{8}$ $\frac{2}{8}$ $\frac{6}{8}$ $\frac{5}{8}$ $\frac{7}{8}$

Si le soda avait été versé uniformément dans les tasses, quelle en serait la quantité dans chaque tasse ?

2) *Les seaux ci-dessous sont remplis partiellement de sable.*

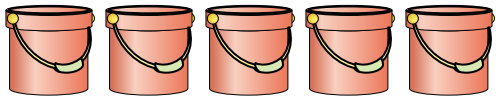

$\frac{1}{8}$ $\frac{6}{8}$ $\frac{2}{8}$ $\frac{1}{8}$ $\frac{3}{8}$

Si vous vouliez faire en sorte que chaque seau ait la même quantité, combien chaque seau serait-il rempli ?

3) *Regardez le poids des boîtes ci-dessous.*

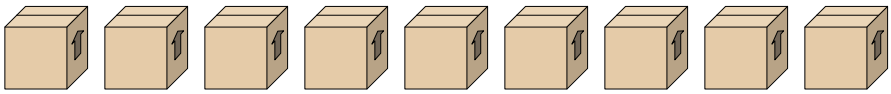

$\frac{6}{8}$ $\frac{4}{8}$ $\frac{7}{8}$ $\frac{4}{8}$ $\frac{4}{8}$ $\frac{5}{8}$ $\frac{3}{8}$ $\frac{5}{8}$ $\frac{1}{8}$

Si vous deviez redistribuer le matériel dans les boîtes de sorte que chaque boîte ait le même poids, combien pèseraient chacune ?

4) *Les sacs de bonbons ci-dessous sont des fractions de livre.*

$\frac{1}{4}$ $\frac{1}{4}$ $\frac{1}{4}$ $\frac{1}{4}$ $\frac{3}{4}$

Si vous deviez redistribuer les bonbons de manière à ce que chaque sac ait la même quantité, combien y en aurait-il dans chacun ?

5) *Un constructeur avait plusieurs boîtes de clous partiellement pleines.*

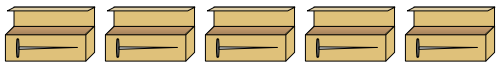

$\frac{7}{8}$ $\frac{2}{8}$ $\frac{4}{8}$ $\frac{3}{8}$ $\frac{2}{8}$

S'il réorganisait les clous pour que chaque boîte ait la même quantité, à quel point chaque boîte serait-elle pleine ?

Réponses

1. $\frac{26}{40} = \frac{13}{20}$
2. $\frac{13}{40}$
3. $\frac{39}{72} = \frac{13}{24}$
4. $\frac{7}{20}$
5. $\frac{18}{40} = \frac{9}{20}$

1-5	80	60	40	20	0