Distribution des valeurs de tracé de ligne Nom:

Résoudre chaque problème.

1) Le graphique ci-dessous montre les kilos de bonbons qu'un groupe d'amis a reçus.

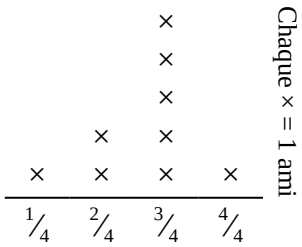

S'ils partageaient la quantité totale de bonbons à parts égales, combien chaque ami obtiendrait-il ?

2) Marco coupe une corde en différentes longueurs. Le tracé linéaire ci-dessous montre la longueur (en pieds) des pièces coupées.

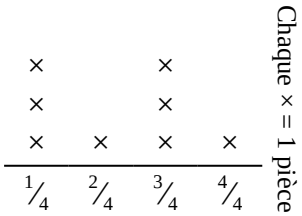

S'il avait coupé la corde pour que chaque morceau ait la même longueur, quelle serait la longueur de chaque morceau ?

3) Le graphique linéaire ci-dessous montre la quantité d'eau qu'une plante a reçue (en tasses) au cours de {8} jours.

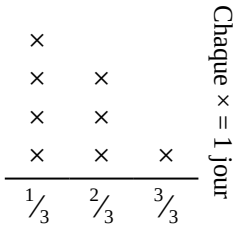

Trouvez combien de tasses d'eau la plante aurait reçue si elle en recevait la même quantité chaque jour.

4) La courbe ci-dessous montre le poids (en grammes) des bouteilles de vitamines.

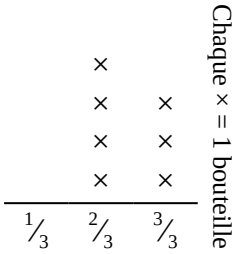

Si vous deviez redistribuer les vitamines, de sorte que chaque bouteille pèse la même quantité, quel serait le poids de chaque bouteille ?

5) Caterina a déchiré une feuille de papier en morceaux de différentes longueurs. Le tracé linéaire ci-dessous montre la longueur (en pouces) de chaque pièce.

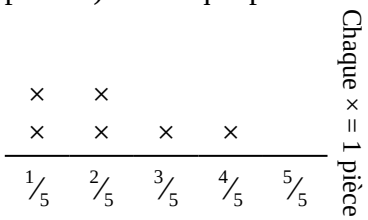

Si elle avait déchiré le drap en morceaux de taille égale, quelle serait la longueur de chaque morceau ?

6) Le tracé linéaire ci-dessous montre le poids (en tonnes) des cartons sur palettes.

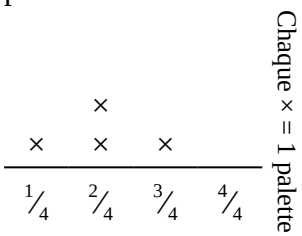

Si le poids était redistribué uniformément, quel serait le poids sur chaque palette ?

Réponses

1. _____
2. _____
3. _____
4. _____
5. _____
6. _____

1-6	83	67	50	33	17	0

Distribution des valeurs de tracé de ligne Nom: **Clé**

Résoudre chaque problème.

1) Le graphique ci-dessous montre les kilos de bonbons qu'un groupe d'amis a reçus.

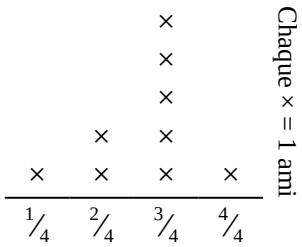

S'ils partageaient la quantité totale de bonbons à parts égales, combien chaque ami obtiendrait-il ?

2) Marco coupe une corde en différentes longueurs. Le tracé linéaire ci-dessous montre la longueur (en pieds) des pièces coupées.

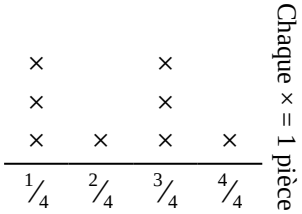

S'il avait coupé la corde pour que chaque morceau ait la même longueur, quelle serait la longueur de chaque morceau ?

3) Le graphique linéaire ci-dessous montre la quantité d'eau qu'une plante a reçue (en tasses) au cours de {8} jours.

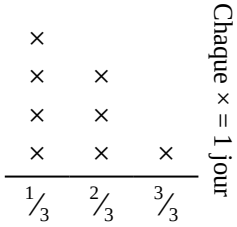

Trouvez combien de tasses d'eau la plante aurait reçue si elle en recevait la même quantité chaque jour.

4) La courbe ci-dessous montre le poids (en grammes) des bouteilles de vitamines.

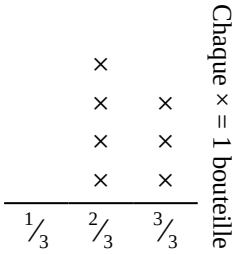

Si vous deviez redistribuer les vitamines, de sorte que chaque bouteille pèse la même quantité, quel serait le poids de chaque bouteille ?

5) Caterina a déchiré une feuille de papier en morceaux de différentes longueurs. Le tracé linéaire ci-dessous montre la longueur (en pouces) de chaque pièce.

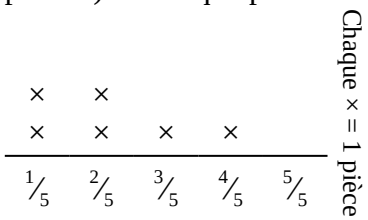

Si elle avait déchiré le drap en morceaux de taille égale, quelle serait la longueur de chaque morceau ?

6) Le tracé linéaire ci-dessous montre le poids (en tonnes) des cartons sur palettes.

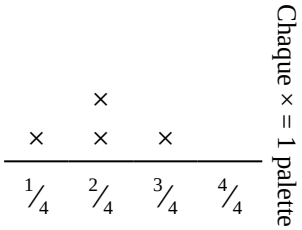

Si le poids était redistribué uniformément, quel serait le poids sur chaque palette ?

Réponses

1. $\frac{24}{36} = \frac{2}{3}$
2. $\frac{18}{32} = \frac{9}{16}$
3. $\frac{13}{24}$
4. $\frac{17}{21}$
5. $\frac{13}{30}$
6. $\frac{8}{16} = \frac{1}{2}$

1-6	83	67	50	33	17	0