# Fractions Équivalentes avec Droites Numériques

Nom:

**Utilisez la droite numérique pour répondre aux questions.**

**1)** A l'aide des droites numériques, quelle est la fraction équivalente à {VAR}

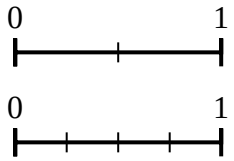


**2)** A l'aide des droites numériques, quelle est la fraction équivalente à {VAR}

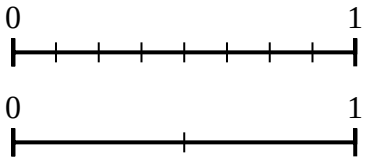


**3)** A l'aide des droites numériques, quelle est la fraction équivalente à {VAR}

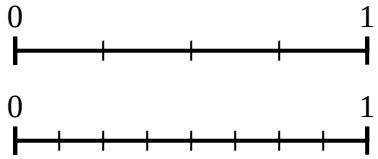


**4)** A l'aide des droites numériques, quelle est la fraction équivalente à {VAR}

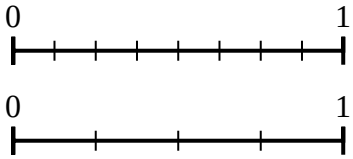


**5)** A l'aide des droites numériques, quelle est la fraction équivalente à {VAR}

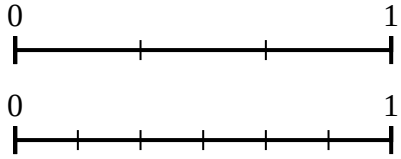


**6)** A l'aide des droites numériques, quelle est la fraction équivalente à {VAR}

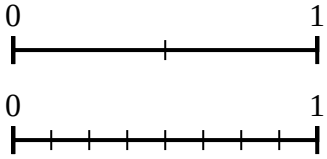


**7)** A l'aide des droites numériques, quelle est la fraction équivalente à {VAR}

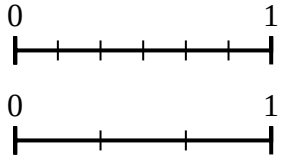


**8)** A l'aide des droites numériques, quelle est la fraction équivalente à {VAR}

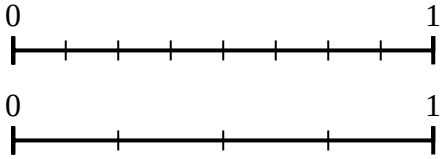


**Réponses**

1. _____
2. _____
3. _____
4. _____
5. _____
6. _____
7. _____
8. _____

# Fractions Équivalentes avec Droites Numériques

Nom: **Clé**

**Utilisez la droite numérique pour répondre aux questions.**

**1)** A l'aide des droites numériques, quelle est la fraction équivalente à {VAR}

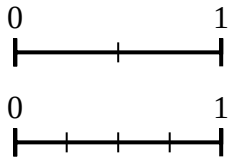


**2)** A l'aide des droites numériques, quelle est la fraction équivalente à {VAR}

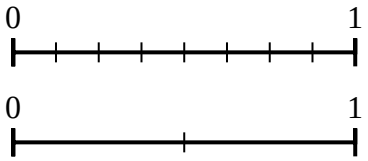


**3)** A l'aide des droites numériques, quelle est la fraction équivalente à {VAR}

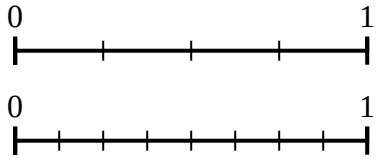


**4)** A l'aide des droites numériques, quelle est la fraction équivalente à {VAR}

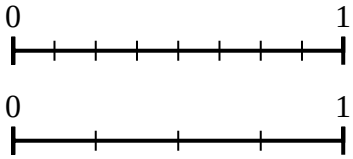


**5)** A l'aide des droites numériques, quelle est la fraction équivalente à {VAR}

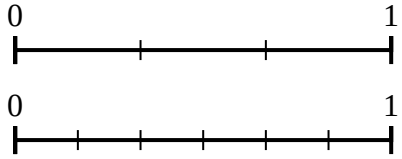


**6)** A l'aide des droites numériques, quelle est la fraction équivalente à {VAR}

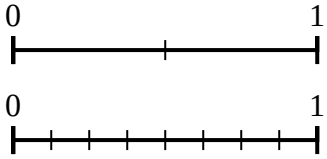


**7)** A l'aide des droites numériques, quelle est la fraction équivalente à {VAR}

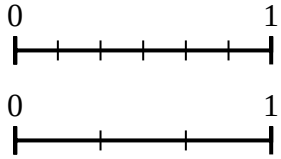


**8)** A l'aide des droites numériques, quelle est la fraction équivalente à {VAR}

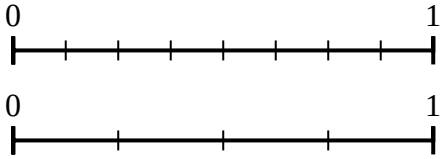


## Réponses

1. $\frac{2}{4}$
2. $\frac{2}{2}$
3. $\frac{8}{8}$
4. $\frac{1}{4}$
5. $\frac{6}{6}$
6. $\frac{4}{8}$
7. $\frac{1}{3}$
8. $\frac{2}{4}$



| 1-8 | 88 | 75 | 63 | 50 | 38 | 25 | 13 | 0 |
|---|---|---|---|---|---|---|---|---|