Résoudre chaque problème.

1) Exprimez la partie {MOT} comme une fraction du tout avec un 100 comme dénominateur.

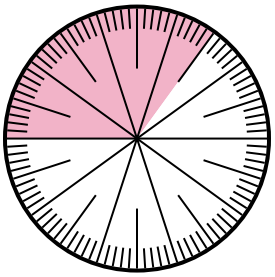

2) Exprimez la partie {MOT} sous la forme d'un nombre décimal du tout.

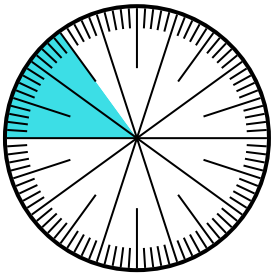

3) Exprimez la partie {MOT} sous la forme d'un nombre décimal du tout.

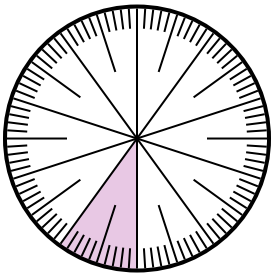

4) Exprimez la partie {MOT} comme une fraction du tout avec un 100 comme dénominateur.

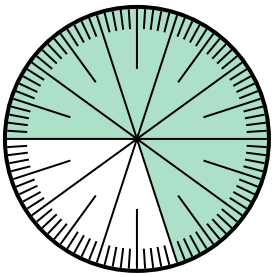

5) Exprimez la partie {MOT} sous la forme d'un nombre décimal du tout.

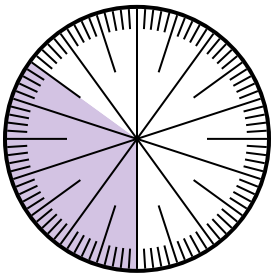

6) Exprimez la partie {MOT} sous la forme d'un nombre décimal du tout.

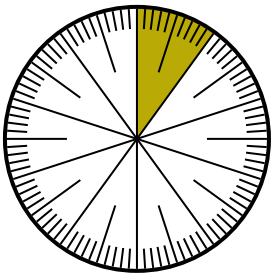

7) Exprimez la partie {MOT} sous la forme d'un nombre décimal du tout.

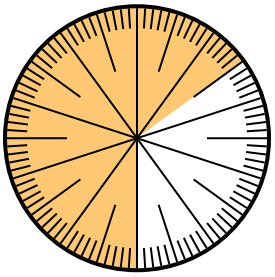

8) Exprimez la partie {MOT} comme une fraction du tout avec un 100 comme dénominateur.

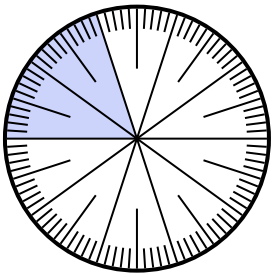

Réponses

1. _____
2. _____
3. _____
4. _____
5. _____
6. _____
7. _____
8. _____

1-8	88	75	63	50	38	25	13	0

Exprimer des fractions et des nombres décimaux à partir d'une roue numérique Nom: **Clé**

Résoudre chaque problème.

1) Exprimez la partie {MOT} comme une fraction du tout avec un 100 comme dénominateur.

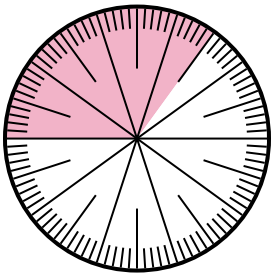

2) Exprimez la partie {MOT} sous la forme d'un nombre décimal du tout.

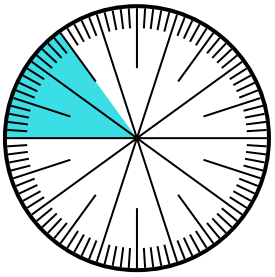

3) Exprimez la partie {MOT} sous la forme d'un nombre décimal du tout.

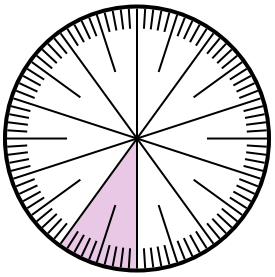

4) Exprimez la partie {MOT} comme une fraction du tout avec un 100 comme dénominateur.

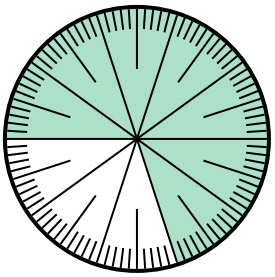

5) Exprimez la partie {MOT} sous la forme d'un nombre décimal du tout.

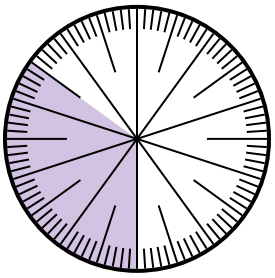

6) Exprimez la partie {MOT} sous la forme d'un nombre décimal du tout.

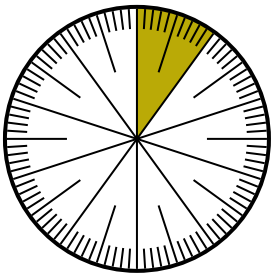

7) Exprimez la partie {MOT} sous la forme d'un nombre décimal du tout.

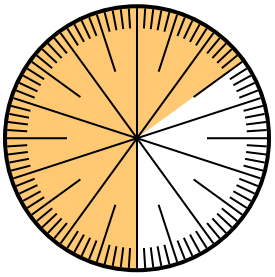

8) Exprimez la partie {MOT} comme une fraction du tout avec un 100 comme dénominateur.

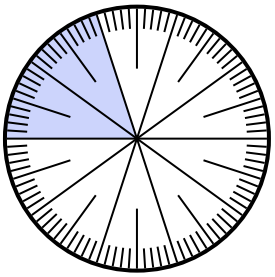

Réponses

1. $^{35}/_{100}$
2. 0,15
3. 0,1
4. $^{30}/_{100}$
5. 0,35
6. 0,9
7. 0,35
8. $^{80}/_{100}$

1-8	88	75	63	50	38	25	13	0