Résoudre chaque problème.

1) Quel choix représente la partie non ombrée de la roue des nombres ?

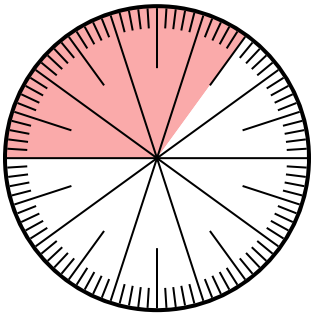

A. $^{65}/_{100}$ B. $^{6.5}/_{100}$

C. $^{35}/_{65}$ D. $^{6,50}/_{100}$

2) Quel choix représente la partie ombrée de la roue des nombres ?

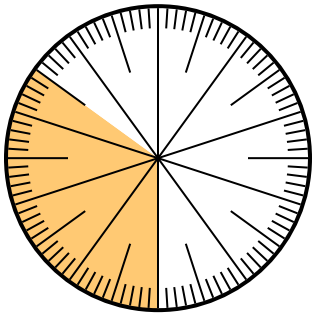

A. 3,50 B. 0,035

C. $^{3.5}/_{100}$ D. 0,35

3) Quel choix représente la partie ombrée de la roue des nombres ?

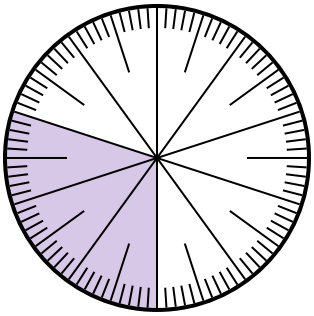

A. $^{30}/_{10}$ B. 0,3

C. 30,0 D. 3,0

4) Quel choix représente la partie non ombrée de la roue des nombres ?

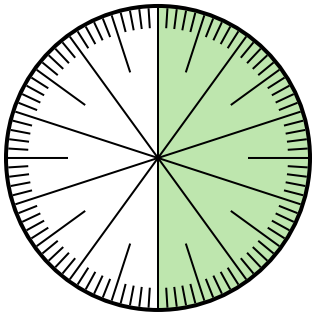

A. 0,50 B. $^{0.5}/_{100}$

C. 5 D. 50

5) Quel choix représente la partie ombrée de la roue des nombres ?

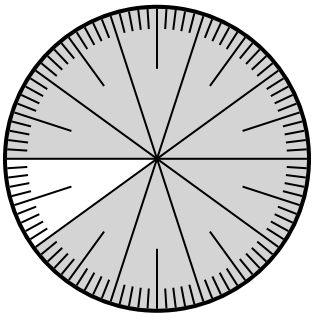

A. $^{90}/_{100}$ B. 0,090

C. 90 D. $^{9}/_{100}$

6) Quel choix représente la partie ombrée de la roue des nombres ?

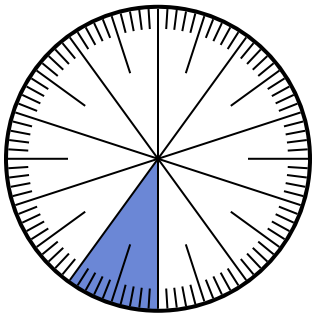

A. 0,10 B. 10

C. $^{0.1}/_{100}$ D. $^{1,00}/_{100}$

Réponses

1. _____
2. _____
3. _____
4. _____
5. _____
6. _____

1-6	83	67	50	33	17	0

Identifier les fractions et les décimales sur une roue numérique Nom: **Clé**

Résoudre chaque problème.

1) Quel choix représente la partie non ombrée de la roue des nombres ?

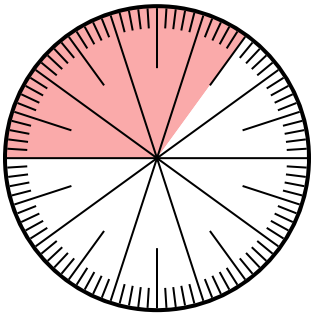

A. $^{65}/_{100}$ B. $^{6.5}/_{100}$

C. $^{35}/_{65}$ D. $^{6,50}/_{100}$

2) Quel choix représente la partie ombrée de la roue des nombres ?

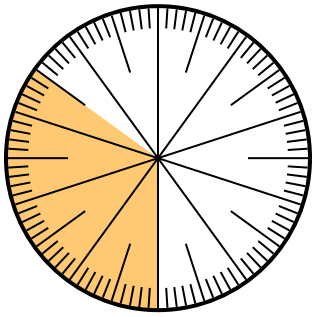

A. 3,50 B. 0,035

C. $^{3.5}/_{100}$ D. 0,35

3) Quel choix représente la partie ombrée de la roue des nombres ?

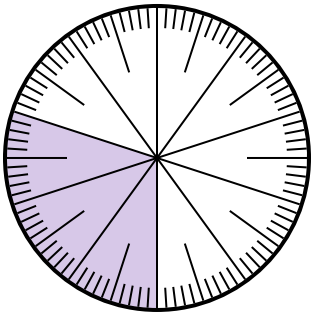

A. $^{30}/_{10}$ B. 0,3

C. 30,0 D. 3,0

4) Quel choix représente la partie non ombrée de la roue des nombres ?

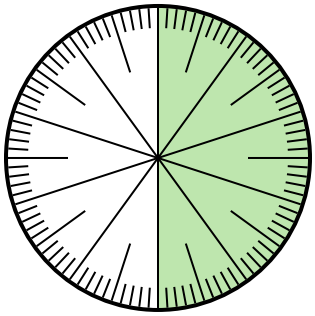

A. 0,50 B. $^{0.5}/_{100}$

C. 5 D. 50

5) Quel choix représente la partie ombrée de la roue des nombres ?

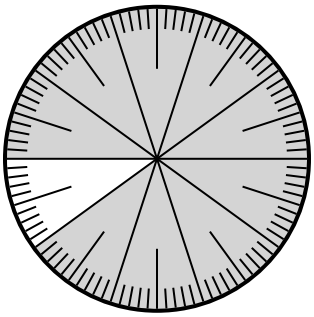

A. $^{90}/_{100}$ B. 0,090

C. 90 D. $^{9}/_{100}$

6) Quel choix représente la partie ombrée de la roue des nombres ?

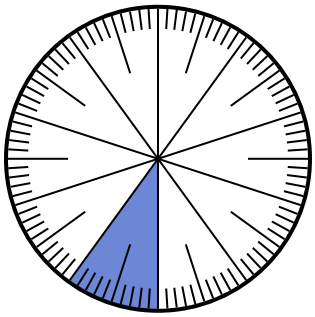

A. 0,10 B. 10

C. $^{0.1}/_{100}$ D. $^{1,00}/_{100}$

Réponses

1. **A**
2. **D**
3. **B**
4. **A**
5. **A**
6. **A**

1-6	83	67	50	33	17	0