Résoudre chaque problème.

1) Comparez la rotation approximative par minute de la turbine A à la turbine B.

Turbine A	
Heure (minutes)	**Nombre de révolutions**
3	163
4	222
5	279
6	336
8	451

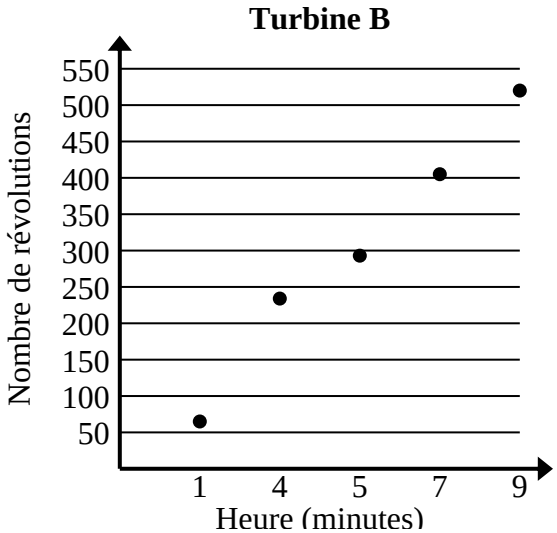

2) Comparez la vitesse approximative du motard 1 à celle du motard 2.

Motard 1	
Temps (Heures)	**Distance parcourue à vélo (km)**
1	21
3	58
5	95
6	112
7	129

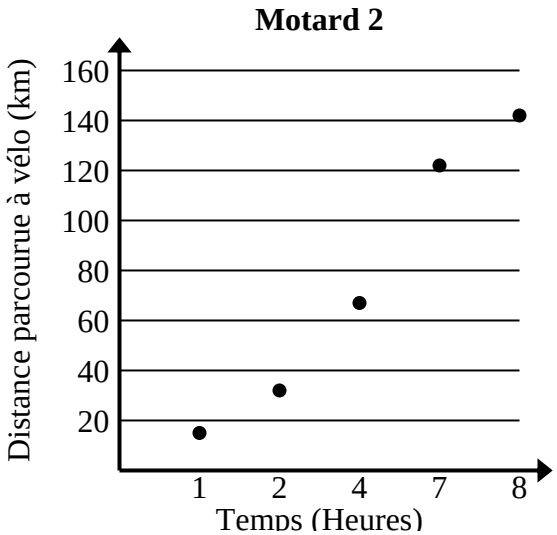

Résoudre chaque problème.

1) Comparez la rotation approximative par minute de la turbine A à la turbine B.

Turbine A	
Heure (minutes)	**Nombre de révolutions**
3	163
4	222
5	279
6	336
8	451

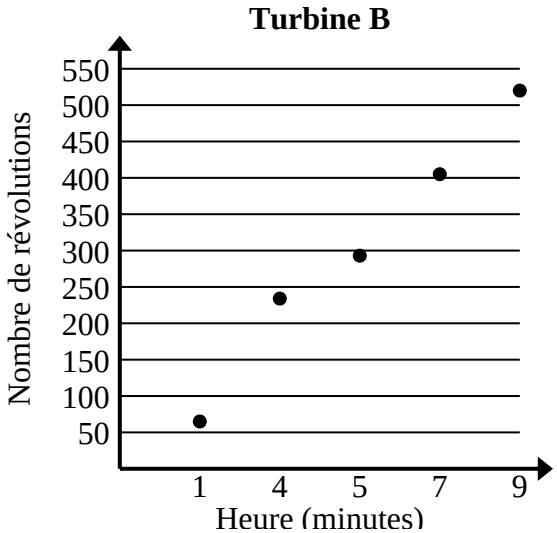

163+222+279+336+451 = 1 451 révolutions totales
3+4+5+6+8 = 26 minutes totales
1 451÷26 = 55,8

65+234+293+405+520 = 1 517 révolutions totales
1+4+5+7+9 = 26 minutes totales
1 517÷26 = 58,3

2) Comparez la vitesse approximative du motard 1 à celle du motard 2.

Motard 1	
Temps (Heures)	**Distance parcourue à vélo (km)**
1	21
3	58
5	95
6	112
7	129

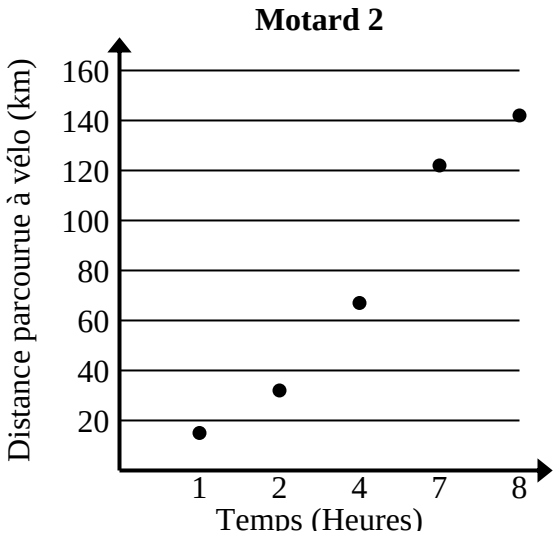

21+58+95+112+129 = 415 km totaux
1+3+5+6+7 = 22 heures totales
415÷22 = 18,9

15+32+67+122+142 = 378 km totaux
1+2+4+7+8 = 22 heures totales
378÷22 = 17,2