Déterminez quelles affirmations sur le graphique sont vraies.

Réponses

1. _____

2. _____

3. _____

1)

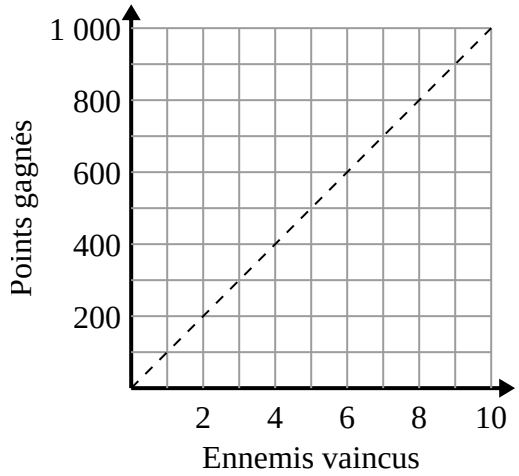

A. Le point (700 , 7) montre que vaincre 7 ennemis vous rapportera 700 points.

B. Le point (200 , 2) montre que vaincre 2 ennemis vous rapportera 200 points.

C. Le point (2 , 200) montre que vaincre 2 ennemis vous rapportera 200 points.

D. Le point (5 , 500) indique que vous gagneriez 500 points en vainquant 5 ennemis.

2)

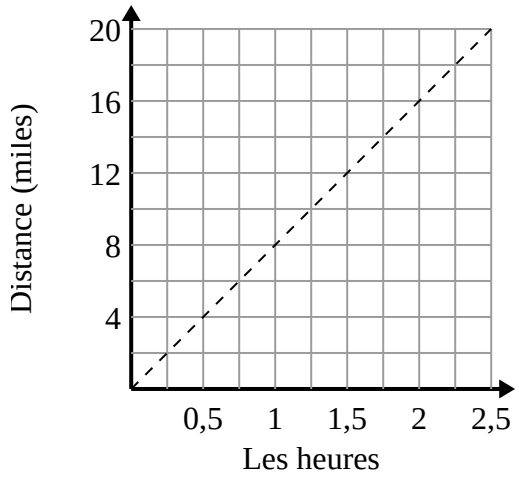

A. Le point (1.75 , 14) indique que parcourir 14 miles prendra 1.75 heures.

B. Le point (8 , 1) indique qu'il faut 1 heures pour parcourir 8 miles.

C. Le point (0.5 , 4) indique qu'il faut 0.5 heures pour parcourir 4 miles.

D. Le point (14 , 1.75) indique que parcourir 14 miles prendra 1.75 heures.

3)

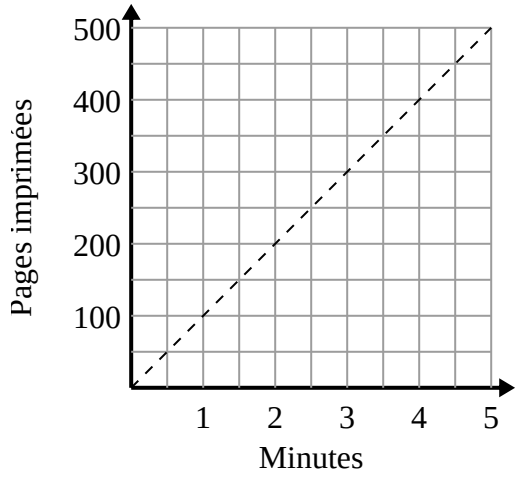

A. Le point (1.5 , 150) montre qu'il faut 1.5 minutes pour imprimer 150 pages.

B. Le point (200 , 2) indique que l'impression de 200 pages prendra 2 minutes.

C. Le point (2.5 , 250) montre qu'il faut 2.5 minutes pour imprimer 250 pages.

D. Le point (3.5 , 350) montre qu'il faut 3.5 minutes pour imprimer 350 pages.

1-3	67	33	0

Examen des graphiques Nom: **Clé**

Déterminez quelles affirmations sur le graphique sont vraies.

1)

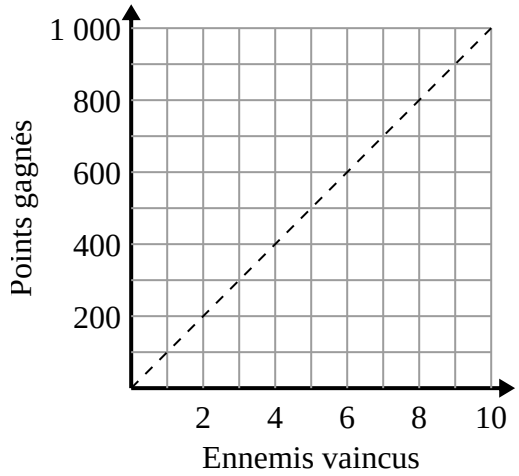

A. Le point (700 , 7) montre que vaincre 7 ennemis vous rapportera 700 points.

B. Le point (200 , 2) montre que vaincre 2 ennemis vous rapportera 200 points.

C. Le point (2 , 200) montre que vaincre 2 ennemis vous rapportera 200 points.

D. Le point (5 , 500) indique que vous gagneriez 500 points en vainquant 5 ennemis.

2)

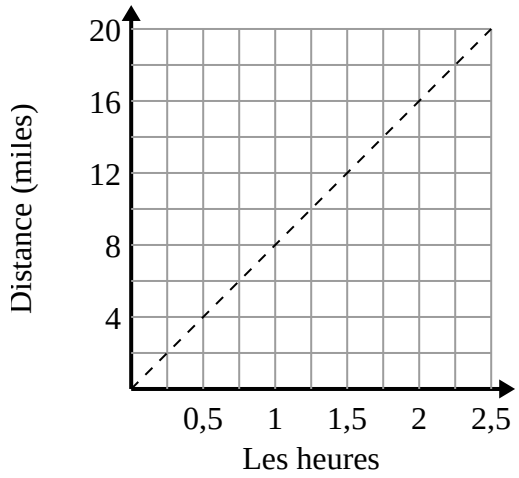

A. Le point (1.75 , 14) indique que parcourir 14 miles prendra 1.75 heures.

B. Le point (8 , 1) indique qu'il faut 1 heures pour parcourir 8 miles.

C. Le point (0.5 , 4) indique qu'il faut 0.5 heures pour parcourir 4 miles.

D. Le point (14 , 1.75) indique que parcourir 14 miles prendra 1.75 heures.

3)

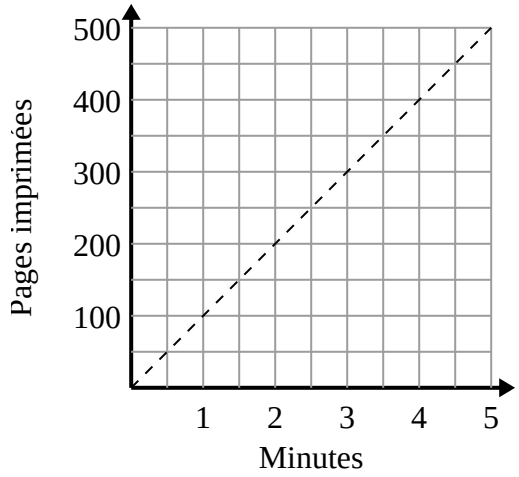

A. Le point (1.5 , 150) montre qu'il faut 1.5 minutes pour imprimer 150 pages.

B. Le point (200 , 2) indique que l'impression de 200 pages prendra 2 minutes.

C. Le point (2.5 , 250) montre qu'il faut 2.5 minutes pour imprimer 250 pages.

D. Le point (3.5 , 350) montre qu'il faut 3.5 minutes pour imprimer 350 pages.

Réponses

1. **C,D**
2. **A,C**
3. **A,C,D**

1-3	67	33	0