Examen des graphiques Nom:

Déterminez quelles affirmations sur le graphique sont vraies.

Réponses

1. _____

2. _____

3. _____

1)

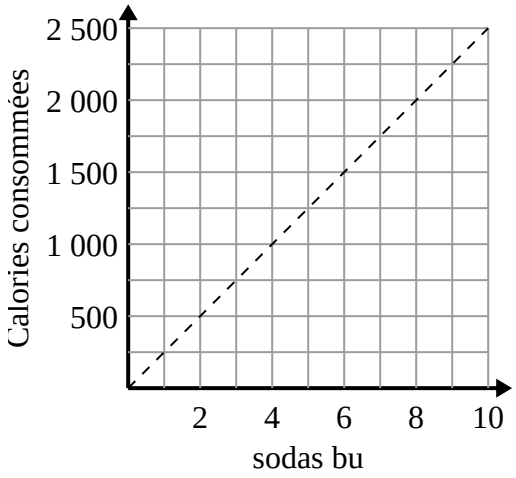

A. Le point (8 , 2000) montre que pour consommer 2000 calories, vous devez boire 8 sodas.

B. Le point (2 , 500) montre que pour consommer 500 calories, vous devez boire 2 sodas.

C. Le point (1000 , 4) montre que pour consommer 1000 calories, vous devez boire 4 sodas.

D. Le point (1250 , 5) montre que pour consommer 1250 calories, vous devez boire 5 sodas.

2)

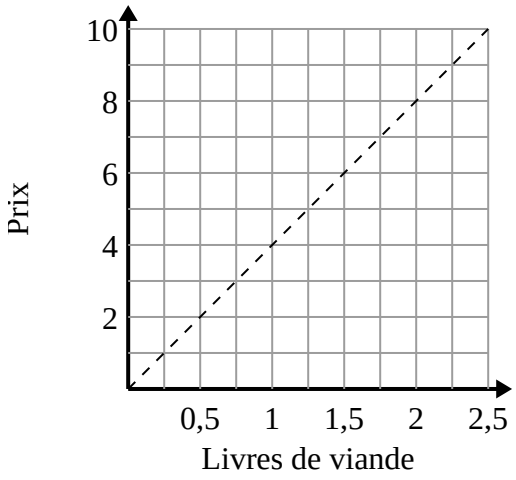

A. Le point (6 , 1.5) indique que l'achat de 1.5 livres de viande coûtera 6 $.

B. Le point (0.75 , 3) indique que l'achat de 0.75 livres de viande coûtera 3 $.

C. Le point (2 , 8) indique que 8 $ vous achèteront 2 livres de viande.

D. Le point (1.75 , 7) indique que l'achat de 1.75 livres de viande coûtera 7 $.

3)

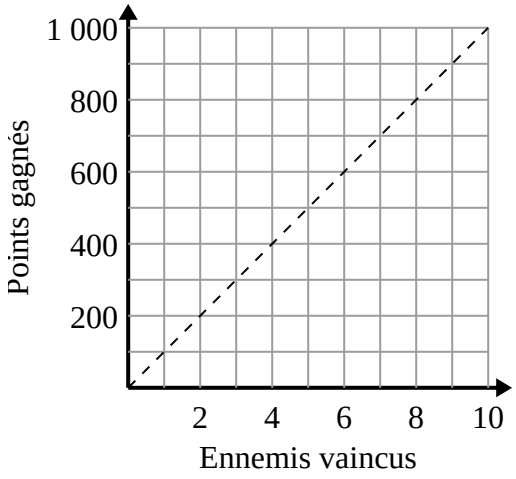

A. Le point (5 , 500) montre que vaincre 5 ennemis vous rapportera 500 points.

B. Le point (400 , 4) montre que vaincre 4 ennemis vous rapportera 400 points.

C. Le point (100 , 1) montre que vaincre 1 ennemi vous rapportera 100 points.

D. Le point (8 , 800) montre que vaincre 8 ennemis vous rapportera 800 points.

Examen des graphiques Nom: **Clé**

Déterminez quelles affirmations sur le graphique sont vraies.

1)

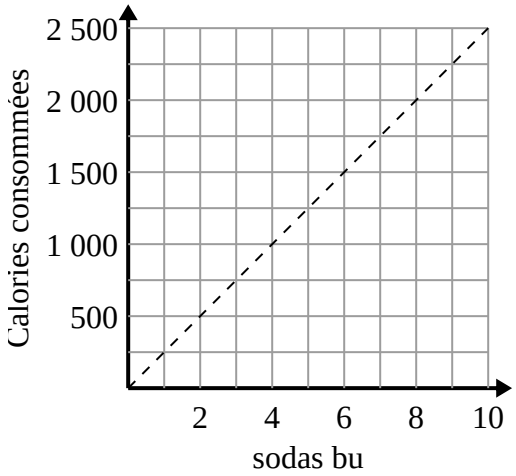

A. Le point (8 , 2000) montre que pour consommer 2000 calories, vous devez boire 8 sodas.

B. Le point (2 , 500) montre que pour consommer 500 calories, vous devez boire 2 sodas.

C. Le point (1000 , 4) montre que pour consommer 1000 calories, vous devez boire 4 sodas.

D. Le point (1250 , 5) montre que pour consommer 1250 calories, vous devez boire 5 sodas.

2)

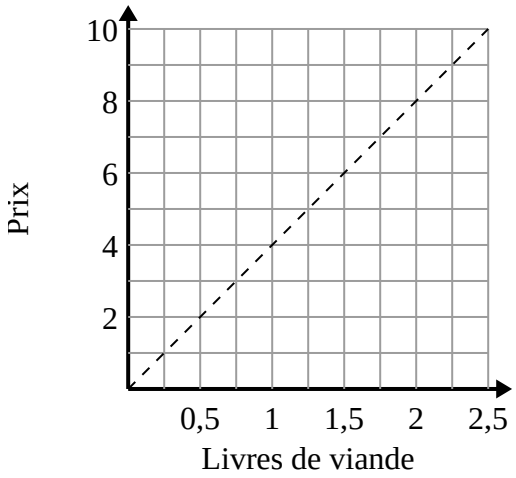

A. Le point (6 , 1.5) indique que l'achat de 1.5 livres de viande coûtera 6 $.

B. Le point (0.75 , 3) indique que l'achat de 0.75 livres de viande coûtera 3 $.

C. Le point (2 , 8) indique que 8 $ vous achèteront 2 livres de viande.

D. Le point (1.75 , 7) indique que l'achat de 1.75 livres de viande coûtera 7 $.

3)

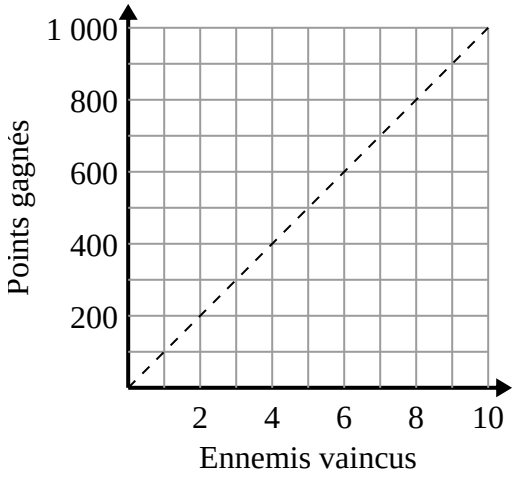

A. Le point (5 , 500) montre que vaincre 5 ennemis vous rapportera 500 points.

B. Le point (400 , 4) montre que vaincre 4 ennemis vous rapportera 400 points.

C. Le point (100 , 1) montre que vaincre 1 ennemi vous rapportera 100 points.

D. Le point (8 , 800) montre que vaincre 8 ennemis vous rapportera 800 points.

Réponses

1. **A,B**
2. **B,C,D**
3. **A,D**