**Utilisez la grille pour résoudre chaque problème.**

= Station-essence

= Galerie marchande

= 1 Square Mile

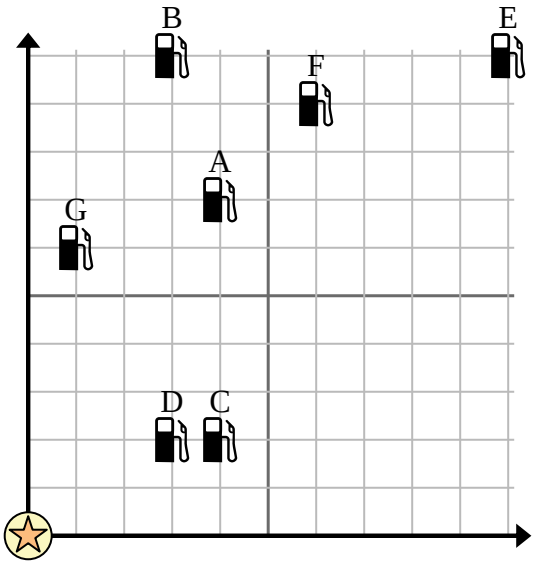


**1)** Les investisseurs voulaient construire une nouvelle station-service, mais voulaient s'assurer qu'elle se trouvait à au moins 2 milles d'une station préexistante. Devraient-ils construire une station-service à {_EST_} miles à l'est et 5 miles au nord du centre commercial ?

**2)** Quelle station-service est la plus proche du centre commercial ?

**3)** Quelle station-service est la plus éloignée du centre commercial ?

**4)** Quelle station-service est plus loin south ? Station G ou Station C ?

**5)** Si vous deviez aller à {_EST_} miles à l'est et 9 miles au nord du centre commercial, à quelle station-service vous retrouveriez-vous ?

**6)** Un nouveau navire voulait pêcher, mais le capitaine voulait s'assurer qu'ils se trouvaient à au moins 2 milles d'un autre navire. S'il naviguait 6 milles à l'est et 7 milles au nord, cet endroit lui conviendrait-il ?

**7)** Quel navire est le plus proche de la bouée ?

**8)** Quel navire est le plus éloigné de la bouée ?

**9)** Quel navire est plus loin south ? Expédier G ou expédier C ?

**10)** Quel navire se trouve à 5 miles à l'est et 2 miles au nord de la bouée ?

= Bateau

= Bouée

= 1 Square Mile

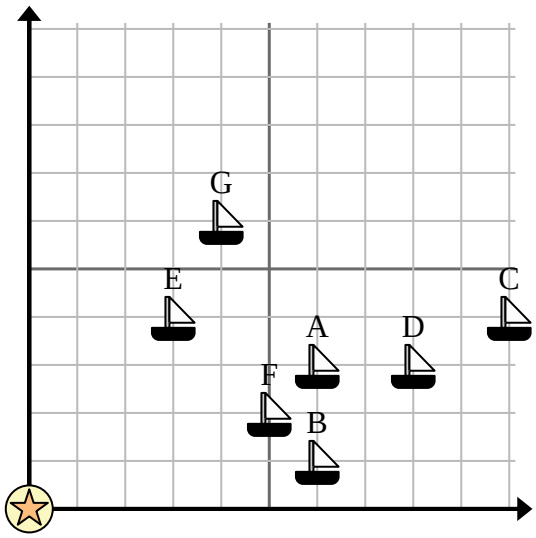


**Réponses**

1. _____
2. _____
3. _____
4. _____
5. _____
6. _____
7. _____
8. _____
9. _____
10. _____



| 1-10 | 90 | 80 | 70 | 60 | 50 | 40 | 30 | 20 | 10 | 0 |
|---|---|---|---|---|---|---|---|---|---|---|

Utilisation de grilles dans un contexte réel Nom: **Clé**

**Utilisez la grille pour résoudre chaque problème.**

= Station-essence

= Galerie marchande

= 1 Square Mile

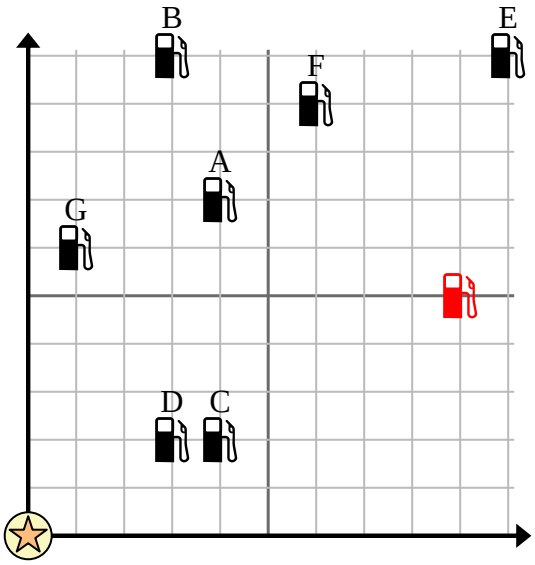


**1)** Les investisseurs voulaient construire une nouvelle station-service, mais voulaient s'assurer qu'elle se trouvait à au moins 2 milles d'une station préexistante. Devraient-ils construire une station-service à {_EST_} miles à l'est et 5 miles au nord du centre commercial ?

**2)** Quelle station-service est la plus proche du centre commercial ?

**3)** Quelle station-service est la plus éloignée du centre commercial ?

**4)** Quelle station-service est plus loin south ? Station G ou Station C ?

**5)** Si vous deviez aller à {_EST_} miles à l'est et 9 miles au nord du centre commercial, à quelle station-service vous retrouveriez-vous ?

**6)** Un nouveau navire voulait pêcher, mais le capitaine voulait s'assurer qu'ils se trouvaient à au moins 2 milles d'un autre navire. S'il naviguait 6 milles à l'est et 7 milles au nord, cet endroit lui conviendrait-il ?

= Bateau

= Bouée

= 1 Square Mile

**7)** Quel navire est le plus proche de la bouée ?

**8)** Quel navire est le plus éloigné de la bouée ?

**9)** Quel navire est plus loin south ? Expédier G ou expédier C ?

**10)** Quel navire se trouve à 5 miles à l'est et 2 miles au nord de la bouée ?

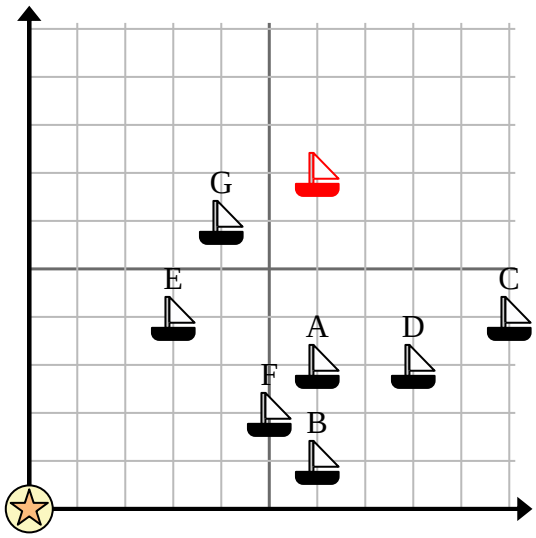


**Réponses**

1. oui
2. D
3. E
4. C
5. F
6. oui
7. E
8. C
9. C
10. F



| 1-10 | 90 | 80 | 70 | 60 | 50 | 40 | 30 | 20 | 10 | 0 |
|---|---|---|---|---|---|---|---|---|---|---|