Utilisation de grilles dans un contexte réel

Nom:

Utilisez la grille pour résoudre chaque problème.

= Arrêt de bus

= L'école

= 1 Square Bloquer

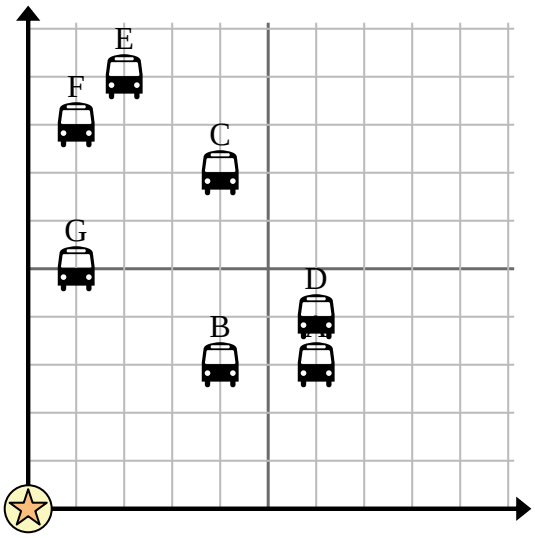

1) L'école voulait ajouter un nouvel arrêt de bus, mais voulait s'assurer qu'il se trouvait à au moins 2 pâtés de maisons d'un autre arrêt. S'ils ajoutaient un 7 blocs à l'est et 10 blocs au nord, cet endroit correspondrait-il à leurs besoins ?

2) Quel arrêt de bus est le plus proche de l'école ?

3) Quel arrêt de bus est le plus éloigné de l'école ?

4) Quel arrêt de bus est plus loin east ? Arrêter C ou arrêter F ?

5) Quel arrêt de bus se trouve à 1 blocs à l'est et 5 blocs au nord de l'école ?

6) Enrico voulait planter un nouvel arbre, mais voulait s'assurer qu'il se trouvait à au moins 2 mètres d'un arbre préexistant. Devrait-il planter un arbre à {_EST_} mètres à l'est et 8 mètres au nord de sa maison ?

7) Quel arbre est le plus proche de la maison ?

8) Quel arbre est le plus éloigné de la maison ?

9) Quel arbre est plus loin east ? Arbre D ou arbre A ?

10) Si vous deviez aller à {_EST_} mètres à l'est et 10 mètres au nord de la maison, à quel arbre vous retrouveriez-vous ?

= Arbre

= loger

= 1 Square Cour

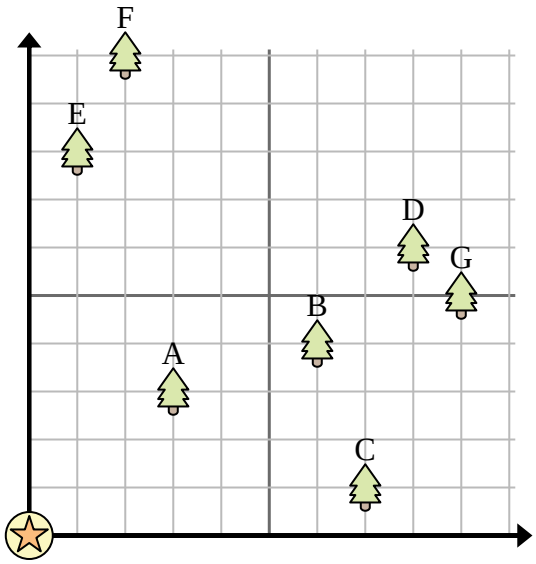

Réponses

1. _____
2. _____
3. _____
4. _____
5. _____
6. _____
7. _____
8. _____
9. _____
10. _____

1-10	90	80	70	60	50	40	30	20	10	0

Utilisation de grilles dans un contexte réel Nom: **Clé**

Utilisez la grille pour résoudre chaque problème.

= Arrêt de bus

= L'école

= 1 Square Bloquer

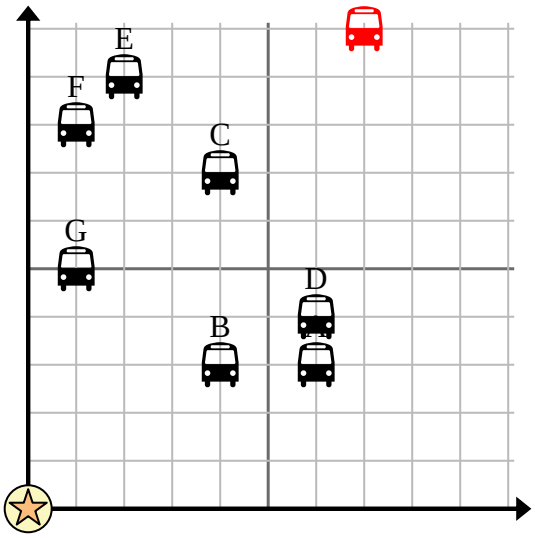

1) L'école voulait ajouter un nouvel arrêt de bus, mais voulait s'assurer qu'il se trouvait à au moins 2 pâtés de maisons d'un autre arrêt. S'ils ajoutaient un 7 blocs à l'est et 10 blocs au nord, cet endroit correspondrait-il à leurs besoins ?

2) Quel arrêt de bus est le plus proche de l'école ?

3) Quel arrêt de bus est le plus éloigné de l'école ?

4) Quel arrêt de bus est plus loin east ? Arrêter C ou arrêter F ?

5) Quel arrêt de bus se trouve à 1 blocs à l'est et 5 blocs au nord de l'école ?

6) Enrico voulait planter un nouvel arbre, mais voulait s'assurer qu'il se trouvait à au moins 2 mètres d'un arbre préexistant. Devrait-il planter un arbre à {_EST_} mètres à l'est et 8 mètres au nord de sa maison ?

7) Quel arbre est le plus proche de la maison ?

8) Quel arbre est le plus éloigné de la maison ?

9) Quel arbre est plus loin east ? Arbre D ou arbre A ?

10) Si vous deviez aller à {_EST_} mètres à l'est et 10 mètres au nord de la maison, à quel arbre vous retrouveriez-vous ?

= Arbre

= loger

= 1 Square Cour

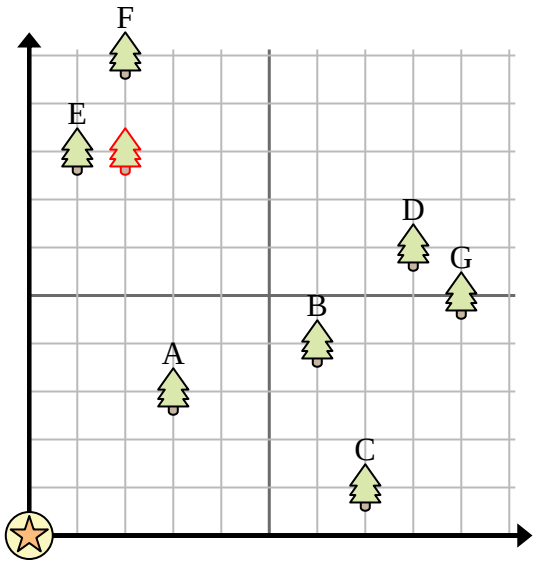

Réponses

1. oui
2. B
3. E
4. C
5. G
6. non
7. A
8. G
9. D
10. F

1-10	90	80	70	60	50	40	30	20	10	0

Utilisez la grille pour résoudre chaque problème.

= Station-essence

= Galerie marchande

= 1 Square Mile

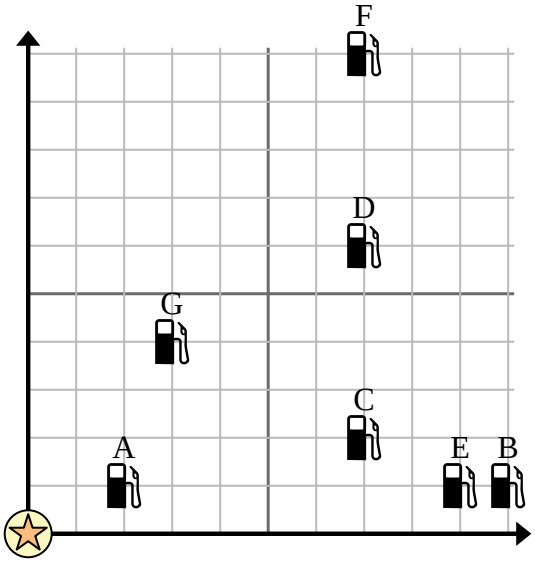

1) Les investisseurs voulaient construire une nouvelle station-service, mais voulaient s'assurer qu'elle se trouvait à au moins 2 milles d'une station préexistante. Devraient-ils construire une station-service à {_EST_} miles à l'est et 3 miles au nord du centre commercial ?

2) Quelle station-service est la plus proche du centre commercial ?

3) Quelle station-service est la plus éloignée du centre commercial ?

4) Quelle station-service est plus loin west ? Station C ou Station E ?

5) Si vous deviez aller à {_EST_} miles à l'est et 10 miles au nord du centre commercial, à quelle station-service vous retrouveriez-vous ?

6) Un nouveau navire voulait pêcher, mais le capitaine voulait s'assurer qu'ils se trouvaient à au moins 2 milles d'un autre navire. S'il naviguait 5 milles à l'est et 8 milles au nord, cet endroit lui conviendrait-il ?

7) Quel navire est le plus proche de la bouée ?

8) Quel navire est le plus éloigné de la bouée ?

9) Quel navire est plus loin east ? Expédier D ou expédier A ?

10) Quel navire se trouve à 5 miles à l'est et 7 miles au nord de la bouée ?

= Bateau

= Bouée

= 1 Square Mile

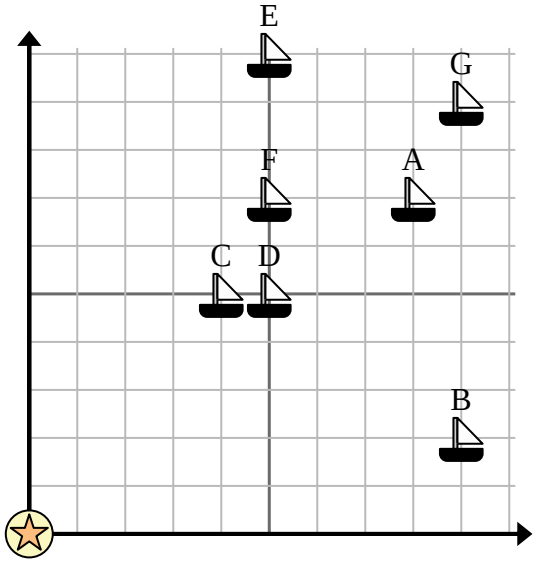

Réponses

1. _____
2. _____
3. _____
4. _____
5. _____
6. _____
7. _____
8. _____
9. _____
10. _____

1-10	90	80	70	60	50	40	30	20	10	0

Utilisez la grille pour résoudre chaque problème.

= Station-essence

= Galerie marchande

= 1 Square Mile

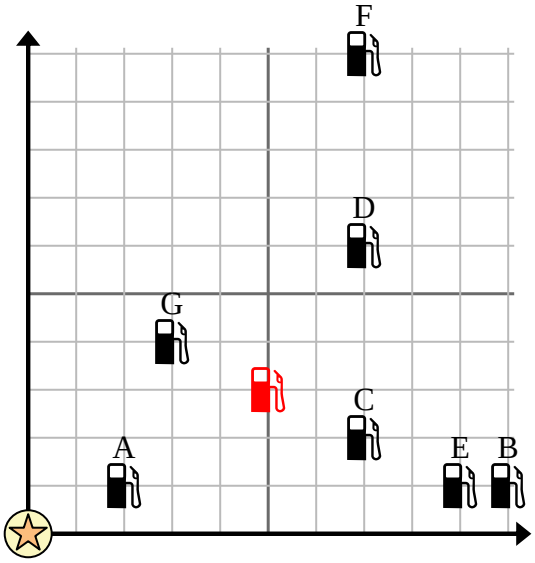

1) Les investisseurs voulaient construire une nouvelle station-service, mais voulaient s'assurer qu'elle se trouvait à au moins 2 milles d'une station préexistante. Devraient-ils construire une station-service à {_EST_} miles à l'est et 3 miles au nord du centre commercial ?

2) Quelle station-service est la plus proche du centre commercial ?

3) Quelle station-service est la plus éloignée du centre commercial ?

4) Quelle station-service est plus loin west ? Station C ou Station E ?

5) Si vous deviez aller à {_EST_} miles à l'est et 10 miles au nord du centre commercial, à quelle station-service vous retrouveriez-vous ?

6) Un nouveau navire voulait pêcher, mais le capitaine voulait s'assurer qu'ils se trouvaient à au moins 2 milles d'un autre navire. S'il naviguait 5 milles à l'est et 8 milles au nord, cet endroit lui conviendrait-il ?

7) Quel navire est le plus proche de la bouée ?

8) Quel navire est le plus éloigné de la bouée ?

9) Quel navire est plus loin east ? Expédier D ou expédier A ?

10) Quel navire se trouve à 5 miles à l'est et 7 miles au nord de la bouée ?

= Bateau

= Bouée

= 1 Square Mile

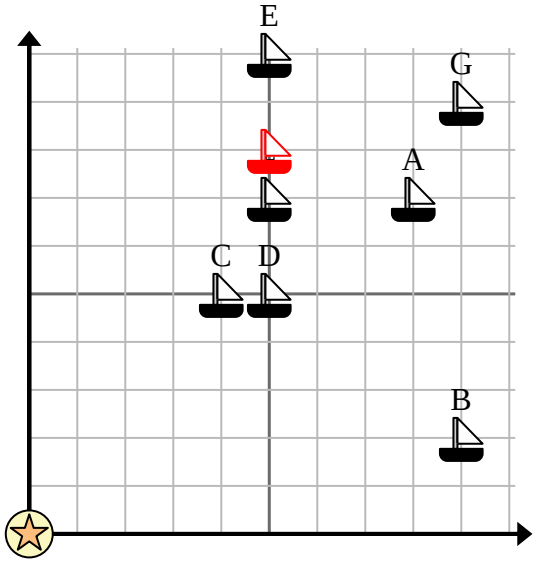

Réponses

1. oui
2. A
3. F
4. C
5. F
6. non
7. C
8. G
9. A
10. F

1-10	90	80	70	60	50	40	30	20	10	0

Utilisez la grille pour résoudre chaque problème.

= Station-essence

= Galerie marchande

= 1 Square Mile

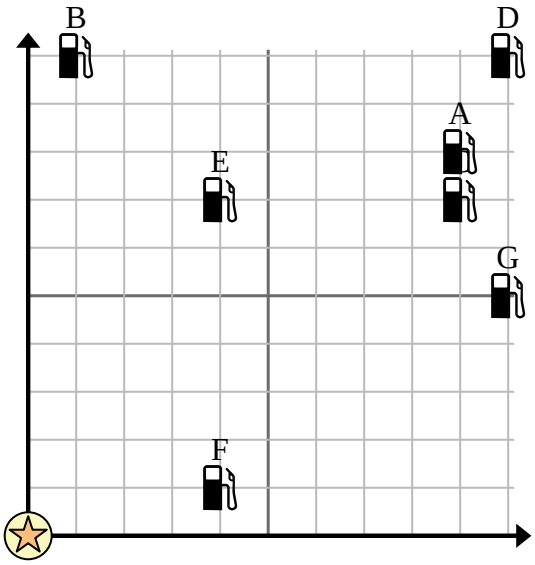

1) Les investisseurs voulaient construire une nouvelle station-service, mais voulaient s'assurer qu'elle se trouvait à au moins 2 milles d'une station préexistante. Devraient-ils construire une station-service à {_EST_} miles à l'est et 7 miles au nord du centre commercial ?

2) Quelle station-service est la plus proche du centre commercial ?

3) Quelle station-service est la plus éloignée du centre commercial ?

4) Quelle station-service est plus loin east ? Station E ou Station G ?

5) Si vous deviez aller à {_EST_} miles à l'est et 5 miles au nord du centre commercial, à quelle station-service vous retrouveriez-vous ?

6) Un nouveau navire voulait pêcher, mais le capitaine voulait s'assurer qu'ils se trouvaient à au moins 2 milles d'un autre navire. S'il naviguait 3 milles à l'est et 5 milles au nord, cet endroit lui conviendrait-il ?

7) Quel navire est le plus proche de la bouée ?

8) Quel navire est le plus éloigné de la bouée ?

9) Quel navire est plus loin west ? Expédier A ou expédier C ?

10) Quel navire se trouve à 1 miles à l'est et 9 miles au nord de la bouée ?

= Bateau

= Bouée

= 1 Square Mile

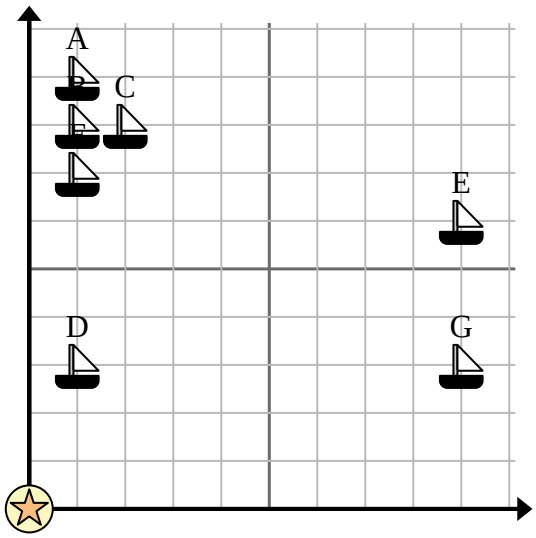

Réponses

1. _____
2. _____
3. _____
4. _____
5. _____
6. _____
7. _____
8. _____
9. _____
10. _____

1-10	90	80	70	60	50	40	30	20	10	0

Utilisation de grilles dans un contexte réel Nom: **Clé**

Utilisez la grille pour résoudre chaque problème.

= Station-essence

= Galerie marchande

= 1 Square Mile

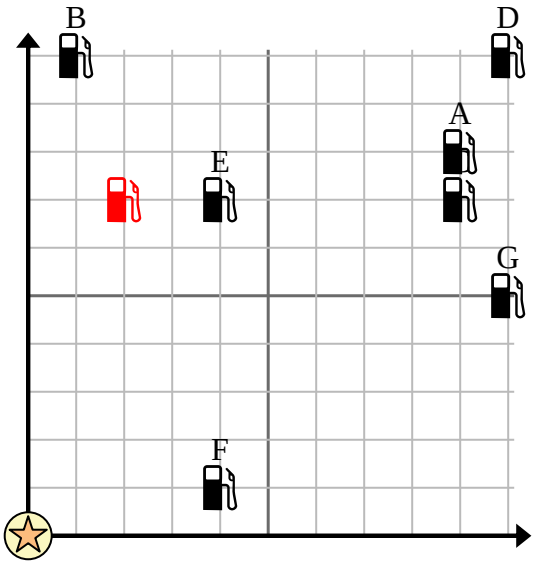

1) Les investisseurs voulaient construire une nouvelle station-service, mais voulaient s'assurer qu'elle se trouvait à au moins 2 milles d'une station préexistante. Devraient-ils construire une station-service à {_EST_} miles à l'est et 7 miles au nord du centre commercial ?

2) Quelle station-service est la plus proche du centre commercial ?

3) Quelle station-service est la plus éloignée du centre commercial ?

4) Quelle station-service est plus loin east ? Station E ou Station G ?

5) Si vous deviez aller à {_EST_} miles à l'est et 5 miles au nord du centre commercial, à quelle station-service vous retrouveriez-vous ?

6) Un nouveau navire voulait pêcher, mais le capitaine voulait s'assurer qu'ils se trouvaient à au moins 2 milles d'un autre navire. S'il naviguait 3 milles à l'est et 5 milles au nord, cet endroit lui conviendrait-il ?

7) Quel navire est le plus proche de la bouée ?

8) Quel navire est le plus éloigné de la bouée ?

9) Quel navire est plus loin west ? Expédier A ou expédier C ?

10) Quel navire se trouve à 1 miles à l'est et 9 miles au nord de la bouée ?

= Bateau

= Bouée

= 1 Square Mile

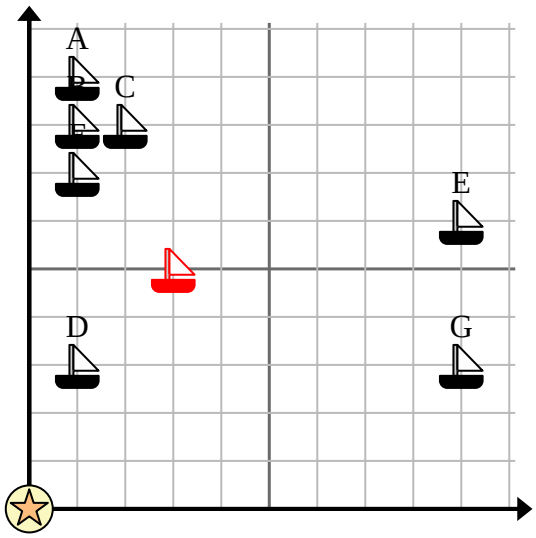

Réponses

1. oui
2. F
3. D
4. G
5. G
6. oui
7. D
8. E
9. A
10. A

1-10	90	80	70	60	50	40	30	20	10	0

Utilisez la grille pour résoudre chaque problème.

= Arrêt de bus

= L'école

= 1 Square Bloquer

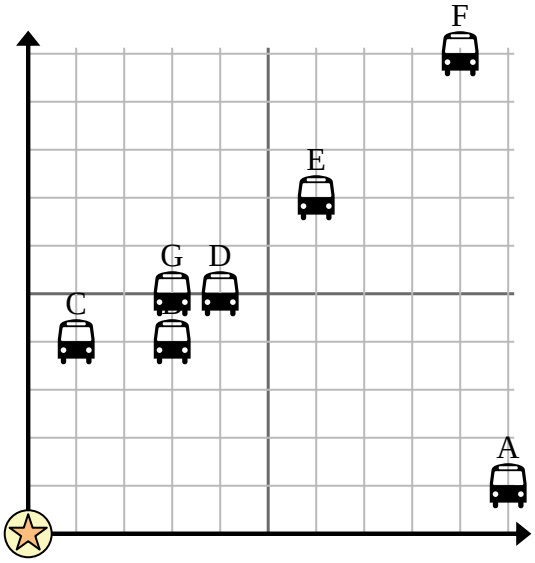

1) L'école voulait ajouter un nouvel arrêt de bus, mais voulait s'assurer qu'il se trouvait à au moins 2 pâtés de maisons d'un autre arrêt. S'ils ajoutaient un 4 blocs à l'est et 9 blocs au nord, cet endroit correspondrait-il à leurs besoins ?

2) Quel arrêt de bus est le plus proche de l'école ?

3) Quel arrêt de bus est le plus éloigné de l'école ?

4) Quel arrêt de bus est plus loin north ? Arrêter B ou arrêter F ?

5) Quel arrêt de bus se trouve à 9 blocs à l'est et 10 blocs au nord de l'école ?

6) Emanuele voulait planter un nouvel arbre, mais voulait s'assurer qu'il se trouvait à au moins 2 mètres d'un arbre préexistant. Devrait-il planter un arbre à {_EST_} mètres à l'est et 2 mètres au nord de sa maison ?

7) Quel arbre est le plus proche de la maison ?

8) Quel arbre est le plus éloigné de la maison ?

9) Quel arbre est plus loin west ? Arbre B ou arbre G ?

10) Si vous deviez aller à {_EST_} mètres à l'est et 10 mètres au nord de la maison, à quel arbre vous retrouveriez-vous ?

= Arbre

= loger

= 1 Square Cour

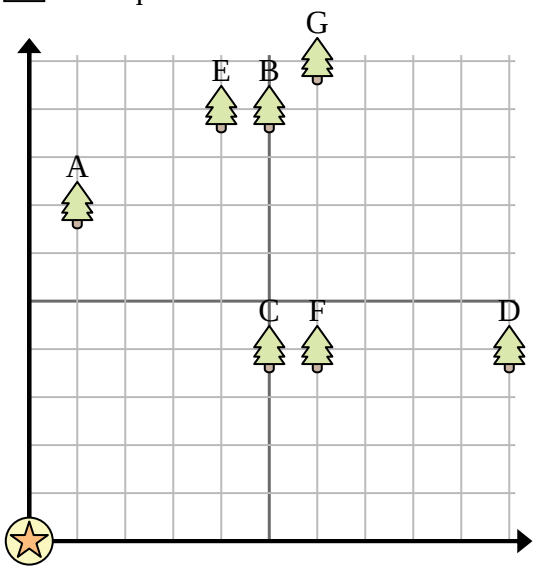

Réponses

1. _____
2. _____
3. _____
4. _____
5. _____
6. _____
7. _____
8. _____
9. _____
10. _____

1-10	90	80	70	60	50	40	30	20	10	0

Utilisation de grilles dans un contexte réel Nom: **Clé**

Utilisez la grille pour résoudre chaque problème.

= Arrêt de bus

= L'école

= 1 Square Bloquer

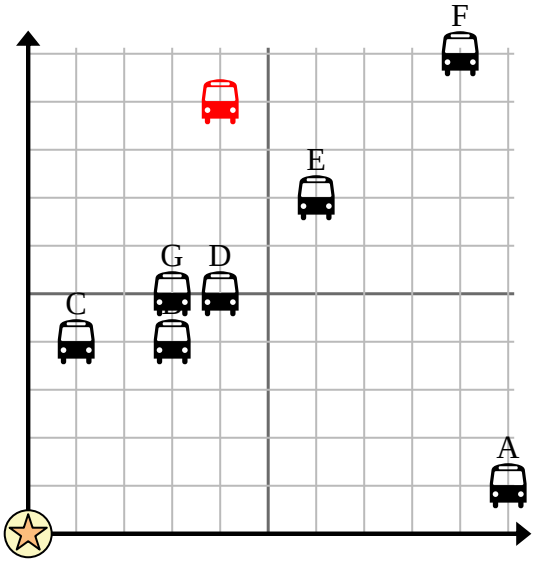

1) L'école voulait ajouter un nouvel arrêt de bus, mais voulait s'assurer qu'il se trouvait à au moins 2 pâtés de maisons d'un autre arrêt. S'ils ajoutaient un 4 blocs à l'est et 9 blocs au nord, cet endroit correspondrait-il à leurs besoins ?

2) Quel arrêt de bus est le plus proche de l'école ?

3) Quel arrêt de bus est le plus éloigné de l'école ?

4) Quel arrêt de bus est plus loin north ? Arrêter B ou arrêter F ?

5) Quel arrêt de bus se trouve à 9 blocs à l'est et 10 blocs au nord de l'école ?

6) Emanuele voulait planter un nouvel arbre, mais voulait s'assurer qu'il se trouvait à au moins 2 mètres d'un arbre préexistant. Devrait-il planter un arbre à {_EST_} mètres à l'est et 2 mètres au nord de sa maison ?

7) Quel arbre est le plus proche de la maison ?

8) Quel arbre est le plus éloigné de la maison ?

9) Quel arbre est plus loin west ? Arbre B ou arbre G ?

10) Si vous deviez aller à {_EST_} mètres à l'est et 10 mètres au nord de la maison, à quel arbre vous retrouveriez-vous ?

= Arbre

= loger

= 1 Square Cour

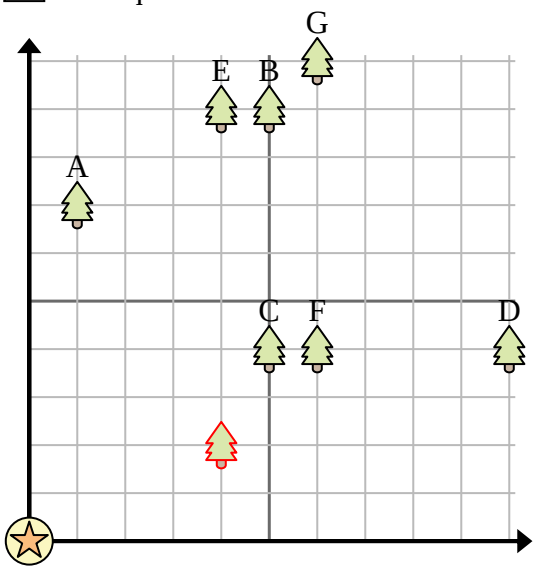

Réponses

1. oui
2. C
3. F
4. F
5. F
6. oui
7. C
8. G
9. B
10. G

1-10	90	80	70	60	50	40	30	20	10	0

Utilisation de grilles dans un contexte réel Nom:

Utilisez la grille pour résoudre chaque problème.

= Station-essence

= Galerie marchande

= 1 Square Mile

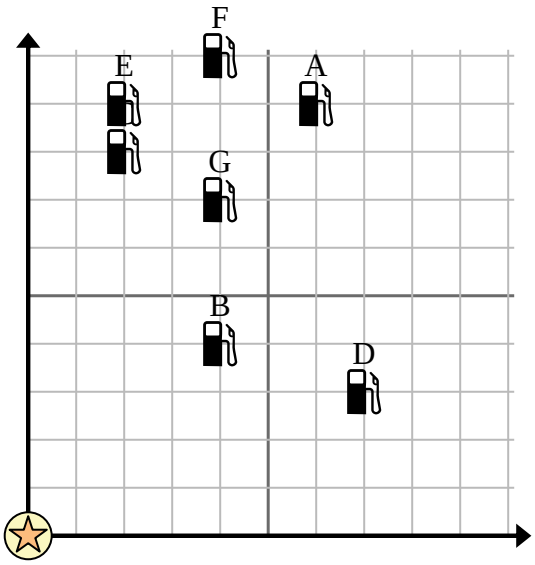

1) Les investisseurs voulaient construire une nouvelle station-service, mais voulaient s'assurer qu'elle se trouvait à au moins 2 milles d'une station préexistante. Devraient-ils construire une station-service à {_EST_} miles à l'est et 7 miles au nord du centre commercial ?

2) Quelle station-service est la plus proche du centre commercial ?

3) Quelle station-service est la plus éloignée du centre commercial ?

4) Quelle station-service est plus loin north ? Station C ou Station G ?

5) Si vous deviez aller à {_EST_} miles à l'est et 10 miles au nord du centre commercial, à quelle station-service vous retrouveriez-vous ?

6) Un nouveau navire voulait pêcher, mais le capitaine voulait s'assurer qu'ils se trouvaient à au moins 2 milles d'un autre navire. S'il naviguait 9 milles à l'est et 9 milles au nord, cet endroit lui conviendrait-il ?

7) Quel navire est le plus proche de la bouée ?

8) Quel navire est le plus éloigné de la bouée ?

9) Quel navire est plus loin east ? Expédier B ou expédier F ?

10) Quel navire se trouve à 3 miles à l'est et 2 miles au nord de la bouée ?

= Bateau

= Bouée

= 1 Square Mile

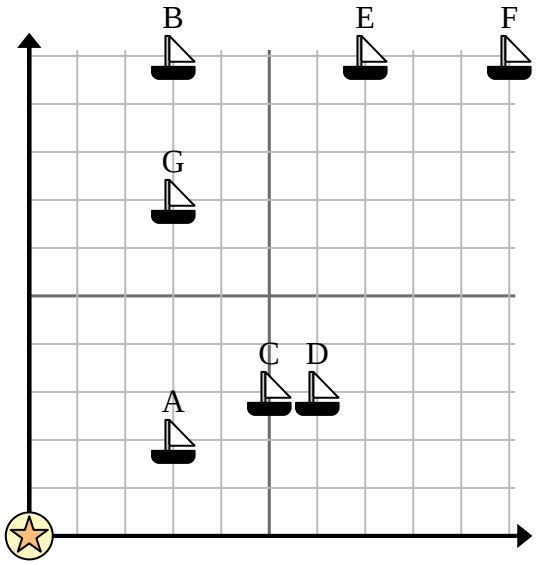

Réponses

1. _____
2. _____
3. _____
4. _____
5. _____
6. _____
7. _____
8. _____
9. _____
10. _____

1-10	90	80	70	60	50	40	30	20	10	0

Utilisation de grilles dans un contexte réel Nom: **Clé**

Utilisez la grille pour résoudre chaque problème.

= Station-essence

= Galerie marchande

= 1 Square Mile

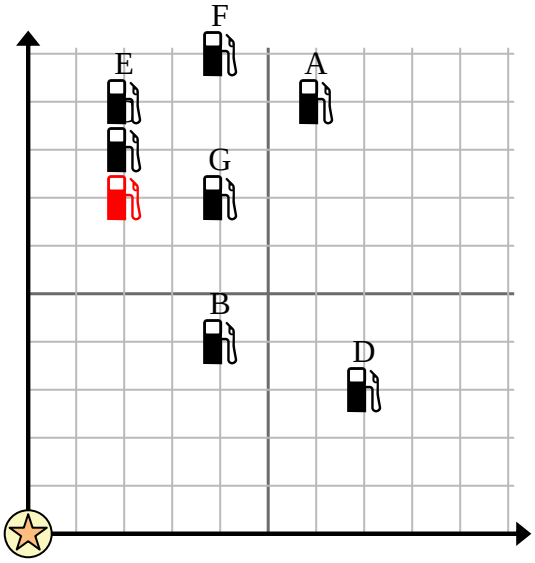

1) Les investisseurs voulaient construire une nouvelle station-service, mais voulaient s'assurer qu'elle se trouvait à au moins 2 milles d'une station préexistante. Devraient-ils construire une station-service à {_EST_} miles à l'est et 7 miles au nord du centre commercial ?

2) Quelle station-service est la plus proche du centre commercial ?

3) Quelle station-service est la plus éloignée du centre commercial ?

4) Quelle station-service est plus loin north ? Station C ou Station G ?

5) Si vous deviez aller à {_EST_} miles à l'est et 10 miles au nord du centre commercial, à quelle station-service vous retrouveriez-vous ?

6) Un nouveau navire voulait pêcher, mais le capitaine voulait s'assurer qu'ils se trouvaient à au moins 2 milles d'un autre navire. S'il naviguait 9 milles à l'est et 9 milles au nord, cet endroit lui conviendrait-il ?

7) Quel navire est le plus proche de la bouée ?

8) Quel navire est le plus éloigné de la bouée ?

9) Quel navire est plus loin east ? Expédier B ou expédier F ?

10) Quel navire se trouve à 3 miles à l'est et 2 miles au nord de la bouée ?

= Bateau

= Bouée

= 1 Square Mile

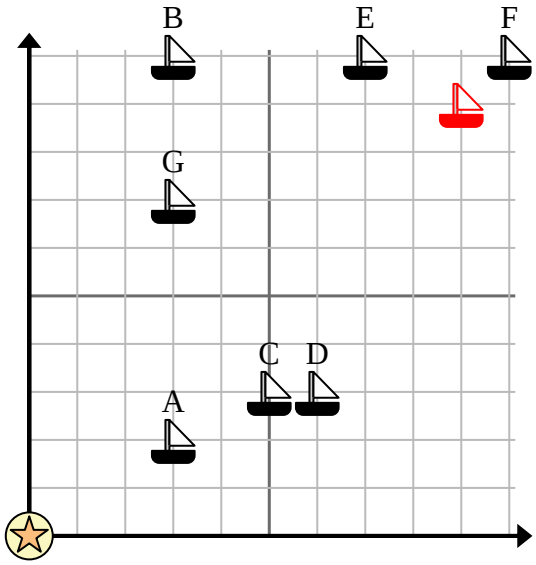

Réponses

1. non
2. B
3. A
4. C
5. F
6. non
7. A
8. F
9. F
10. A

1-10	90	80	70	60	50	40	30	20	10	0

Utilisez la grille pour résoudre chaque problème.

= bien

= Château d'eau

= 1 Square Mile

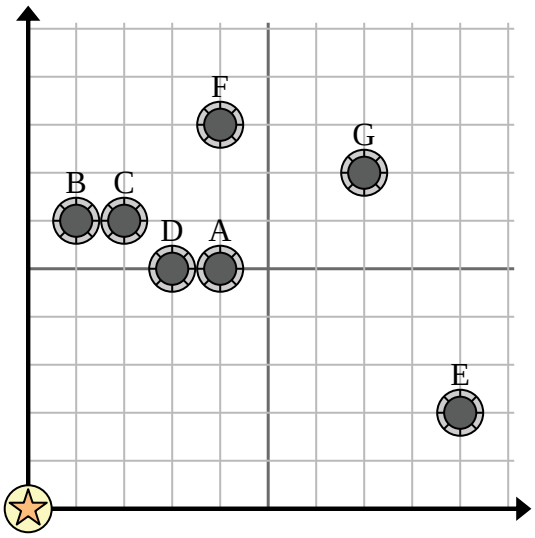

1) Une nouvelle loi dit que vous ne pouvez pas construire un puits à moins de 2 milles d'un puits préexistant. Si vous vouliez construire un puits à {_EST_} milles à l'est et 9 milles au nord du château d'eau, en auriez-vous le droit ?

2) Quel puits est le plus proche du château d'eau ?

3) Quel puits est le plus éloigné du château d'eau ?

4) Quel puits est plus loin north ? Eh bien F ou bien E ?

5) Si vous deviez aller à {_EST_} milles à l'est et 7 milles au nord du château d'eau, à quel puits vous retrouveriez-vous ?

6) Un nouveau navire voulait pêcher, mais le capitaine voulait s'assurer qu'ils se trouvaient à au moins 2 milles d'un autre navire. S'il naviguait 4 milles à l'est et 6 milles au nord, cet endroit lui conviendrait-il ?

= Bateau

= Bouée

= 1 Square Mile

7) Quel navire est le plus proche de la bouée ?

8) Quel navire est le plus éloigné de la bouée ?

9) Quel navire est plus loin south ? Expédier F ou expédier G ?

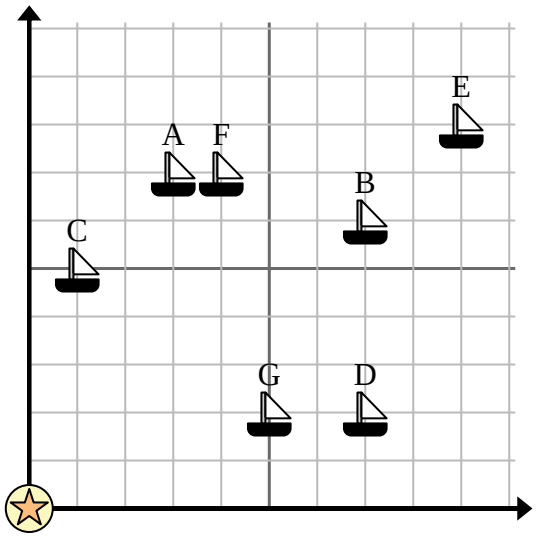

10) Quel navire se trouve à 7 miles à l'est et 2 miles au nord de la bouée ?

Réponses

1. _____
2. _____
3. _____
4. _____
5. _____
6. _____
7. _____
8. _____
9. _____
10. _____

1-10	90	80	70	60	50	40	30	20	10	0

Utilisation de grilles dans un contexte réel Nom: **Clé**

Utilisez la grille pour résoudre chaque problème.

= bien

= Château d'eau

= 1 Square Mile

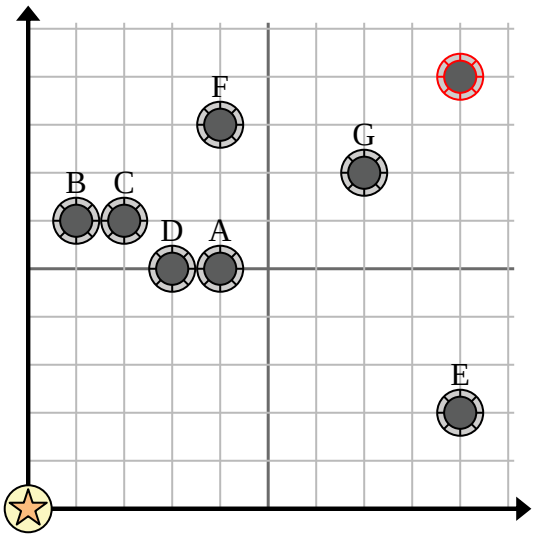

1) Une nouvelle loi dit que vous ne pouvez pas construire un puits à moins de 2 milles d'un puits préexistant. Si vous vouliez construire un puits à {_EST_} milles à l'est et 9 milles au nord du château d'eau, en auriez-vous le droit ?

2) Quel puits est le plus proche du château d'eau ?

3) Quel puits est le plus éloigné du château d'eau ?

4) Quel puits est plus loin north ? Eh bien F ou bien E ?

5) Si vous deviez aller à {_EST_} milles à l'est et 7 milles au nord du château d'eau, à quel puits vous retrouveriez-vous ?

6) Un nouveau navire voulait pêcher, mais le capitaine voulait s'assurer qu'ils se trouvaient à au moins 2 milles d'un autre navire. S'il naviguait 4 milles à l'est et 6 milles au nord, cet endroit lui conviendrait-il ?

7) Quel navire est le plus proche de la bouée ?

8) Quel navire est le plus éloigné de la bouée ?

9) Quel navire est plus loin south ? Expédier F ou expédier G ?

10) Quel navire se trouve à 7 miles à l'est et 2 miles au nord de la bouée ?

= Bateau

= Bouée

= 1 Square Mile

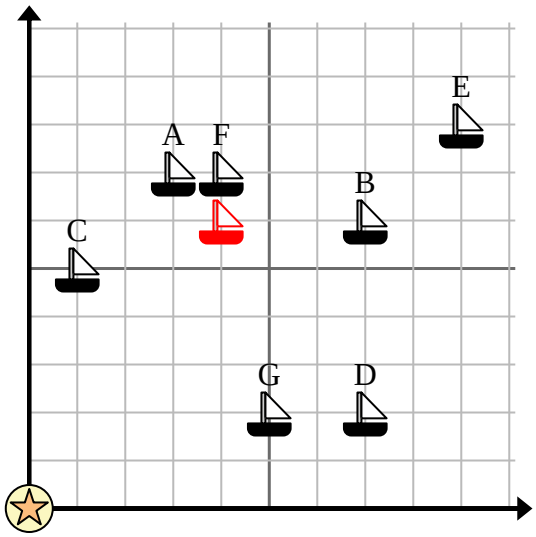

Réponses

1. oui
2. D
3. G
4. F
5. G
6. non
7. C
8. E
9. G
10. D

1-10	90	80	70	60	50	40	30	20	10	0

Utilisez la grille pour résoudre chaque problème.

= Station-essence

= Galerie marchande

= 1 Square Mile

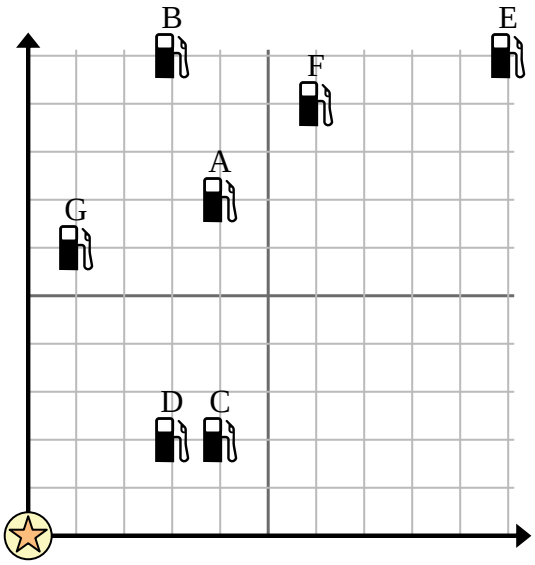

1) Les investisseurs voulaient construire une nouvelle station-service, mais voulaient s'assurer qu'elle se trouvait à au moins 2 milles d'une station préexistante. Devraient-ils construire une station-service à {_EST_} miles à l'est et 5 miles au nord du centre commercial ?

2) Quelle station-service est la plus proche du centre commercial ?

3) Quelle station-service est la plus éloignée du centre commercial ?

4) Quelle station-service est plus loin south ? Station G ou Station C ?

5) Si vous deviez aller à {_EST_} miles à l'est et 9 miles au nord du centre commercial, à quelle station-service vous retrouveriez-vous ?

6) Un nouveau navire voulait pêcher, mais le capitaine voulait s'assurer qu'ils se trouvaient à au moins 2 milles d'un autre navire. S'il naviguait 6 milles à l'est et 7 milles au nord, cet endroit lui conviendrait-il ?

7) Quel navire est le plus proche de la bouée ?

8) Quel navire est le plus éloigné de la bouée ?

9) Quel navire est plus loin south ? Expédier G ou expédier C ?

10) Quel navire se trouve à 5 miles à l'est et 2 miles au nord de la bouée ?

= Bateau

= Bouée

= 1 Square Mile

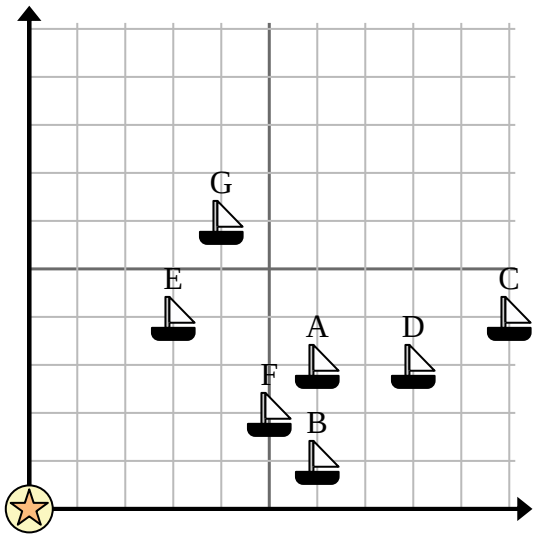

Réponses

1. _____
2. _____
3. _____
4. _____
5. _____
6. _____
7. _____
8. _____
9. _____
10. _____

1-10	90	80	70	60	50	40	30	20	10	0

Utilisation de grilles dans un contexte réel Nom: **Clé**

Utilisez la grille pour résoudre chaque problème.

= Station-essence

= Galerie marchande

= 1 Square Mile

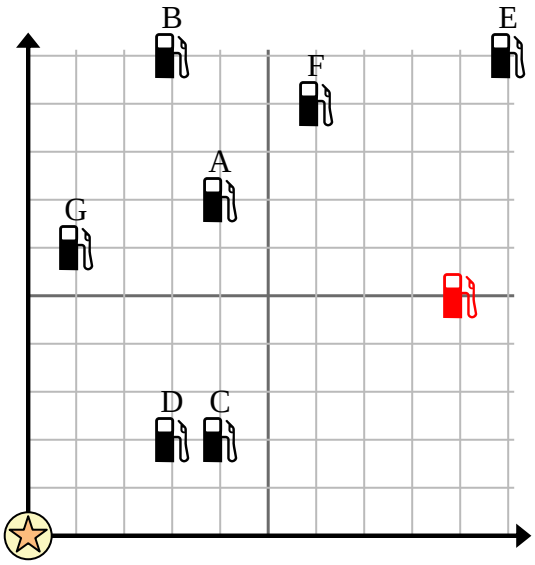

1) Les investisseurs voulaient construire une nouvelle station-service, mais voulaient s'assurer qu'elle se trouvait à au moins 2 milles d'une station préexistante. Devraient-ils construire une station-service à {_EST_} miles à l'est et 5 miles au nord du centre commercial ?

2) Quelle station-service est la plus proche du centre commercial ?

3) Quelle station-service est la plus éloignée du centre commercial ?

4) Quelle station-service est plus loin south ? Station G ou Station C ?

5) Si vous deviez aller à {_EST_} miles à l'est et 9 miles au nord du centre commercial, à quelle station-service vous retrouveriez-vous ?

6) Un nouveau navire voulait pêcher, mais le capitaine voulait s'assurer qu'ils se trouvaient à au moins 2 milles d'un autre navire. S'il naviguait 6 milles à l'est et 7 milles au nord, cet endroit lui conviendrait-il ?

= Bateau

= Bouée

= 1 Square Mile

7) Quel navire est le plus proche de la bouée ?

8) Quel navire est le plus éloigné de la bouée ?

9) Quel navire est plus loin south ? Expédier G ou expédier C ?

10) Quel navire se trouve à 5 miles à l'est et 2 miles au nord de la bouée ?

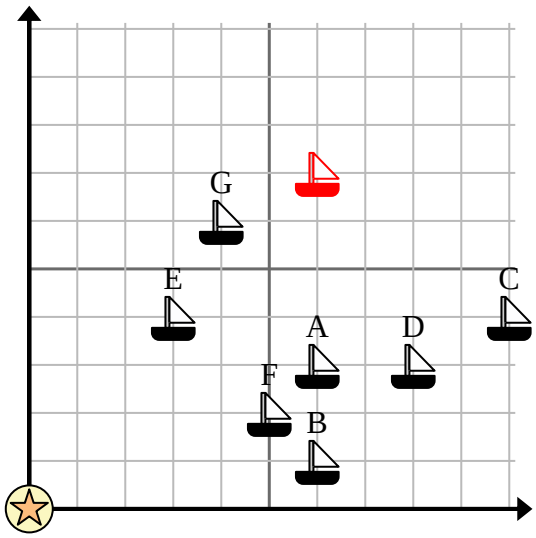

Réponses

1. oui
2. D
3. E
4. C
5. F
6. oui
7. E
8. C
9. C
10. F

1-10	90	80	70	60	50	40	30	20	10	0

Utilisez la grille pour résoudre chaque problème.

= Arrêt de bus

= L'école

= 1 Square Bloquer

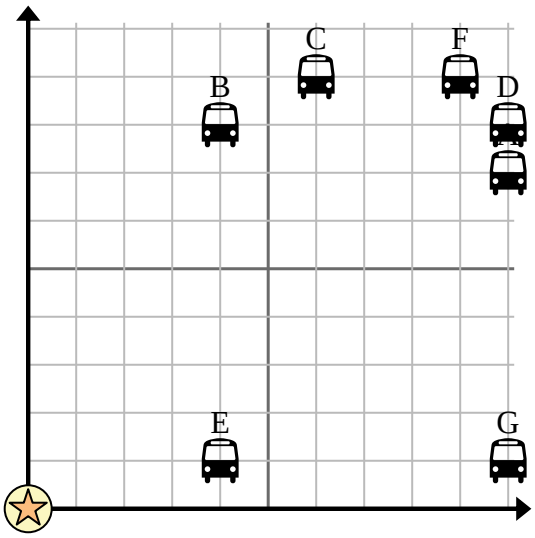

1) L'école voulait ajouter un nouvel arrêt de bus, mais voulait s'assurer qu'il se trouvait à au moins 2 pâtés de maisons d'un autre arrêt. S'ils ajoutaient un 7 blocs à l'est et 3 blocs au nord, cet endroit correspondrait-il à leurs besoins ?

2) Quel arrêt de bus est le plus proche de l'école ?

3) Quel arrêt de bus est le plus éloigné de l'école ?

4) Quel arrêt de bus est plus loin east ? Arrêter G ou arrêter A ?

5) Quel arrêt de bus se trouve à 4 blocs à l'est et 1 blocs au nord de l'école ?

6) Roberto voulait planter un nouvel arbre, mais voulait s'assurer qu'il se trouvait à au moins 2 mètres d'un arbre préexistant. Devrait-il planter un arbre à {_EST_} mètres à l'est et 8 mètres au nord de sa maison ?

7) Quel arbre est le plus proche de la maison ?

8) Quel arbre est le plus éloigné de la maison ?

9) Quel arbre est plus loin south ? Arbre D ou arbre A ?

10) Si vous deviez aller à {_EST_} mètres à l'est et 1 mètres au nord de la maison, à quel arbre vous retrouveriez-vous ?

= Arbre

= loger

= 1 Square Cour

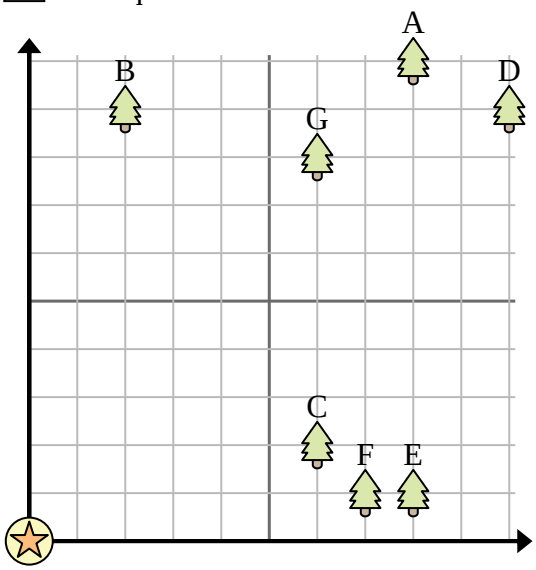

Réponses

1. _____
2. _____
3. _____
4. _____
5. _____
6. _____
7. _____
8. _____
9. _____
10. _____

1-10	90	80	70	60	50	40	30	20	10	0

Utilisation de grilles dans un contexte réel Nom: **Clé**

Utilisez la grille pour résoudre chaque problème.

= Arrêt de bus

= L'école

= 1 Square Bloquer

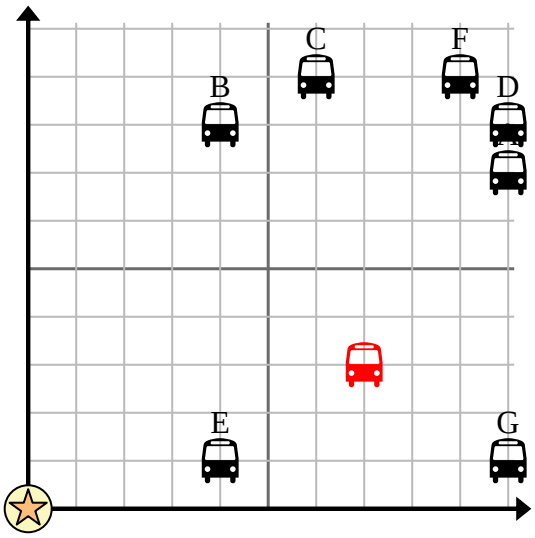

1) L'école voulait ajouter un nouvel arrêt de bus, mais voulait s'assurer qu'il se trouvait à au moins 2 pâtés de maisons d'un autre arrêt. S'ils ajoutaient un 7 blocs à l'est et 3 blocs au nord, cet endroit correspondrait-il à leurs besoins ?

2) Quel arrêt de bus est le plus proche de l'école ?

3) Quel arrêt de bus est le plus éloigné de l'école ?

4) Quel arrêt de bus est plus loin east ? Arrêter G ou arrêter A ?

5) Quel arrêt de bus se trouve à 4 blocs à l'est et 1 blocs au nord de l'école ?

6) Roberto voulait planter un nouvel arbre, mais voulait s'assurer qu'il se trouvait à au moins 2 mètres d'un arbre préexistant. Devrait-il planter un arbre à {_EST_} mètres à l'est et 8 mètres au nord de sa maison ?

7) Quel arbre est le plus proche de la maison ?

8) Quel arbre est le plus éloigné de la maison ?

9) Quel arbre est plus loin south ? Arbre D ou arbre A ?

10) Si vous deviez aller à {_EST_} mètres à l'est et 1 mètres au nord de la maison, à quel arbre vous retrouveriez-vous ?

= Arbre

= loger

= 1 Square Cour

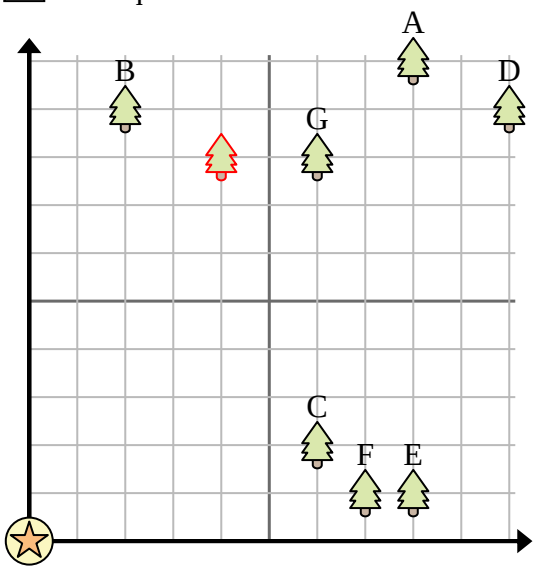

Réponses

1. oui
2. E
3. D
4. A
5. E
6. oui
7. C
8. D
9. D
10. E

1-10	90	80	70	60	50	40	30	20	10	0

Utilisez la grille pour résoudre chaque problème.

= Station-essence

= Galerie marchande

= 1 Square Mile

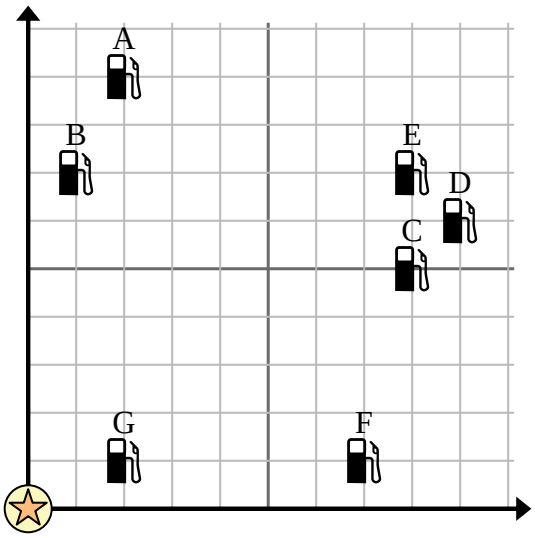

1) Les investisseurs voulaient construire une nouvelle station-service, mais voulaient s'assurer qu'elle se trouvait à au moins 2 milles d'une station préexistante. Devraient-ils construire une station-service à {_EST_} miles à l'est et 4 miles au nord du centre commercial ?

2) Quelle station-service est la plus proche du centre commercial ?

3) Quelle station-service est la plus éloignée du centre commercial ?

4) Quelle station-service est plus loin east ? Station C ou Station B ?

5) Si vous deviez aller à {_EST_} miles à l'est et 5 miles au nord du centre commercial, à quelle station-service vous retrouveriez-vous ?

6) Un nouveau navire voulait pêcher, mais le capitaine voulait s'assurer qu'ils se trouvaient à au moins 2 milles d'un autre navire. S'il naviguait 5 milles à l'est et 8 milles au nord, cet endroit lui conviendrait-il ?

7) Quel navire est le plus proche de la bouée ?

8) Quel navire est le plus éloigné de la bouée ?

9) Quel navire est plus loin south ? Expédier G ou expédier F ?

10) Quel navire se trouve à 2 miles à l'est et 4 miles au nord de la bouée ?

= Bateau

= Bouée

= 1 Square Mile

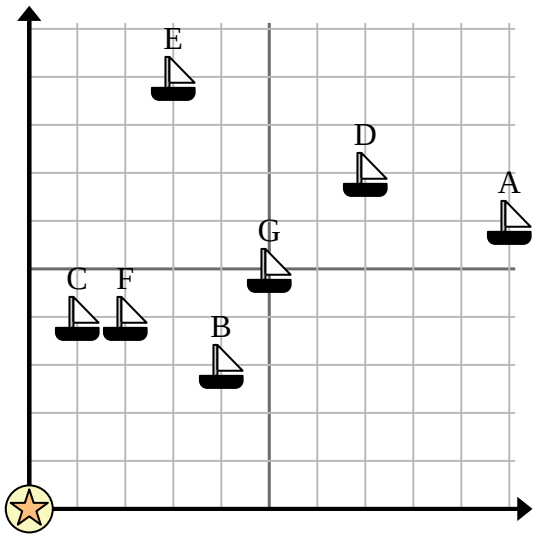

Réponses

1. _____
2. _____
3. _____
4. _____
5. _____
6. _____
7. _____
8. _____
9. _____
10. _____

1-10	90	80	70	60	50	40	30	20	10	0

Utilisation de grilles dans un contexte réel Nom: **Clé**

Utilisez la grille pour résoudre chaque problème.

= Station-essence

= Galerie marchande

= 1 Square Mile

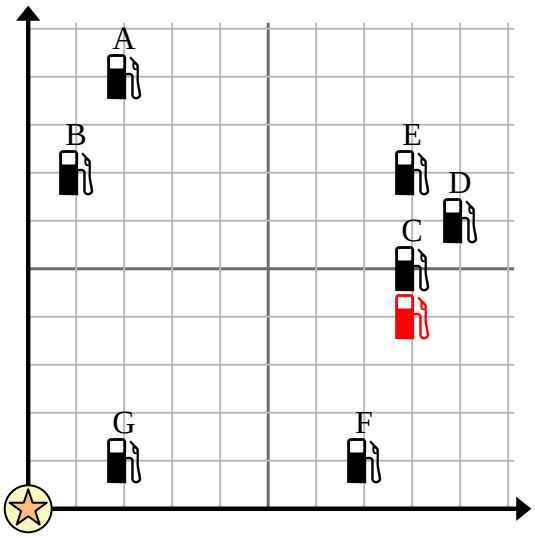

1) Les investisseurs voulaient construire une nouvelle station-service, mais voulaient s'assurer qu'elle se trouvait à au moins 2 milles d'une station préexistante. Devraient-ils construire une station-service à {_EST_} miles à l'est et 4 miles au nord du centre commercial ?

2) Quelle station-service est la plus proche du centre commercial ?

3) Quelle station-service est la plus éloignée du centre commercial ?

4) Quelle station-service est plus loin east ? Station C ou Station B ?

5) Si vous deviez aller à {_EST_} miles à l'est et 5 miles au nord du centre commercial, à quelle station-service vous retrouveriez-vous ?

6) Un nouveau navire voulait pêcher, mais le capitaine voulait s'assurer qu'ils se trouvaient à au moins 2 milles d'un autre navire. S'il naviguait 5 milles à l'est et 8 milles au nord, cet endroit lui conviendrait-il ?

7) Quel navire est le plus proche de la bouée ?

8) Quel navire est le plus éloigné de la bouée ?

9) Quel navire est plus loin south ? Expédier G ou expédier F ?

10) Quel navire se trouve à 2 miles à l'est et 4 miles au nord de la bouée ?

= Bateau

= Bouée

= 1 Square Mile

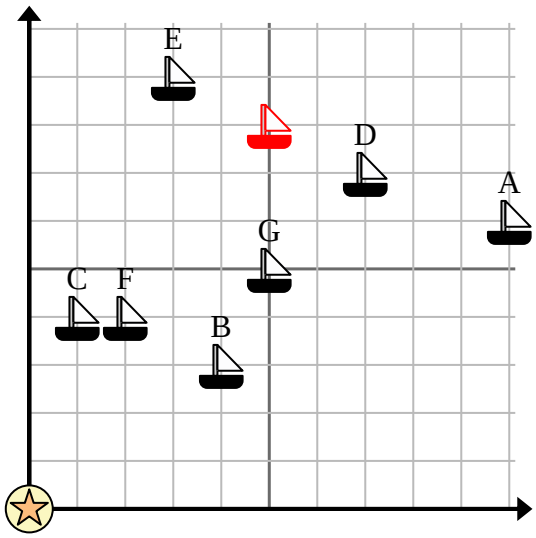

Réponses

1. non
2. G
3. D
4. C
5. C
6. oui
7. C
8. A
9. F
10. F

1-10	90	80	70	60	50	40	30	20	10	0

Utilisez la grille pour résoudre chaque problème.

= Arrêt de bus

= L'école

= 1 Square Bloquer

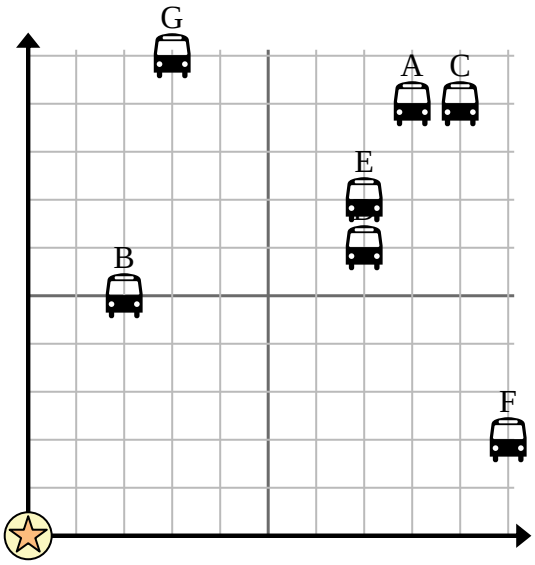

1) L'école voulait ajouter un nouvel arrêt de bus, mais voulait s'assurer qu'il se trouvait à au moins 2 pâtés de maisons d'un autre arrêt. S'ils ajoutaient un 7 blocs à l'est et 4 blocs au nord, cet endroit correspondrait-il à leurs besoins ?

2) Quel arrêt de bus est le plus proche de l'école ?

3) Quel arrêt de bus est le plus éloigné de l'école ?

4) Quel arrêt de bus est plus loin west ? Arrêter D ou arrêter C ?

5) Quel arrêt de bus se trouve à 3 blocs à l'est et 10 blocs au nord de l'école ?

6) Marco voulait planter un nouvel arbre, mais voulait s'assurer qu'il se trouvait à au moins 2 mètres d'un arbre préexistant. Devrait-il planter un arbre à {_EST_} mètres à l'est et 7 mètres au nord de sa maison ?

7) Quel arbre est le plus proche de la maison ?

8) Quel arbre est le plus éloigné de la maison ?

9) Quel arbre est plus loin west ? Arbre A ou arbre F ?

10) Si vous deviez aller à {_EST_} mètres à l'est et 6 mètres au nord de la maison, à quel arbre vous retrouveriez-vous ?

= Arbre

= loger

= 1 Square Cour

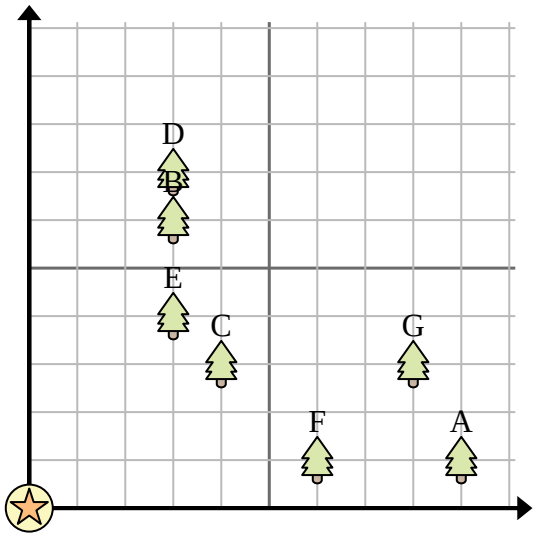

Réponses

1. _____
2. _____
3. _____
4. _____
5. _____
6. _____
7. _____
8. _____
9. _____
10. _____

1-10	90	80	70	60	50	40	30	20	10	0

Utilisation de grilles dans un contexte réel Nom: **Clé**

Utilisez la grille pour résoudre chaque problème.

= Arrêt de bus

= L'école

= 1 Square Bloquer

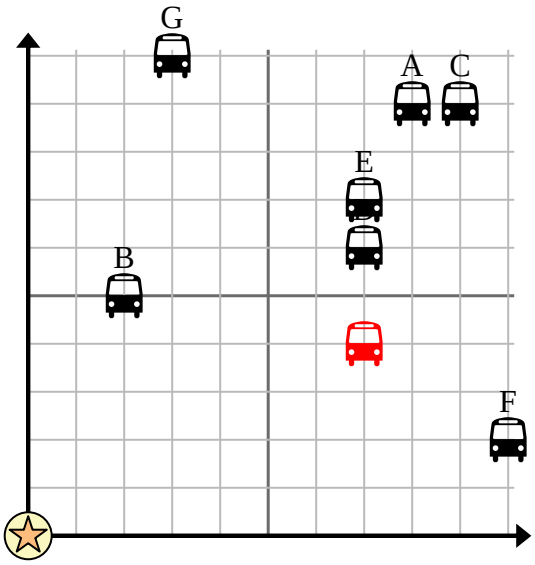

1) L'école voulait ajouter un nouvel arrêt de bus, mais voulait s'assurer qu'il se trouvait à au moins 2 pâtés de maisons d'un autre arrêt. S'ils ajoutaient un 7 blocs à l'est et 4 blocs au nord, cet endroit correspondrait-il à leurs besoins ?

2) Quel arrêt de bus est le plus proche de l'école ?

3) Quel arrêt de bus est le plus éloigné de l'école ?

4) Quel arrêt de bus est plus loin west ? Arrêter D ou arrêter C ?

5) Quel arrêt de bus se trouve à 3 blocs à l'est et 10 blocs au nord de l'école ?

6) Marco voulait planter un nouvel arbre, mais voulait s'assurer qu'il se trouvait à au moins 2 mètres d'un arbre préexistant. Devrait-il planter un arbre à {_EST_} mètres à l'est et 7 mètres au nord de sa maison ?

7) Quel arbre est le plus proche de la maison ?

8) Quel arbre est le plus éloigné de la maison ?

9) Quel arbre est plus loin west ? Arbre A ou arbre F ?

10) Si vous deviez aller à {_EST_} mètres à l'est et 6 mètres au nord de la maison, à quel arbre vous retrouveriez-vous ?

= Arbre

= loger

= 1 Square Cour

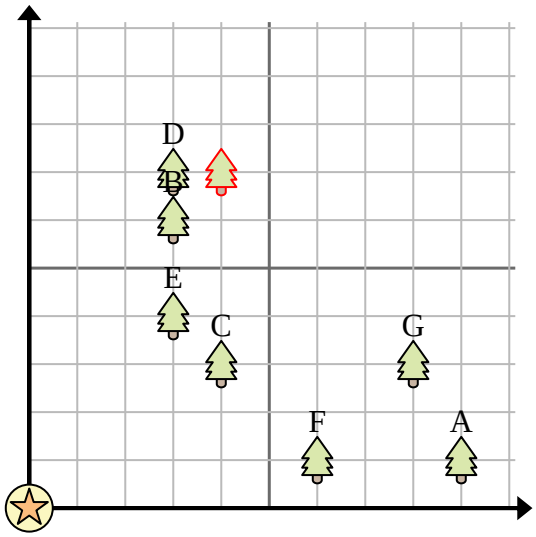

Réponses

1. oui
2. B
3. C
4. D
5. G
6. non
7. C
8. A
9. F
10. B

1-10	90	80	70	60	50	40	30	20	10	0