Tracer une ligne avec un taux de variation différent

Nom:

Esquissez votre droite puis répondez avec votre pente.

1) Sketch a line with a Y intercept of 6 and a smaller rate of change than: $Y = {}^{-6}/_{-1} + 6$



2) Esquissez une ligne avec une intersection Y de 9 et un taux de variation supérieur à : $Y = {}^{-1}/_{9} + 9$



3) Esquissez une ligne avec une intersection Y de -9 et un taux de variation supérieur à : $Y = {}^{-4}/_{6} - 9$



4) Esquissez une ligne avec une intersection Y de -3 et un taux de variation supérieur à : $Y = {}^{-4}/_{-2} - 3$



5) Esquissez une ligne avec une intersection Y de 6 et un taux de variation supérieur à : $Y = {}^{-4}/_{6} + 6$

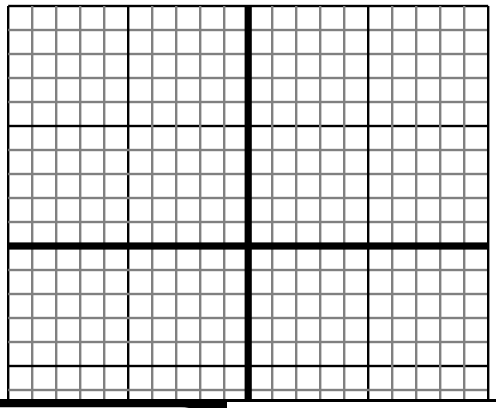

6) Esquissez une ligne avec une intersection Y de 0 et un taux de variation supérieur à : $Y = {}^{-1}/_{8} + 0$

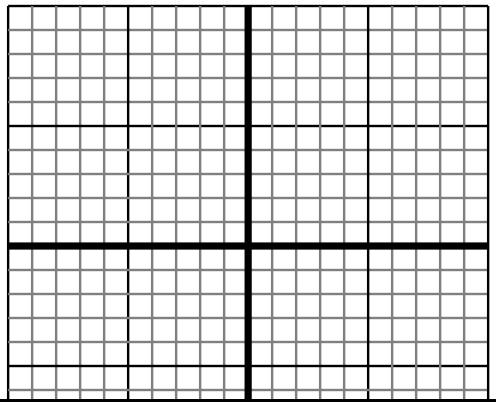

Réponses

1. _____
2. _____
3. _____
4. _____
5. _____
6. _____

1-6	83	67	50	33	17	0

Tracer une ligne avec un taux de variation différent Nom: **Clé**

Esquissez votre droite puis répondez avec votre pente.

1) Sketch a line with a Y intercept of 6 and a smaller rate of change than: $Y = {}^{-6}/_{-1} + 6$

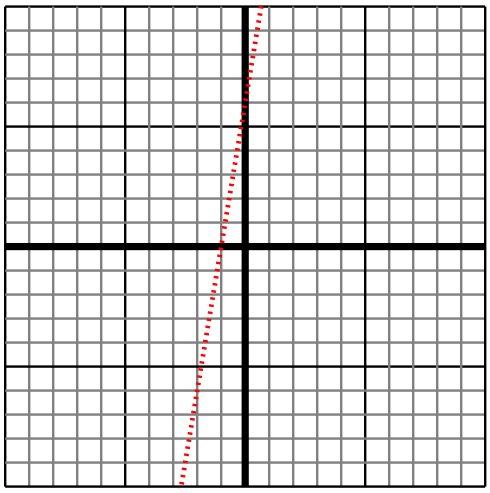

2) Esquissez une ligne avec une intersection Y de 9 et un taux de variation supérieur à : $Y = {}^{-1}/_{9} + 9$

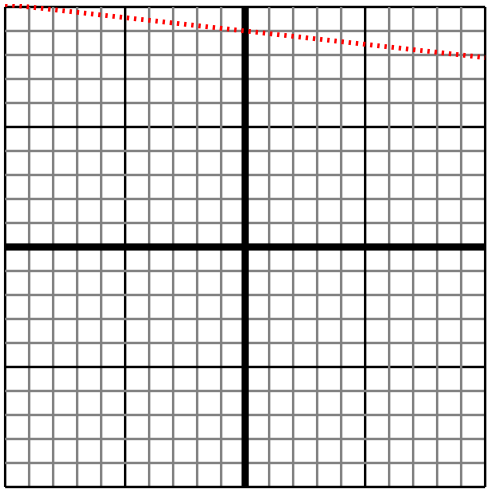

3) Esquissez une ligne avec une intersection Y de -9 et un taux de variation supérieur à : $Y = {}^{-4}/_{6} - 9$

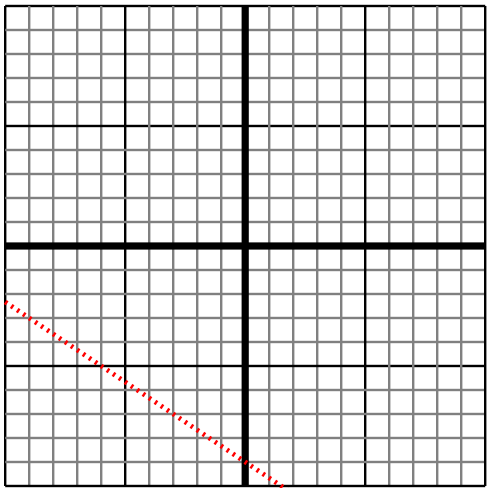

4) Esquissez une ligne avec une intersection Y de -3 et un taux de variation supérieur à : $Y = {}^{-4}/_{-2} - 3$

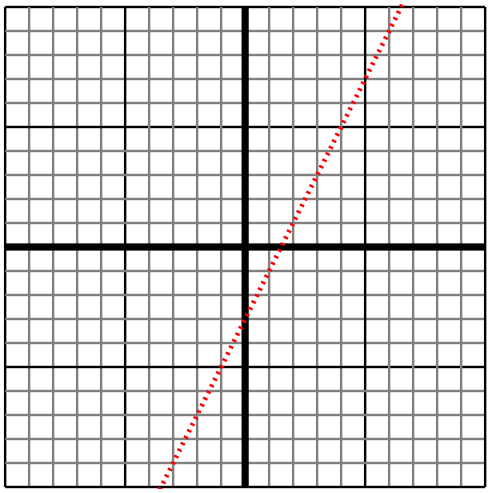

5) Esquissez une ligne avec une intersection Y de 6 et un taux de variation supérieur à : $Y = {}^{-4}/_{6} + 6$

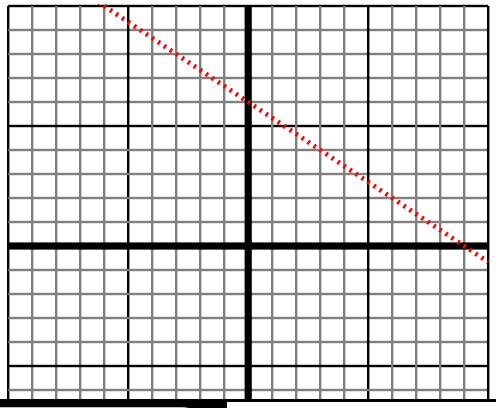

6) Esquissez une ligne avec une intersection Y de 0 et un taux de variation supérieur à : $Y = {}^{-1}/_{8} + 0$

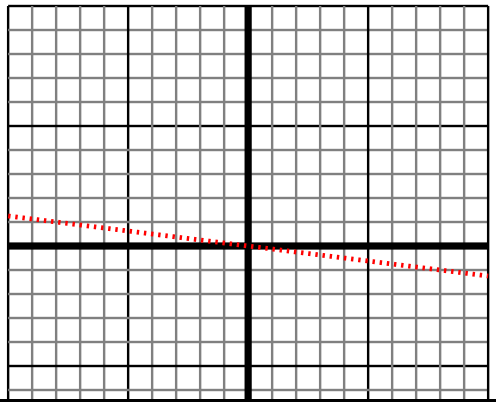

Réponses

1. $< |{}^{-6}/_{-1}|$
2. $> |{}^{-1}/_{9}|$
3. $> |{}^{-4}/_{6}|$
4. $> |{}^{-4}/_{-2}|$
5. $> |{}^{-4}/_{6}|$
6. $> |{}^{-1}/_{8}|$

1-6	83	67	50	33	17	0