Déterminer le pourcentage de chances de spinner

Nom:

Résoudre chaque problème. Arrondissez votre réponse au dixième près.

1)

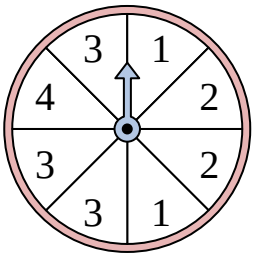

Le spinner a un % de chance {BLANC} d'atterrir sur un 3.

2)

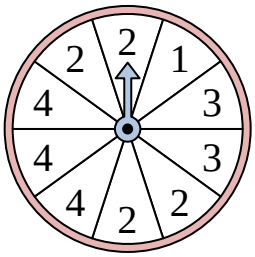

Le spinner a un % de chance {BLANC} d'atterrir sur un 4.

3)

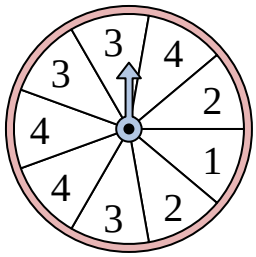

Le spinner a un % de chance {BLANC} d'atterrir sur un 3.

4)

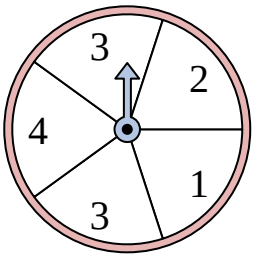

Le spinner a un % de chance {BLANC} d'atterrir sur un 1.

5)

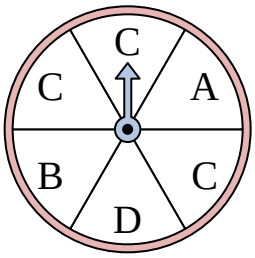

Le spinner a un % de chance {BLANC} d'atterrir sur un C.

6)

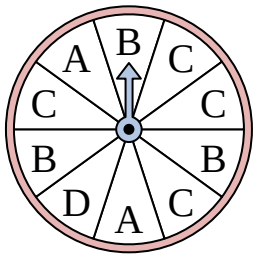

Le spinner a un % de chance {BLANC} d'atterrir sur un D.

7)

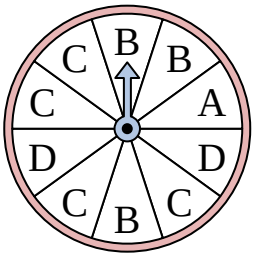

Le spinner a un % de chance {BLANC} d'atterrir sur un A.

8)

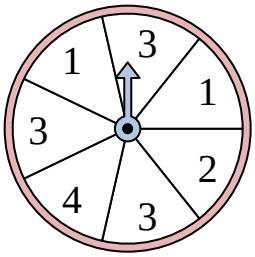

Le spinner a un % de chance {BLANC} d'atterrir sur un 3.

9)

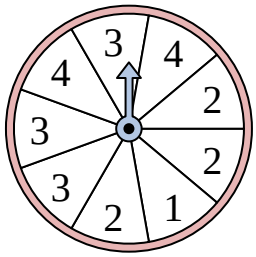

Le spinner a un % de chance {BLANC} d'atterrir sur un 4.

10)

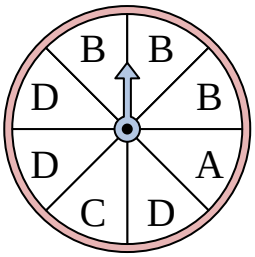

Le spinner a un % de chance {BLANC} d'atterrir sur un B.

11)

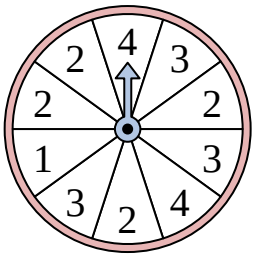

Le spinner a un % de chance {BLANC} d'atterrir sur un 1.

12)

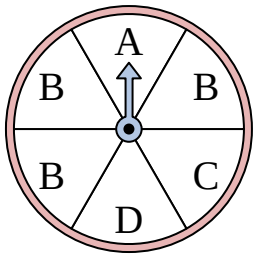

Le spinner a un % de chance {BLANC} d'atterrir sur un C.

Réponses

1. _____
2. _____
3. _____
4. _____
5. _____
6. _____
7. _____
8. _____
9. _____
10. _____
11. _____
12. _____

1-10	92	83	75	67	58	50	42	33	25	17
11-12	8	0								

Déterminer le pourcentage de chances de spinner Nom: **Clé**

Résoudre chaque problème. Arrondissez votre réponse au dixième près.

1)

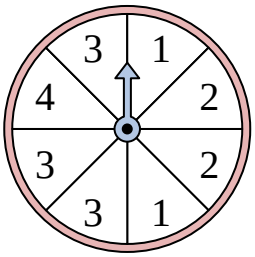

Le spinner a un % de chance {BLANC} d'atterrir sur un 3.

2)

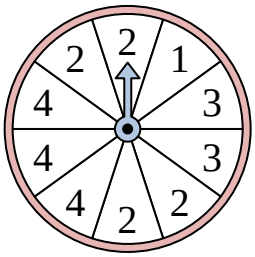

Le spinner a un % de chance {BLANC} d'atterrir sur un 4.

3)

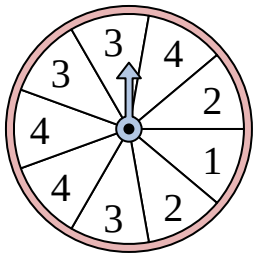

Le spinner a un % de chance {BLANC} d'atterrir sur un 3.

4)

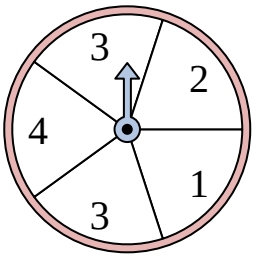

Le spinner a un % de chance {BLANC} d'atterrir sur un 1.

5)

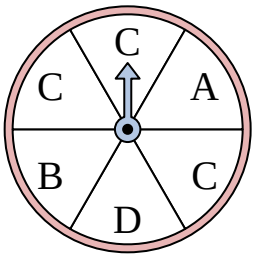

Le spinner a un % de chance {BLANC} d'atterrir sur un C.

6)

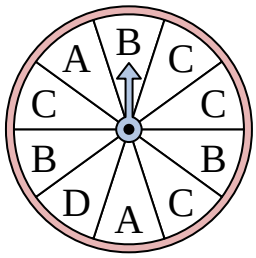

Le spinner a un % de chance {BLANC} d'atterrir sur un D.

7)

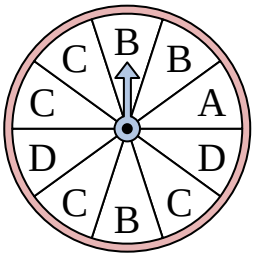

Le spinner a un % de chance {BLANC} d'atterrir sur un A.

8)

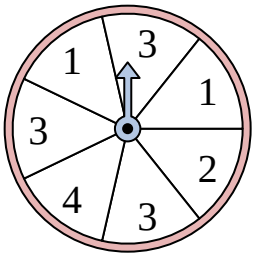

Le spinner a un % de chance {BLANC} d'atterrir sur un 3.

9)

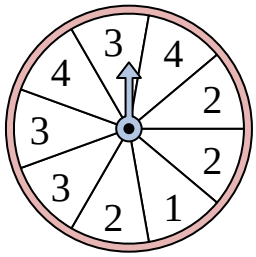

Le spinner a un % de chance {BLANC} d'atterrir sur un 4.

10)

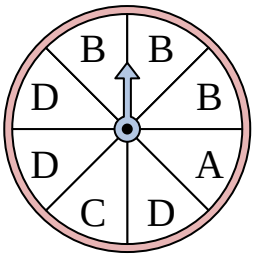

Le spinner a un % de chance {BLANC} d'atterrir sur un B.

11)

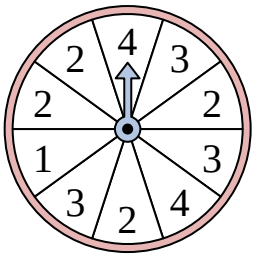

Le spinner a un % de chance {BLANC} d'atterrir sur un 1.

12)

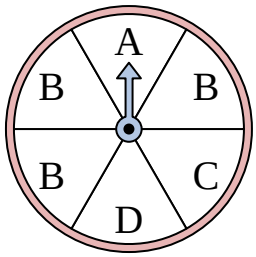

Le spinner a un % de chance {BLANC} d'atterrir sur un C.

Réponses

1. 37,5
2. 30
3. 33,3
4. 20
5. 50
6. 10
7. 10
8. 42,9
9. 22,2
10. 37,5
11. 10
12. 16,7

1-10	92	83	75	67	58	50	42	33	25	17
11-12	8	0								