Identifier des Ratios Visuels

Nom:

Résoudre chaque problème.

Ex) Quel est le ration de moons par rapport à carrés?

1) Quel est le ration de carrés par rapport à pentagone?

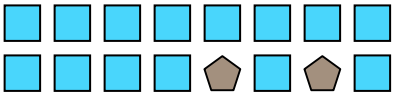

2) Quel est le ration de étoiles par rapport à triangles?

3) Quel est le ration de étoiles par rapport à triangles?



4) Quel est le ration de moons par rapport à cercles?



5) Quel est le ration de carrés par rapport à pentagone?

6) Quel est le ration de triangles par rapport à carrés?

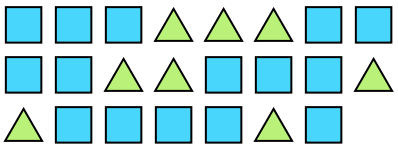

7) Quel est le ration de étoiles par rapport à cercles?



8) Quel est le ration de étoiles par rapport à hearts?

9) Quel est le ration de triangles par rapport à pentagone?

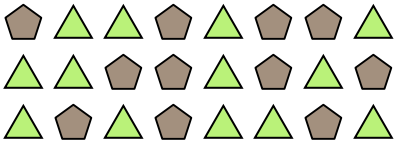

10) Quel est le ration de cercles par rapport à moons?

11) Quel est le ration de hearts par rapport à étoiles?

Réponses

Ex. 6:2

1. _____
2. _____
3. _____
4. _____
5. _____
6. _____
7. _____
8. _____
9. _____
10. _____
11. _____

1-10	91	82	73	64	55	45	36	27	18	9
11	0									

Identifier des Ratios Visuels

Nom: **Clé**

Résoudre chaque problème.

Ex) Quel est le ration de moons par rapport à carrés?

1) Quel est le ration de carrés par rapport à pentagone?

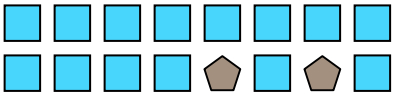

2) Quel est le ration de étoiles par rapport à triangles?

3) Quel est le ration de étoiles par rapport à triangles?



4) Quel est le ration de moons par rapport à cercles?



5) Quel est le ration de carrés par rapport à pentagone?

6) Quel est le ration de triangles par rapport à carrés?

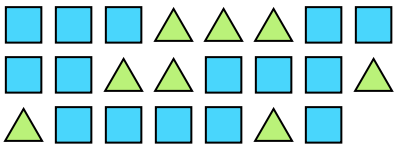

7) Quel est le ration de étoiles par rapport à cercles?



8) Quel est le ration de étoiles par rapport à hearts?

9) Quel est le ration de triangles par rapport à pentagone?

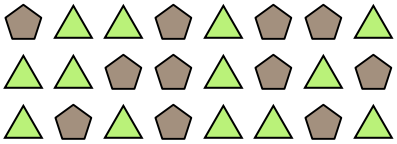

10) Quel est le ration de cercles par rapport à moons?

11) Quel est le ration de hearts par rapport à étoiles?

Réponses

Ex.	6:2
1.	14:2
2.	11:8
3.	13:12
4.	5:9
5.	4:3
6.	8:15
7.	9:15
8.	6:7
9.	13:11
10.	3:2
11.	3:9

1-10	91	82	73	64	55	45	36	27	18	9
11	0									