Identifier la Figure la Plus et la Moins Présente

Nom:

Comparez le nombre de figures.

1)



Y a-t-il plus de ou de ?

A.

B.

2)



Y a-t-il moins de ou de ?

A.

B.

3)

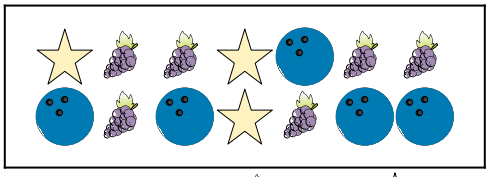

Y a-t-il moins de ou de ?

A.

B.

4)



Y a-t-il moins de ou de ?

A.

B.

5)



Y a-t-il plus de ou de ?

A.

B.

6)

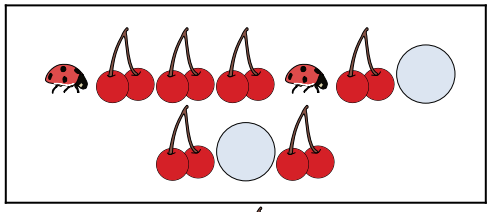

Y a-t-il moins de ou de ?

A.

B.

Réponses

1. _____
2. _____
3. _____
4. _____
5. _____
6. _____

1-6	83	67	50	33	17	0

Identifier la Figure la Plus et la Moins Présente Nom: **Clé**

Comparez le nombre de figures.

1)



Y a-t-il plus de ou de ?

A.

B.

2)



Y a-t-il moins de ou de ?

A.

B.

3)

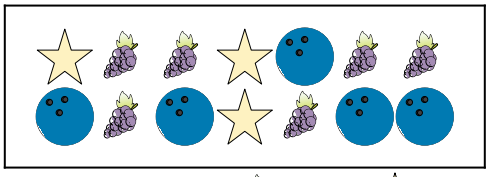

Y a-t-il moins de ou de ?

A.

B.

4)



Y a-t-il moins de ou de ?

A.

B.

5)



Y a-t-il plus de ou de ?

A.

B.

6)

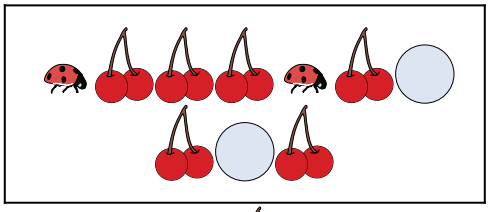

Y a-t-il moins de ou de ?

A.

B.

Réponses

1. **B**
2. **B**
3. **B**
4. **B**
5. **A**
6. **B**

1-6	83	67	50	33	17	0